Construis un graphique en images · Cahier

Trie les images par type. Commence à la première case de chaque rangée. Utilise le graphique de la partie 2 pour répondre.

Prénom: _____ Date: _____

Dépôt de véhicules

1 **Dessine un objet par case dans la bonne rangée.**

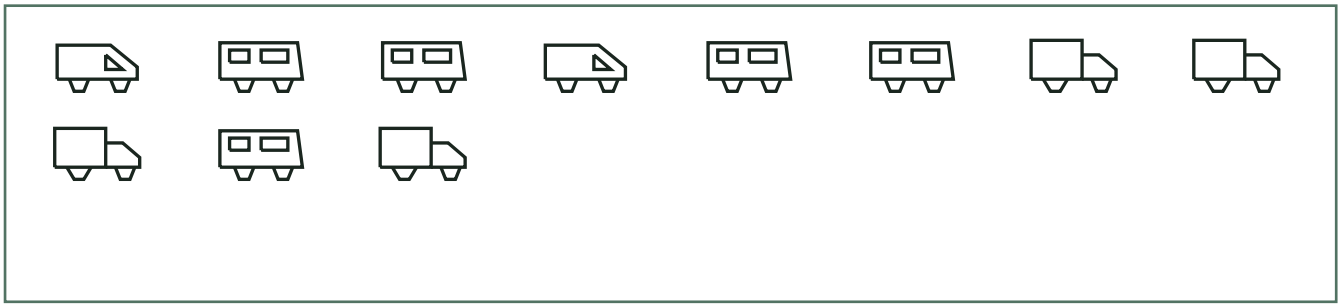

A					
B					
C					

2 **Lis ce graphique en images.**

A					
B					
C					

a) Quel groupe a le plus d’objets ? **B**

b) Combien d’objets y a-t-il dans le groupe C ? **2**

Construis un graphique en images · Cahier

Trie les images par type. Commence à la première case de chaque rangée. Utilise le graphique de la partie 2 pour répondre.

Prénom: _____ Date: _____

Abri de jardin

1 **Dessine un objet par case dans la bonne rangée.**

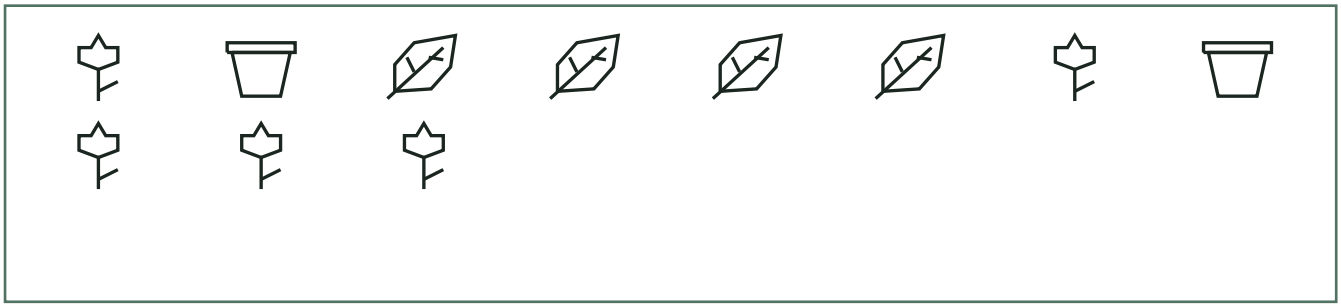

A					
B					
C					

2 **Lis ce graphique en images.**

A					
B					
C					

a) Quel groupe a le plus d’objets ? **C**

b) Combien d’objets y a-t-il dans le groupe A ? **3**

Construis un graphique en images · Cahier

Trie les images par type. Commence à la première case de chaque rangée. Utilise le graphique de la partie 2 pour répondre.

Prénom: _____ Date: _____

Établi

1 **Dessine un objet par case dans la bonne rangée.**

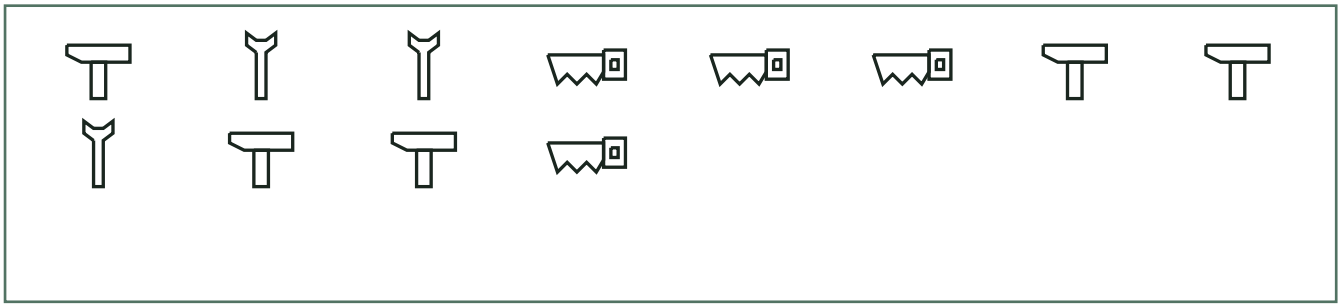

A					
B					
C					

2 **Lis ce graphique en images.**

A					
B					
C					

a) Quel groupe a le plus d'objets ? **C**

b) Combien d'objets y a-t-il dans le groupe A ? **4**

Construis un graphique en images · Cahier

Trie les images par type. Commence à la première case de chaque rangée. Utilise le graphique de la partie 2 pour répondre.

Prénom: _____ Date: _____

Panier de pique-nique

1 **Dessine un objet par case dans la bonne rangée.**

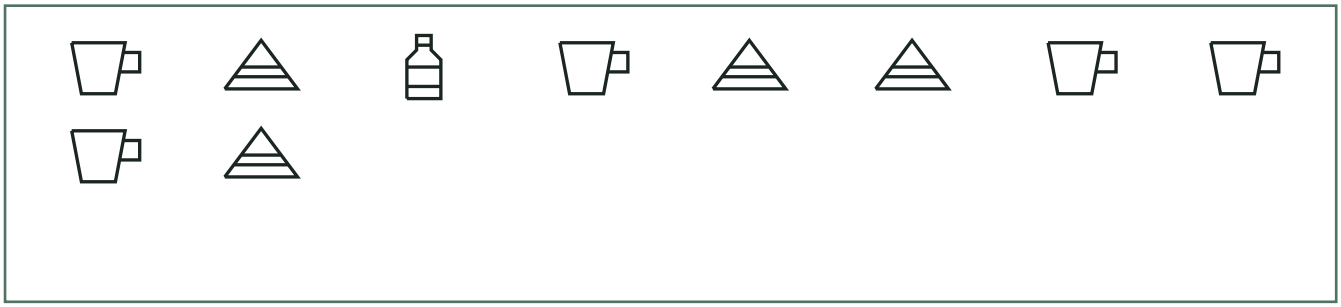

A	1				
B	4	4	4	4	4
C	4	4	4	4	

2 **Lis ce graphique en images.**

A	5	5	5	5	5
B	2	2			
C	4	4	4	4	

a) Quel groupe a le plus d’objets ? **A**

b) Combien d’objets y a-t-il dans le groupe C ? **4**

Construis un graphique en images · Cahier

Trie les images par type. Commence à la première case de chaque rangée. Utilise le graphique de la partie 2 pour répondre.

Prénom: _____ Date: _____

Dans le ciel

1 **Dessine un objet par case dans la bonne rangée.**



A	☆	☆	☆			
B	◈	◈	◈	◈		
C	🚀	🚀	🚀	🚀	🚀	

2 **Lis ce graphique en images.**

A	☆	☆	☆	☆	☆	
B	◈					
C	🚀	🚀				

a) Quel groupe a le plus d'objets ? **A**

b) Combien d'objets y a-t-il dans le groupe C ? **2**