Construis un graphique en images · Cahier

Trie les images par type. Commence à la première case de chaque rangée. Utilise le graphique de la partie 2 pour répondre.

Prénom: _____ Date: _____

Dépôt de véhicules

1 **Dessine un objet par case dans la bonne rangée.**



A					
B					
C					

2 **Lis ce graphique en images.**

A					
B					
C					

a) Quel groupe a le plus d’objets ?

b) Combien d’objets y a-t-il dans le groupe C ?

Construis un graphique en images · Cahier

Trie les images par type. Commence à la première case de chaque rangée. Utilise le graphique de la partie 2 pour répondre.

Prénom: _____ Date: _____

Abri de jardin

1 **Dessine un objet par case dans la bonne rangée.**

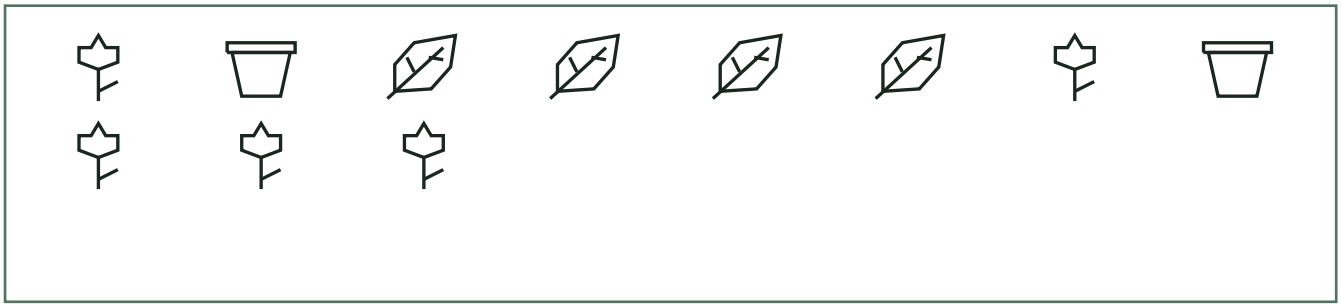

A					
B					
C					

2 **Lis ce graphique en images.**

A					
B					
C					

a) Quel groupe a le plus d’objets ?

b) Combien d’objets y a-t-il dans le groupe A ?

Construis un graphique en images · Cahier

Trie les images par type. Commence à la première case de chaque rangée. Utilise le graphique de la partie 2 pour répondre.

Prénom: _____ Date: _____

Établi

1 **Dessine un objet par case dans la bonne rangée.**

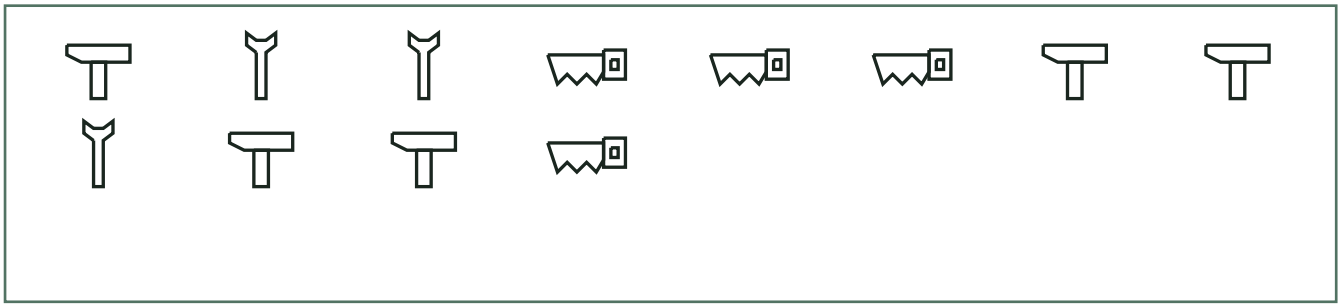

A					
B					
C					

2 **Lis ce graphique en images.**

A					
B					
C					

a) Quel groupe a le plus d’objets ?

b) Combien d’objets y a-t-il dans le groupe A ?

Construis un graphique en images · Cahier

Trie les images par type. Commence à la première case de chaque rangée. Utilise le graphique de la partie 2 pour répondre.

Prénom: _____ Date: _____

Panier de pique-nique

1 **Dessine un objet par case dans la bonne rangée.**

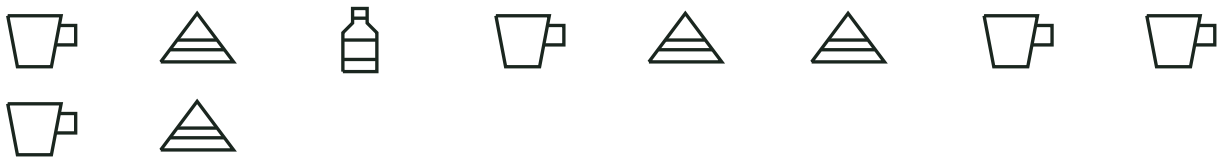

A					
B					
C					

2 **Lis ce graphique en images.**

A					
B					
C					

a) Quel groupe a le plus d’objets ?

b) Combien d’objets y a-t-il dans le groupe C ?

Construis un graphique en images · Cahier

Trie les images par type. Commence à la première case de chaque rangée. Utilise le graphique de la partie 2 pour répondre.

Prénom: _____ Date: _____

Dans le ciel

1 **Dessine un objet par case dans la bonne rangée.**



A ☆					
B ◈					
C 🚀					

2 **Lis ce graphique en images.**

A ☆	☆	☆	☆	☆	
B ◈	◈				
C 🚀	🚀	🚀			

a) Quel groupe a le plus d’objets ? ☐

b) Combien d’objets y a-t-il dans le groupe C ? ☐