Construye un gráfico con dibujos · Cuaderno

Clasifica los dibujos. Empieza por la primera casilla de cada fila. Usa el gráfico de la parte 2 para responder.

Nombre: _____ Fecha: _____

Cochera

1 **Dibuja un objeto por casilla en su fila.**

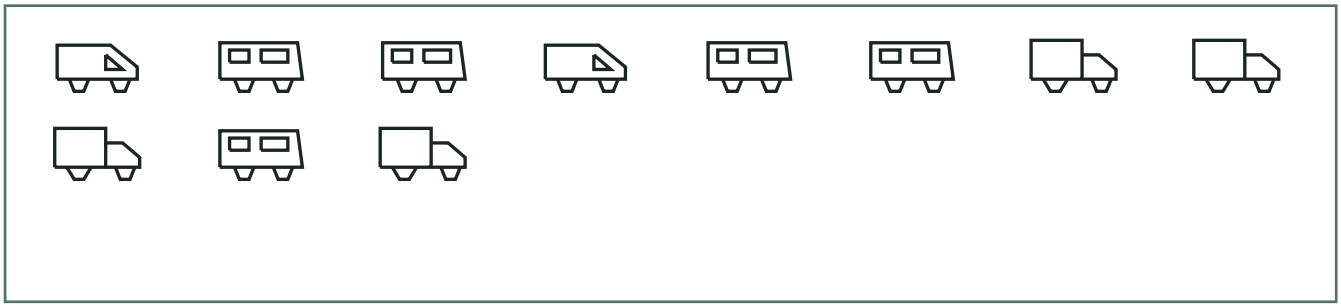

A					
B					
C					

2 **Lee este gráfico de dibujos.**

A					
B					
C					

a) ¿Qué grupo tiene más objetos? **B**

b) ¿Cuántos objetos hay en el grupo C? **2**

Construye un gráfico con dibujos · Cuaderno

Clasifica los dibujos. Empieza por la primera casilla de cada fila. Usa el gráfico de la parte 2 para responder.

Nombre: _____ Fecha: _____

Cobertizo del jardín

1 **Dibuja un objeto por casilla en su fila.**

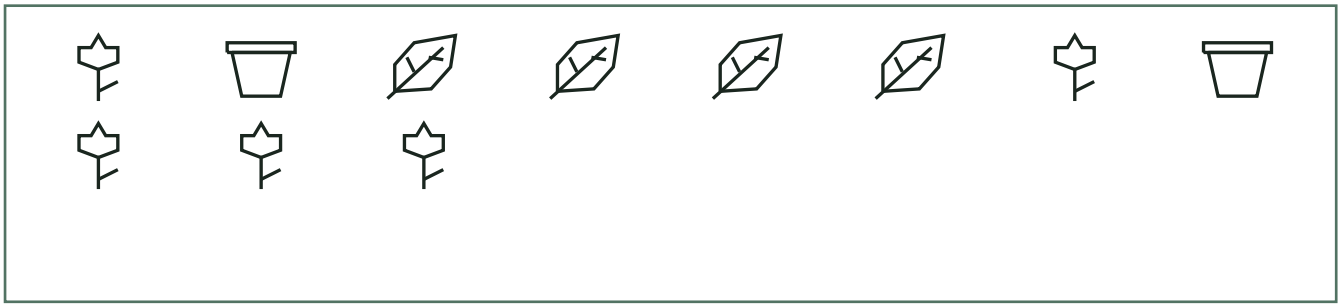

A					
B					
C					

2 **Lee este gráfico de dibujos.**

A					
B					
C					

a) ¿Qué grupo tiene más objetos? **C**

b) ¿Cuántos objetos hay en el grupo A? **3**

Construye un gráfico con dibujos · Cuaderno

Clasifica los dibujos. Empieza por la primera casilla de cada fila. Usa el gráfico de la parte 2 para responder.

Nombre: _____ Fecha: _____

Banco de trabajo

1 **Dibuja un objeto por casilla en su fila.**

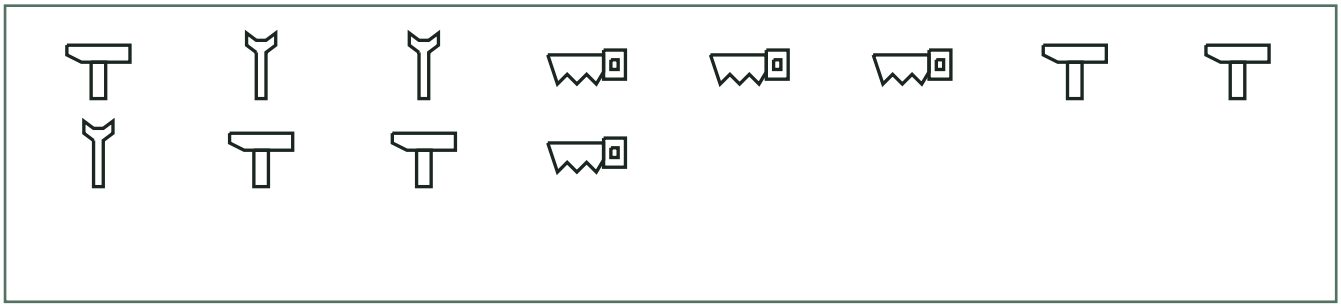

A					
B					
C					

2 **Lee este gráfico de dibujos.**

A					
B					
C					

a) ¿Qué grupo tiene más objetos? **C**

b) ¿Cuántos objetos hay en el grupo A? **4**

Construye un gráfico con dibujos · Cuaderno

Clasifica los dibujos. Empieza por la primera casilla de cada fila. Usa el gráfico de la parte 2 para responder.

Nombre: _____ Fecha: _____

Cesta de picnic

1 **Dibuja un objeto por casilla en su fila.**

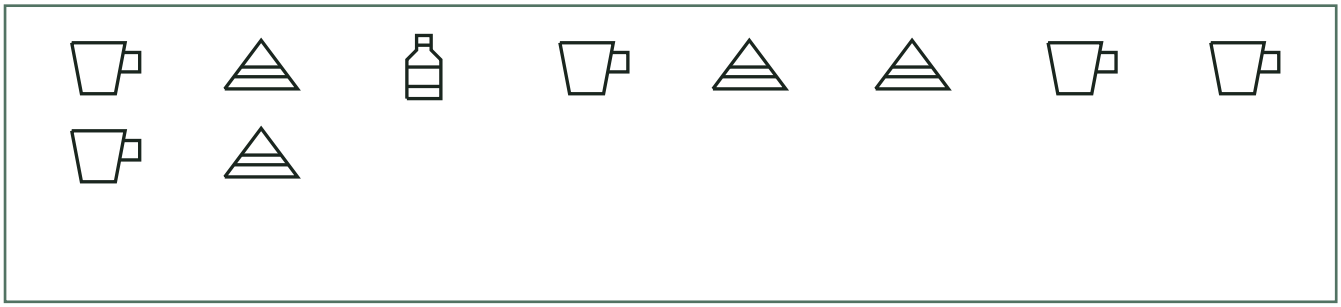

A					
B					
C					

2 **Lee este gráfico de dibujos.**

A					
B					
C					

a) ¿Qué grupo tiene más objetos? **A**

b) ¿Cuántos objetos hay en el grupo C? **4**

Construye un gráfico con dibujos · Cuaderno

Clasifica los dibujos. Empieza por la primera casilla de cada fila. Usa el gráfico de la parte 2 para responder.

Nombre: _____ Fecha: _____

En el cielo

1 **Dibuja un objeto por casilla en su fila.**



A ☆	☆	☆			
B ◈	◈	◈	◈		
C 🚀	🚀	🚀	🚀	🚀	🚀

2 **Lee este gráfico de dibujos.**

A ☆	☆	☆	☆	☆	
B ◈	◈				
C 🚀	🚀	🚀			

a) ¿Qué grupo tiene más objetos? **A**

b) ¿Cuántos objetos hay en el grupo C? **2**