Construye un gráfico con dibujos · Cuaderno

Clasifica los dibujos. Empieza por la primera casilla de cada fila. Usa el gráfico de la parte 2 para responder.

Nombre: _____ Fecha: _____

Cochera

1 **Dibuja un objeto por casilla en su fila.**

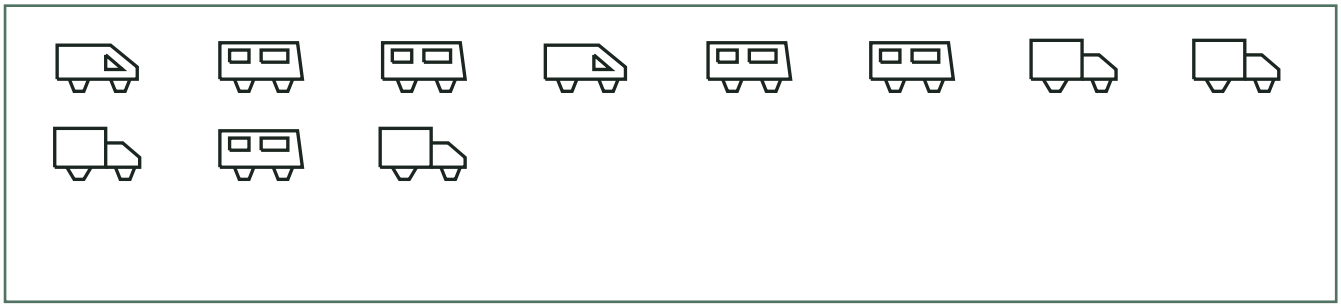

A					
B					
C					

2 **Lee este gráfico de dibujos.**

A	1				
B	1	1	1	1	
C	1	1			

a) ¿Qué grupo tiene más objetos? _____

b) ¿Cuántos objetos hay en el grupo C? _____

Construye un gráfico con dibujos · Cuaderno

Clasifica los dibujos. Empieza por la primera casilla de cada fila. Usa el gráfico de la parte 2 para responder.

Nombre: _____ Fecha: _____

Cobertizo del jardín

1 **Dibuja un objeto por casilla en su fila.**

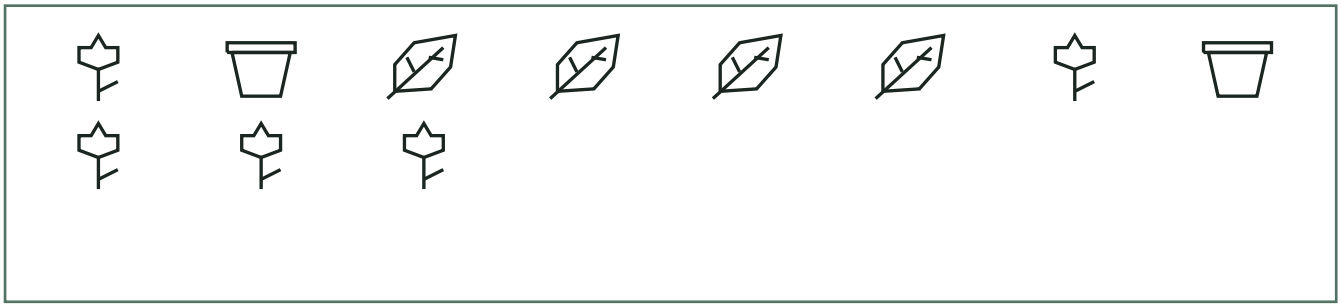

A					
B					
C					

2 **Lee este gráfico de dibujos.**

A					
B					
C					

a) ¿Qué grupo tiene más objetos? _____

b) ¿Cuántos objetos hay en el grupo A? _____

Construye un gráfico con dibujos · Cuaderno

Clasifica los dibujos. Empieza por la primera casilla de cada fila. Usa el gráfico de la parte 2 para responder.

Nombre: _____ Fecha: _____

Banco de trabajo

1 **Dibuja un objeto por casilla en su fila.**



A					
B					
C					

2 **Lee este gráfico de dibujos.**

A					
B					
C					

a) ¿Qué grupo tiene más objetos? ☐

b) ¿Cuántos objetos hay en el grupo A? ☐

Construye un gráfico con dibujos · Cuaderno

Clasifica los dibujos. Empieza por la primera casilla de cada fila. Usa el gráfico de la parte 2 para responder.

Nombre: _____ Fecha: _____

Cesta de picnic

1 **Dibuja un objeto por casilla en su fila.**

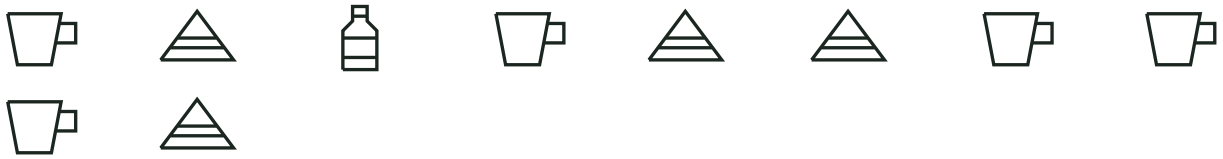

A					
B					
C					

2 **Lee este gráfico de dibujos.**

A					
B					
C					

a) ¿Qué grupo tiene más objetos? ☐

b) ¿Cuántos objetos hay en el grupo C? ☐

Construye un gráfico con dibujos · Cuaderno

Clasifica los dibujos. Empieza por la primera casilla de cada fila. Usa el gráfico de la parte 2 para responder.

Nombre: _____ Fecha: _____

En el cielo

1 **Dibuja un objeto por casilla en su fila.**



A ☆					
B ◈					
C 🚀					

2 **Lee este gráfico de dibujos.**

A ☆	☆	☆	☆	☆	
B ◈	◈				
C 🚀	🚀	🚀			

a) ¿Qué grupo tiene más objetos? _____

b) ¿Cuántos objetos hay en el grupo C? _____