Ein Bilddiagramm erstellen · Übungsheft

Sortiere die Bilder. Beginne in jeder Reihe beim ersten Kästchen. Beantworte die Fragen mit dem Diagramm in Teil 2.

Name: _____ Datum: _____

Fahrzeugdepot

1 **Zeichne je ein passendes Bild in die Kästchen.**

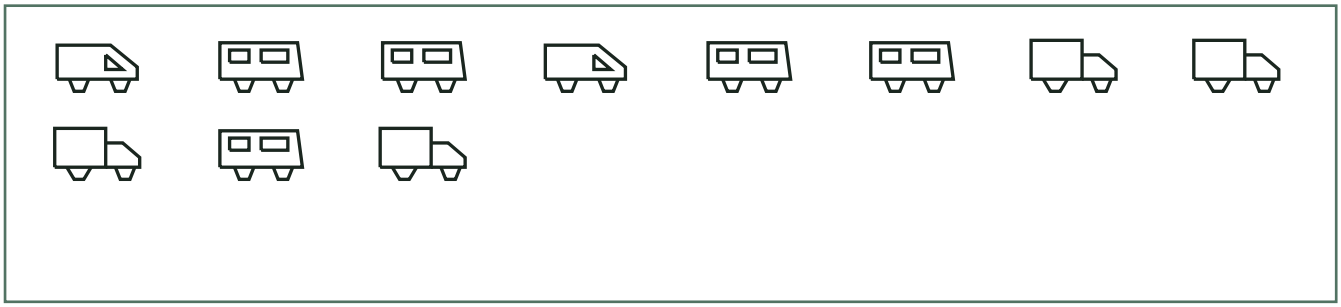

A					
B					
C					

2 **Lies das Bilddiagramm.**

A					
B					
C					

a) In welcher Gruppe sind die meisten Dinge? **B**

b) Wie viele Dinge sind in Gruppe C? **2**

Ein Bilddiagramm erstellen · Übungsheft

Sortiere die Bilder. Beginne in jeder Reihe beim ersten Kästchen. Beantworte die Fragen mit dem Diagramm in Teil 2.

Name: _____ Datum: _____

Gartenhaus

1 **Zeichne je ein passendes Bild in die Kästchen.**

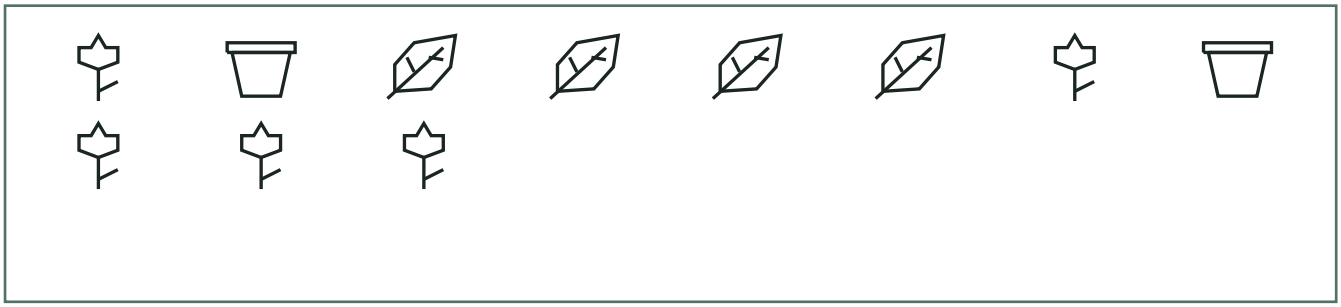

A					
B					
C					

2 **Lies das Bilddiagramm.**

A					
B					
C					

a) In welcher Gruppe sind die meisten Dinge? **C**

b) Wie viele Dinge sind in Gruppe A? **3**

Ein Bilddiagramm erstellen · Übungsheft

Sortiere die Bilder. Beginne in jeder Reihe beim ersten Kästchen. Beantworte die Fragen mit dem Diagramm in Teil 2.

Name: _____ Datum: _____

Werkbank

1 **Zeichne je ein passendes Bild in die Kästchen.**

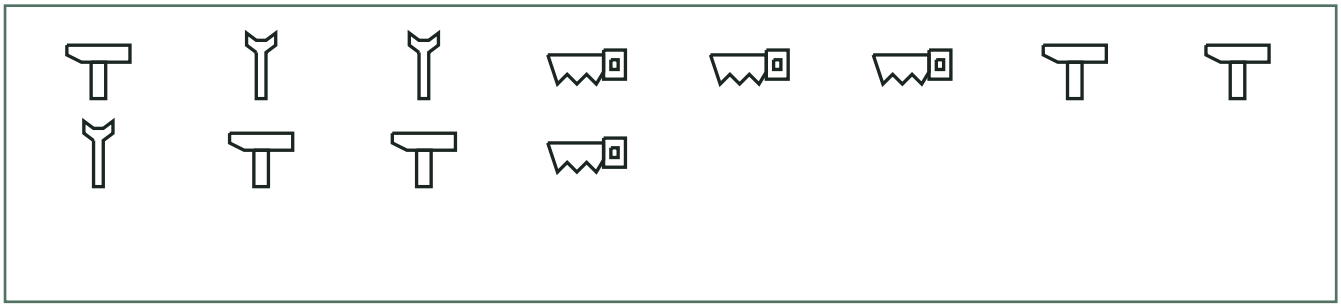

A					
B					
C					

2 **Lies das Bilddiagramm.**

A					
B					
C					

a) In welcher Gruppe sind die meisten Dinge? **C**

b) Wie viele Dinge sind in Gruppe A? **4**

Ein Bilddiagramm erstellen · Übungsheft

Sortiere die Bilder. Beginne in jeder Reihe beim ersten Kästchen. Beantworte die Fragen mit dem Diagramm in Teil 2.

Name: _____ Datum: _____

Picknickkorb

1 **Zeichne je ein passendes Bild in die Kästchen.**

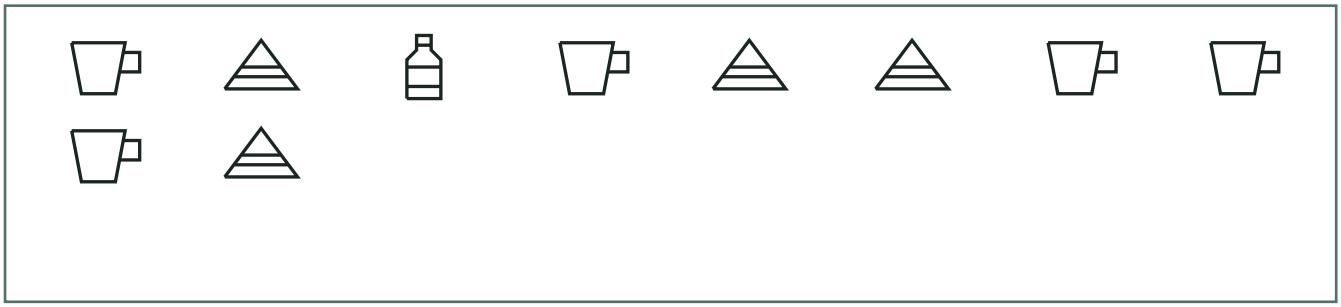

A					
B					
C					

2 **Lies das Bilddiagramm.**

A					
B					
C					

a) In welcher Gruppe sind die meisten Dinge? **A**

b) Wie viele Dinge sind in Gruppe C? **4**

Ein Bilddiagramm erstellen · Übungsheft

Sortiere die Bilder. Beginne in jeder Reihe beim ersten Kästchen. Beantworte die Fragen mit dem Diagramm in Teil 2.

Name: _____ Datum: _____

Am Himmel

1 **Zeichne je ein passendes Bild in die Kästchen.**





2 **Lies das Bilddiagramm.**



a) In welcher Gruppe sind die meisten Dinge? **A**

b) Wie viele Dinge sind in Gruppe C? **2**