Ein Bilddiagramm erstellen · Übungsheft

Sortiere die Bilder. Beginne in jeder Reihe beim ersten Kästchen. Beantworte die Fragen mit dem Diagramm in Teil 2.

Name: _____ Datum: _____

Fahrzeugdepot

1 **Zeichne je ein passendes Bild in die Kästchen.**

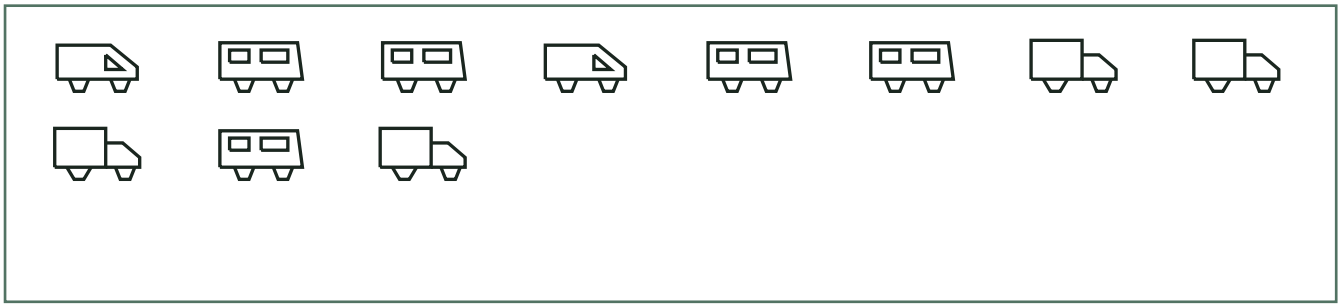

A					
B					
C					

2 **Lies das Bilddiagramm.**

A					
B					
C					

a) In welcher Gruppe sind die meisten Dinge? _____

b) Wie viele Dinge sind in Gruppe C? _____

Ein Bilddiagramm erstellen · Übungsheft

Sortiere die Bilder. Beginne in jeder Reihe beim ersten Kästchen. Beantworte die Fragen mit dem Diagramm in Teil 2.

Name: _____ Datum: _____

Gartenhaus

1 **Zeichne je ein passendes Bild in die Kästchen.**

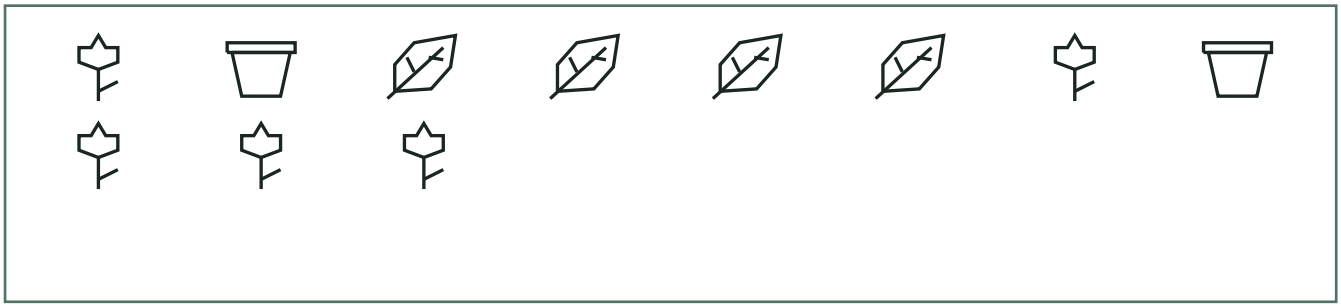

A					
B					
C					

2 **Lies das Bilddiagramm.**

A					
B					
C					

a) In welcher Gruppe sind die meisten Dinge?

b) Wie viele Dinge sind in Gruppe A?

Ein Bilddiagramm erstellen · Übungsheft

Sortiere die Bilder. Beginne in jeder Reihe beim ersten Kästchen. Beantworte die Fragen mit dem Diagramm in Teil 2.

Name: _____ Datum: _____

Werkbank

1 **Zeichne je ein passendes Bild in die Kästchen.**

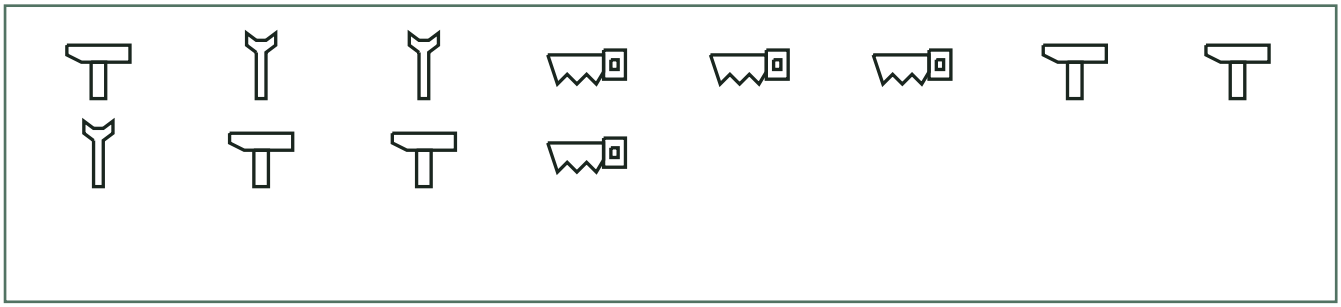

A					
B					
C					

2 **Lies das Bilddiagramm.**

A					
B					
C					

a) In welcher Gruppe sind die meisten Dinge?

b) Wie viele Dinge sind in Gruppe A?

Ein Bilddiagramm erstellen · Übungsheft

Sortiere die Bilder. Beginne in jeder Reihe beim ersten Kästchen. Beantworte die Fragen mit dem Diagramm in Teil 2.

Name: _____ Datum: _____

Picknickkorb

1 **Zeichne je ein passendes Bild in die Kästchen.**

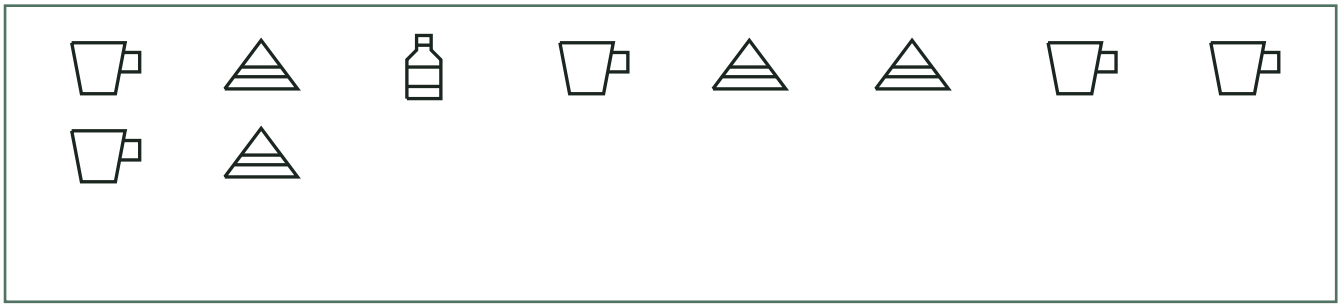

A					
B					
C					

2 **Lies das Bilddiagramm.**

A					
B					
C					

a) In welcher Gruppe sind die meisten Dinge?

b) Wie viele Dinge sind in Gruppe C?

Ein Bilddiagramm erstellen · Übungsheft

Sortiere die Bilder. Beginne in jeder Reihe beim ersten Kästchen. Beantworte die Fragen mit dem Diagramm in Teil 2.

Name: _____ Datum: _____

Am Himmel

1 **Zeichne je ein passendes Bild in die Kästchen.**



A ☆					
B ◈					
C 🚀					

2 **Lies das Bilddiagramm.**

A ☆	☆	☆	☆	☆	
B ◈	◈				
C 🚀	🚀	🚀			

a) In welcher Gruppe sind die meisten Dinge? ☐

b) Wie viele Dinge sind in Gruppe C? ☐