Compare des graphiques gradués · Cahier

Lis les nombres sur l’échelle pour trouver la valeur des barres. Utilise le diagramme de droite pour répondre.

Prénom: _____ Date: _____

Dépôt de véhicules

1 **Trace les barres avec le tableau. Compte de 3 en 3.**

A Camion	B Fourgon	C Train	D Bus
9	6	3	15

2 **Lis le diagramme gradué.**

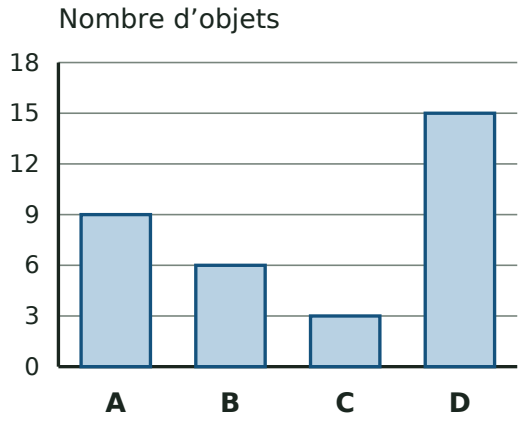

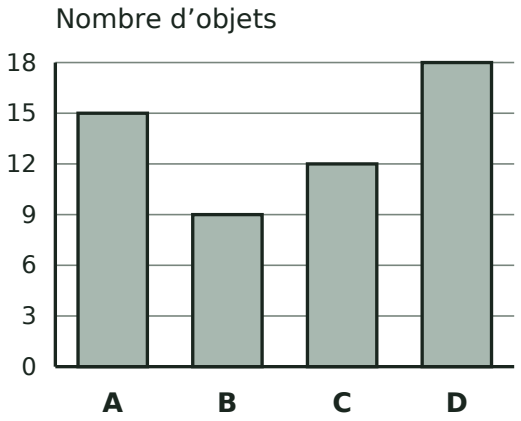

a) Quel groupe a le plus d’objets ? **D**

b) Combien y a-t-il d’objets en tout dans les groupes D et A ? **33**

c) Combien d’objets le groupe D a-t-il de plus que le groupe A ? **3**

Compare des graphiques gradués · Cahier

Lis les nombres sur l’échelle pour trouver la valeur des barres. Utilise le diagramme de droite pour répondre.

Prénom: _____ Date: _____

Abri de jardin

1 **Trace les barres avec le tableau. Compte de 5 en 5.**

A Pelle	B Feuille	C Pot	D Fleur
30	15	25	5

2 **Lis le diagramme gradué.**

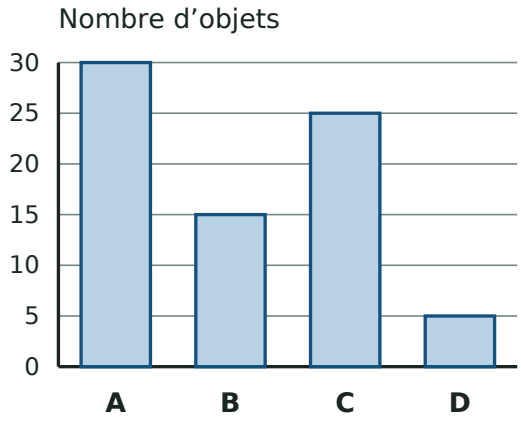

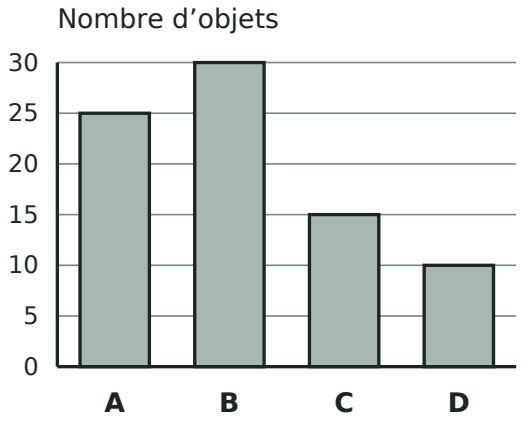

a) Quel groupe a le plus d’objets ? **B**

b) Combien y a-t-il d’objets en tout dans les groupes B et A ? **55**

c) Combien d’objets le groupe B a-t-il de plus que le groupe A ? **5**

Compare des graphiques gradués · Cahier

Lis les nombres sur l’échelle pour trouver la valeur des barres. Utilise le diagramme de droite pour répondre.

Prénom: _____ Date: _____

Établi

1 **Trace les barres avec le tableau. Compte de 2 en 2.**

A Scie	B Marteau	C Pinceau	D Clé
10	8	12	6

2 **Lis le diagramme gradué.**

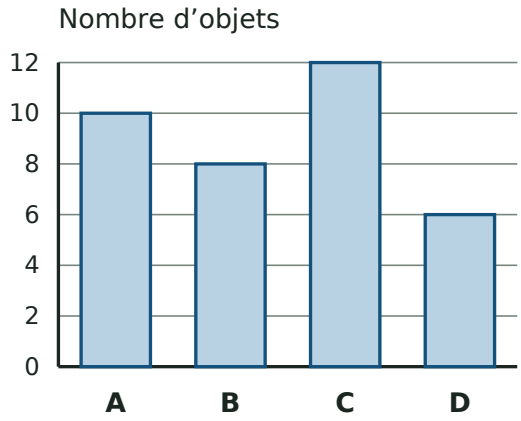

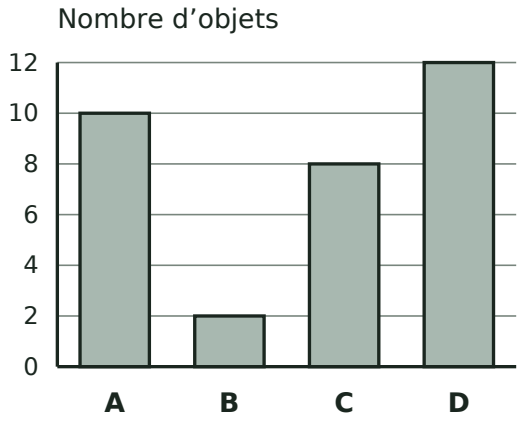

a) Quel groupe a le plus d’objets ? **D**

b) Combien y a-t-il d’objets en tout dans les groupes D et A ? **22**

c) Combien d’objets le groupe D a-t-il de plus que le groupe A ? **2**

Compare des graphiques gradués · Cahier

Lis les nombres sur l’échelle pour trouver la valeur des barres. Utilise le diagramme de droite pour répondre.

Prénom: _____ Date: _____

Panier de pique-nique

1 **Trace les barres avec le tableau. Compte de 3 en 3.**

A Tasse	B Sandwich	C Serviette	D Bouteille
12	9	3	15

2 **Lis le diagramme gradué.**

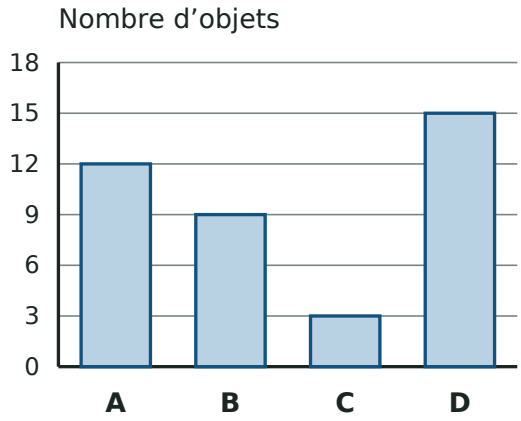

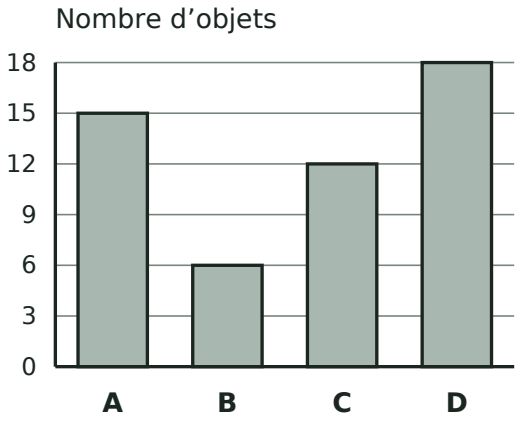

a) Quel groupe a le plus d’objets ? **D**

b) Combien y a-t-il d’objets en tout dans les groupes D et A ? **33**

c) Combien d’objets le groupe D a-t-il de plus que le groupe A ? **3**

Compare des graphiques gradués · Cahier

Lis les nombres sur l’échelle pour trouver la valeur des barres. Utilise le diagramme de droite pour répondre.

Prénom: _____ Date: _____

Dans le ciel

1 **Trace les barres avec le tableau. Compte de 5 en 5.**

A Cerf-volant	B Étoile	C Avion	D Fusée
30	15	25	5

2 **Lis le diagramme gradué.**

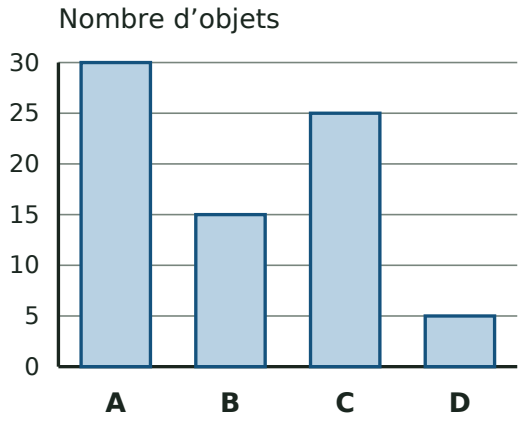

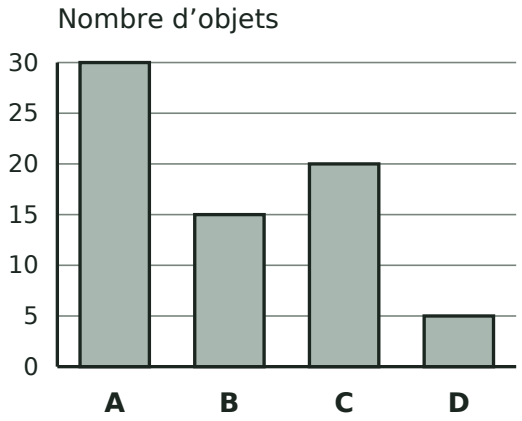

a) Quel groupe a le plus d’objets ? **A**

b) Combien y a-t-il d’objets en tout dans les groupes A et C ? **50**

c) Combien d’objets le groupe A a-t-il de plus que le groupe C ? **10**