Compare des graphiques gradués · Cahier

Lis les nombres sur l’échelle pour trouver la valeur des barres. Utilise le diagramme de droite pour répondre.

Prénom: _____ Date: _____

Dépôt de véhicules

1 **Trace les barres avec le tableau. Compte de 3 en 3.**

A Camion	B Fourgon	C Train	D Bus
9	6	3	15

2 **Lis le diagramme gradué.**

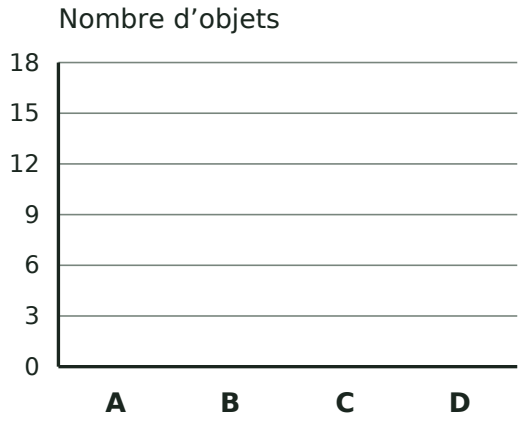

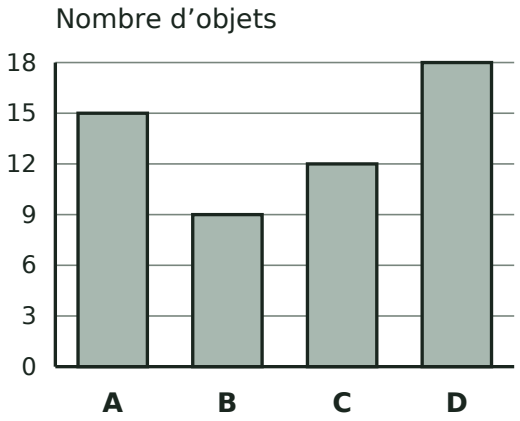

a) Quel groupe a le plus d’objets ? ☐

b) Combien y a-t-il d’objets en tout dans les groupes D et A ? ☐

c) Combien d’objets le groupe D a-t-il de plus que le groupe A ? ☐

Compare des graphiques gradués · Cahier

Lis les nombres sur l’échelle pour trouver la valeur des barres. Utilise le diagramme de droite pour répondre.

Prénom: _____ Date: _____

Abri de jardin

1 **Trace les barres avec le tableau. Compte de 5 en 5.**

A Pelle	B Feuille	C Pot	D Fleur
30	15	25	5

2 **Lis le diagramme gradué.**

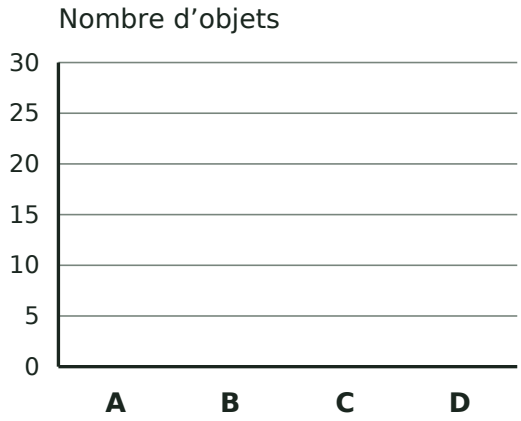

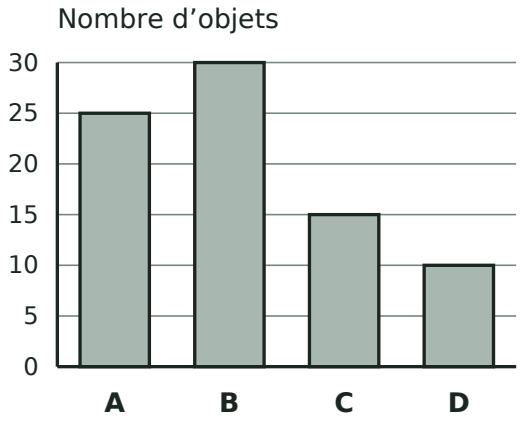

a) Quel groupe a le plus d’objets ? ☐

b) Combien y a-t-il d’objets en tout dans les groupes B et A ? ☐

c) Combien d’objets le groupe B a-t-il de plus que le groupe A ? ☐

Compare des graphiques gradués · Cahier

Lis les nombres sur l’échelle pour trouver la valeur des barres. Utilise le diagramme de droite pour répondre.

Prénom: _____ Date: _____

Établi

1 **Trace les barres avec le tableau. Compte de 2 en 2.**

A Scie	B Marteau	C Pinceau	D Clé
10	8	12	6

2 **Lis le diagramme gradué.**

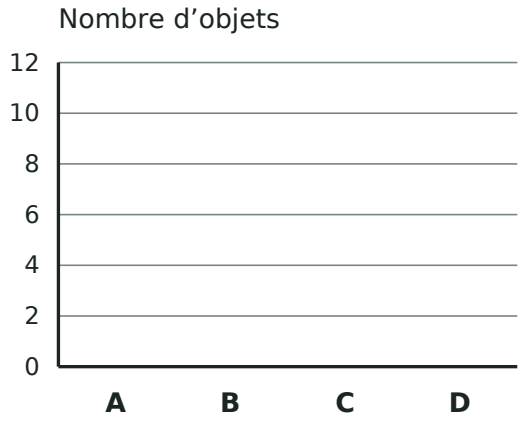

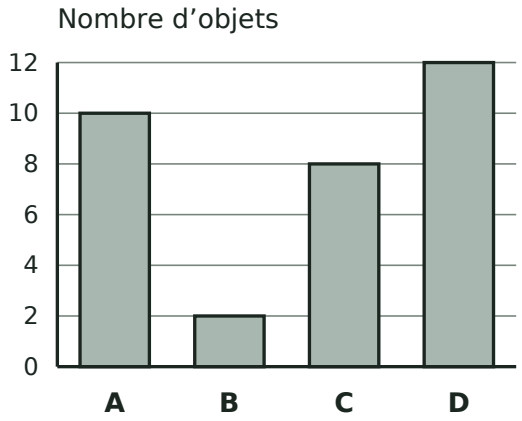

a) Quel groupe a le plus d’objets ?

b) Combien y a-t-il d’objets en tout dans les groupes D et A ?

c) Combien d’objets le groupe D a-t-il de plus que le groupe A ?

Compare des graphiques gradués · Cahier

Lis les nombres sur l’échelle pour trouver la valeur des barres. Utilise le diagramme de droite pour répondre.

Prénom: _____ Date: _____

Panier de pique-nique

1 **Trace les barres avec le tableau. Compte de 3 en 3.**

A Tasse	B Sandwich	C Serviette	D Bouteille
12	9	3	15

2 **Lis le diagramme gradué.**

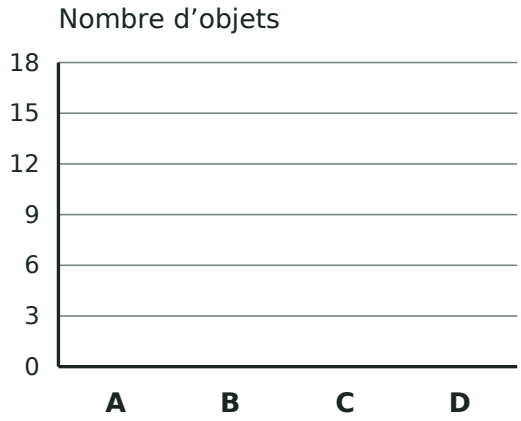

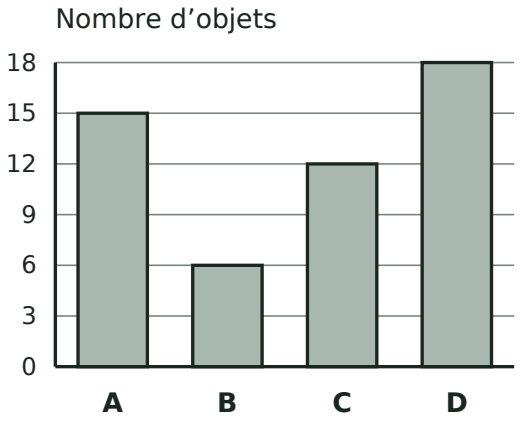

a) Quel groupe a le plus d’objets ? ☐

b) Combien y a-t-il d’objets en tout dans les groupes D et A ? ☐

c) Combien d’objets le groupe D a-t-il de plus que le groupe A ? ☐

Compare des graphiques gradués · Cahier

Lis les nombres sur l’échelle pour trouver la valeur des barres. Utilise le diagramme de droite pour répondre.

Prénom: _____ Date: _____

Dans le ciel

1 **Trace les barres avec le tableau. Compte de 5 en 5.**

			
A Cerf-volant	**B Étoile**	**C Avion**	**D Fusée**
30	15	25	5

2 **Lis le diagramme gradué.**

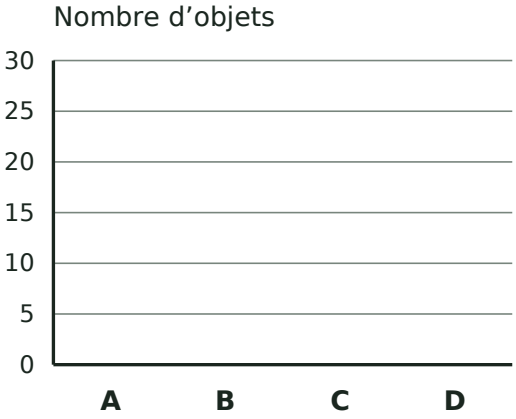

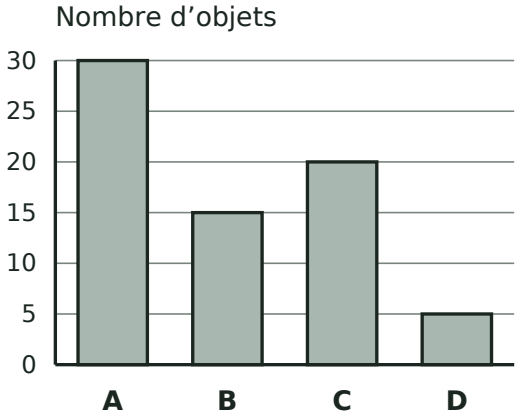

a) Quel groupe a le plus d’objets ? _____

b) Combien y a-t-il d’objets en tout dans les groupes A et C ? _____

c) Combien d’objets le groupe A a-t-il de plus que le groupe C ? _____