Lee y compara gráficos con escala · Cuaderno

Usa los números de la escala para saber cuánto vale cada barra. Usa el gráfico de la derecha para responder.

Nombre: _____ Fecha: _____

Cochera

1 **Dibuja las barras con la tabla. Cada división vale 3.**

A Camión	B Furgoneta	C Tren	D Autobús
9	6	3	15

2 **Lee el gráfico con escala.**

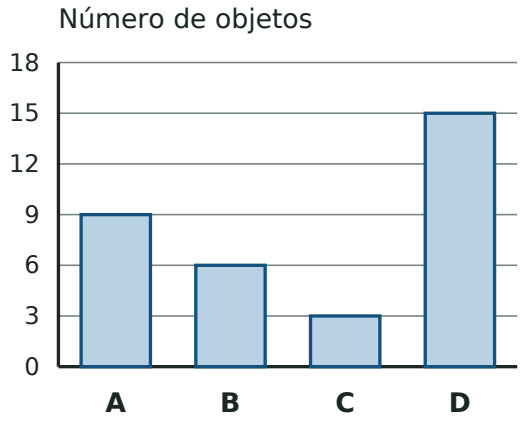

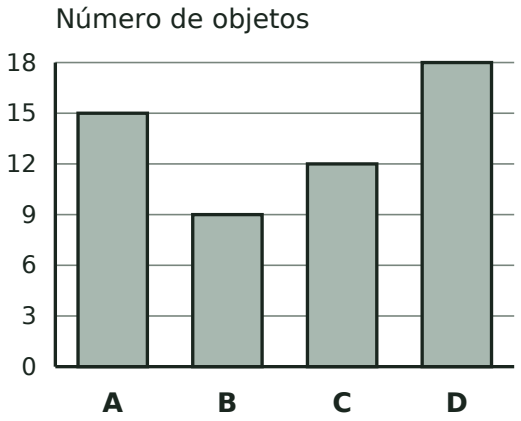

a) ¿Qué grupo tiene más objetos? **D**

b) ¿Cuántos objetos hay entre los grupos D y A? **33**

c) ¿Cuántos objetos más hay en el grupo D que en el A? **3**

Lee y compara gráficos con escala · Cuaderno

Usa los números de la escala para saber cuánto vale cada barra. Usa el gráfico de la derecha para responder.

Nombre: _____ Fecha: _____

Cobertizo del jardín

1 **Dibuja las barras con la tabla. Cada división vale 5.**

A Pala	B Hoja	C Maceta	D Flor
30	15	25	5

2 **Lee el gráfico con escala.**

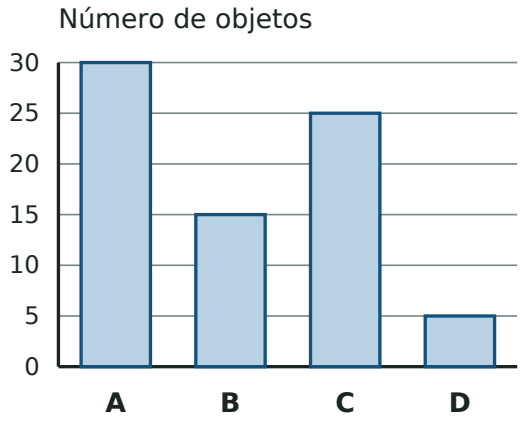

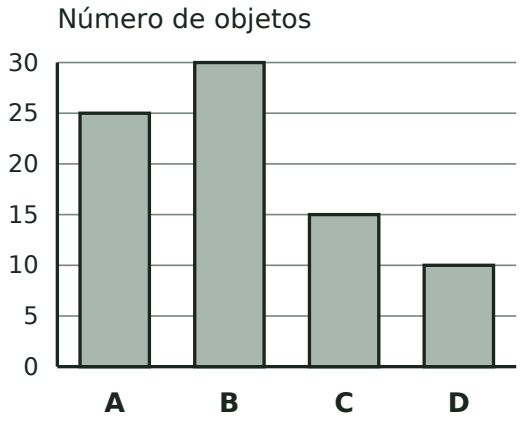

a) ¿Qué grupo tiene más objetos? **B**

b) ¿Cuántos objetos hay entre los grupos B y A? **55**

c) ¿Cuántos objetos más hay en el grupo B que en el A? **5**

Lee y compara gráficos con escala · Cuaderno

Usa los números de la escala para saber cuánto vale cada barra. Usa el gráfico de la derecha para responder.

Nombre: _____ Fecha: _____

Banco de trabajo

1 **Dibuja las barras con la tabla. Cada división vale 2.**

A Sierra	B Martillo	C Brocha	D Llave
10	8	12	6

2 **Lee el gráfico con escala.**

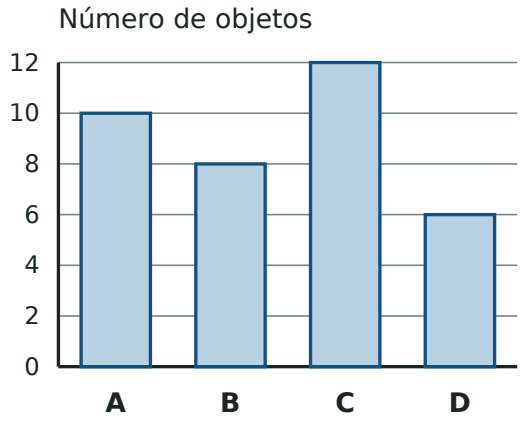



a) ¿Qué grupo tiene más objetos? **D**

b) ¿Cuántos objetos hay entre los grupos D y A? **22**

c) ¿Cuántos objetos más hay en el grupo D que en el A? **2**

Lee y compara gráficos con escala · Cuaderno

Usa los números de la escala para saber cuánto vale cada barra. Usa el gráfico de la derecha para responder.

Nombre: _____ Fecha: _____

Cesta de picnic

1 **Dibuja las barras con la tabla. Cada división vale 3.**

A Taza	B Bocadillo	C Servilleta	D Botella
12	9	3	15

2 **Lee el gráfico con escala.**

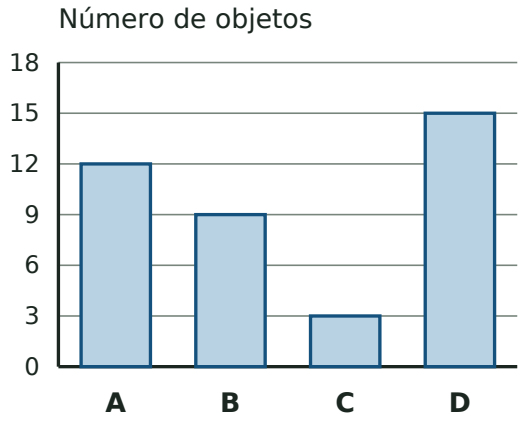

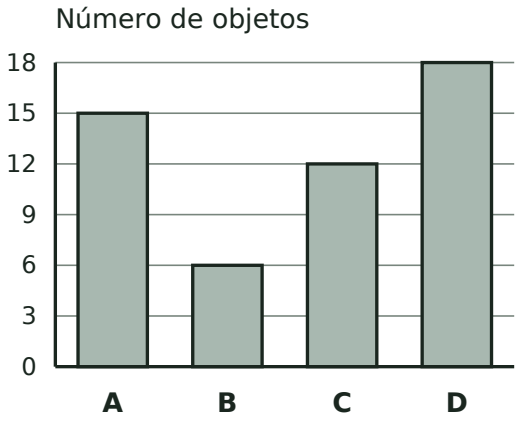

a) ¿Qué grupo tiene más objetos? **D**

b) ¿Cuántos objetos hay entre los grupos D y A? **33**

c) ¿Cuántos objetos más hay en el grupo D que en el A? **3**

Lee y compara gráficos con escala · Cuaderno

Usa los números de la escala para saber cuánto vale cada barra. Usa el gráfico de la derecha para responder.

Nombre: _____ Fecha: _____

En el cielo

1 **Dibuja las barras con la tabla. Cada división vale 5.**

A Cometa	B Estrella	C Avión	D Cohete
30	15	25	5

2 **Lee el gráfico con escala.**

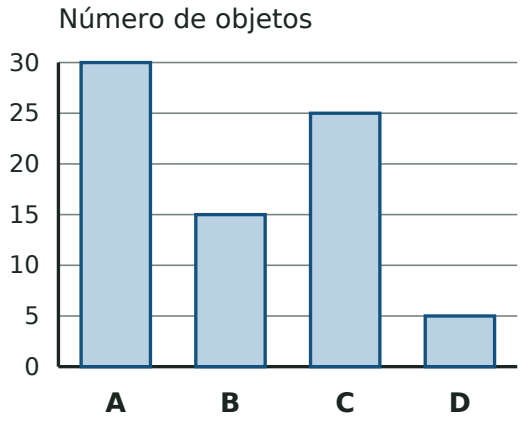

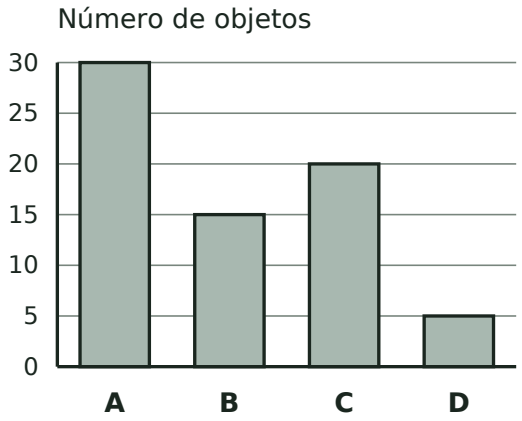

a) ¿Qué grupo tiene más objetos? **A**

b) ¿Cuántos objetos hay entre los grupos A y C? **50**

c) ¿Cuántos objetos más hay en el grupo A que en el C? **10**