Diagramme mit Skala lesen · Übungsheft

Lies an der Skala ab, wie viel jede Säule darstellt. Nutze das rechte Diagramm für deine Antworten.

Name: _____ Datum: _____

Fahrzeugdepot

1 **Zeichne die Säulen. Jeder Skalenstrich steht für 3 mehr.**

A Laster	B Lieferwagen	C Zug	D Bus
9	6	3	15

2 **Lies das Diagramm.**

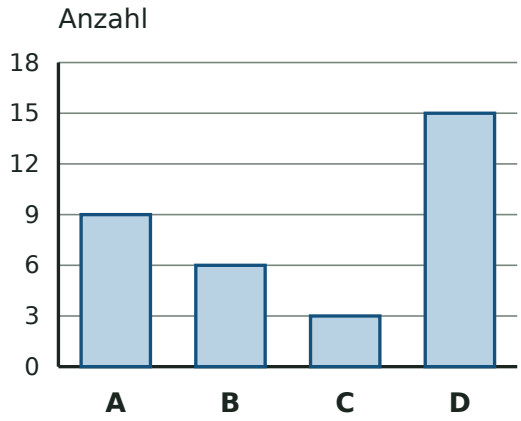

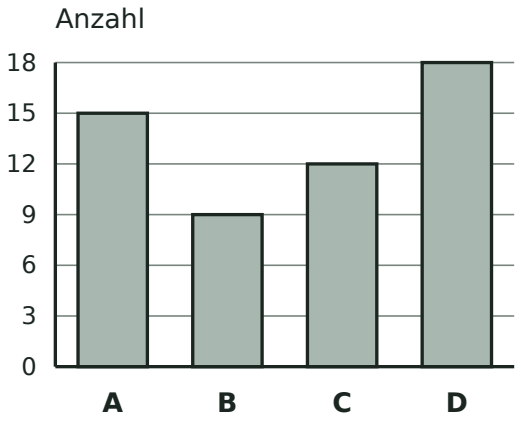

a) In welcher Gruppe sind die meisten Dinge? **D**

b) Wie viele Dinge sind es in Gruppe D und A zusammen? **33**

c) Wie viele Dinge mehr sind in Gruppe D als in Gruppe A? **3**

Diagramme mit Skala lesen · Übungsheft

Lies an der Skala ab, wie viel jede Säule darstellt. Nutze das rechte Diagramm für deine Antworten.

Name: _____ Datum: _____

Gartenhaus

1 **Zeichne die Säulen. Jeder Skalenstrich steht für 5 mehr.**

A Schaufel	B Blatt	C Topf	D Blume
30	15	25	5

2 **Lies das Diagramm.**

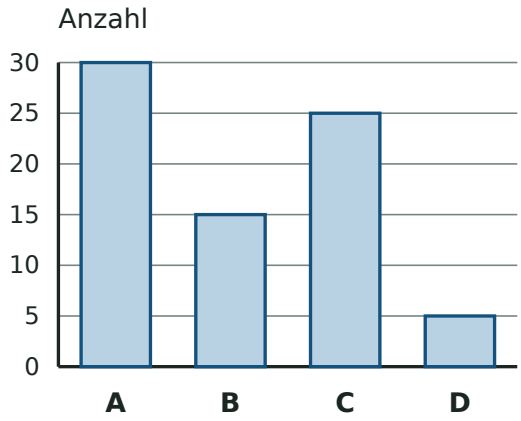

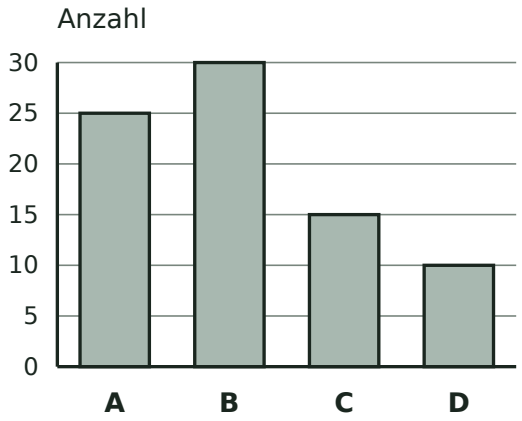

a) In welcher Gruppe sind die meisten Dinge? **B**

b) Wie viele Dinge sind es in Gruppe B und A zusammen? **55**

c) Wie viele Dinge mehr sind in Gruppe B als in Gruppe A? **5**

Diagramme mit Skala lesen · Übungsheft

Lies an der Skala ab, wie viel jede Säule darstellt. Nutze das rechte Diagramm für deine Antworten.

Name: _____ Datum: _____

Werkbank

1 **Zeichne die Säulen. Jeder Skalenstrich steht für 2 mehr.**

A Säge	B Hammer	C Pinsel	D Schlüssel
10	8	12	6

2 **Lies das Diagramm.**

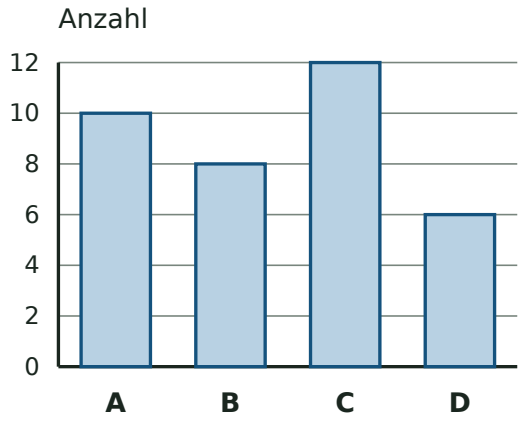

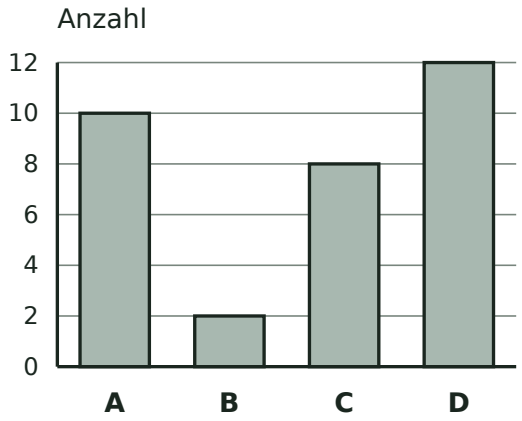

a) In welcher Gruppe sind die meisten Dinge? **D**

b) Wie viele Dinge sind es in Gruppe D und A zusammen? **22**

c) Wie viele Dinge mehr sind in Gruppe D als in Gruppe A? **2**

Diagramme mit Skala lesen · Übungsheft

Lies an der Skala ab, wie viel jede Säule darstellt. Nutze das rechte Diagramm für deine Antworten.

Name: _____ Datum: _____

Picknickkorb

1 **Zeichne die Säulen. Jeder Skalenstrich steht für 3 mehr.**

A Tasse	B Sandwich	C Serviette	D Flasche
12	9	3	15

2 **Lies das Diagramm.**

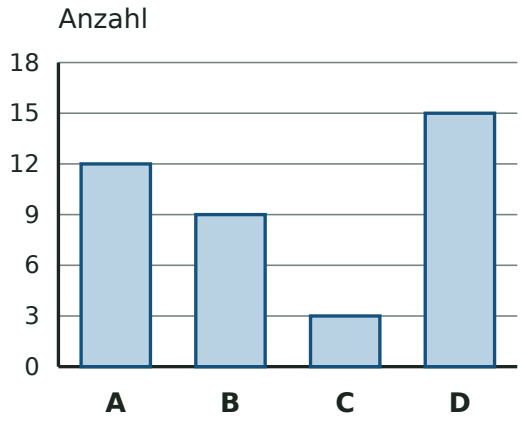

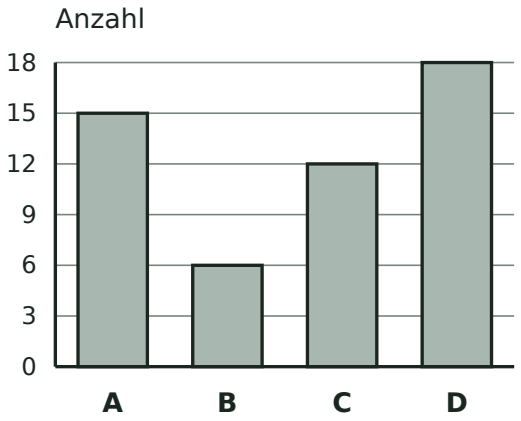

a) In welcher Gruppe sind die meisten Dinge? **D**

b) Wie viele Dinge sind es in Gruppe D und A zusammen? **33**

c) Wie viele Dinge mehr sind in Gruppe D als in Gruppe A? **3**

Diagramme mit Skala lesen · Übungsheft

Lies an der Skala ab, wie viel jede Säule darstellt. Nutze das rechte Diagramm für deine Antworten.

Name: _____ Datum: _____

Am Himmel

1 **Zeichne die Säulen. Jeder Skalenstrich steht für 5 mehr.**

A Drachen	B Stern	C Flugzeug	D Rakete
30	15	25	5

2 **Lies das Diagramm.**

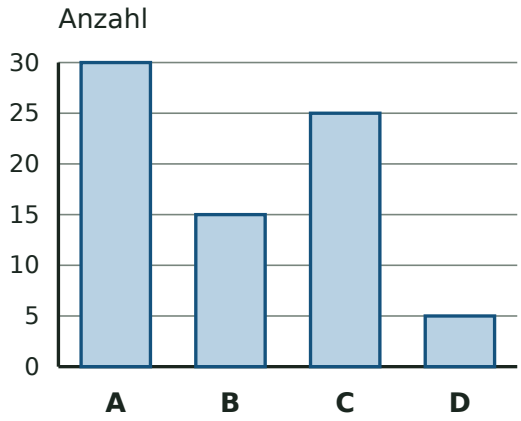

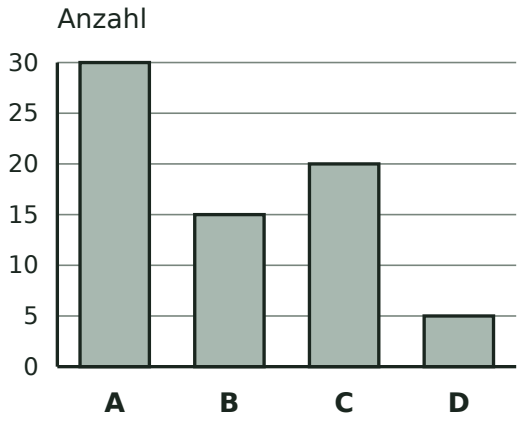

a) In welcher Gruppe sind die meisten Dinge? **A**

b) Wie viele Dinge sind es in Gruppe A und C zusammen? **50**

c) Wie viele Dinge mehr sind in Gruppe A als in Gruppe C? **10**