Diagrammes en barres avec légende · Cahier

Les lettres sous les barres correspondent aux groupes du tableau. Utilise le diagramme de droite pour répondre.

Prénom: _____ Date: _____

Dépôt de véhicules

1 **Trace les barres avec les données du tableau.**

A Camion	B Bus	C Fourgon	D Train
6	4	1	3

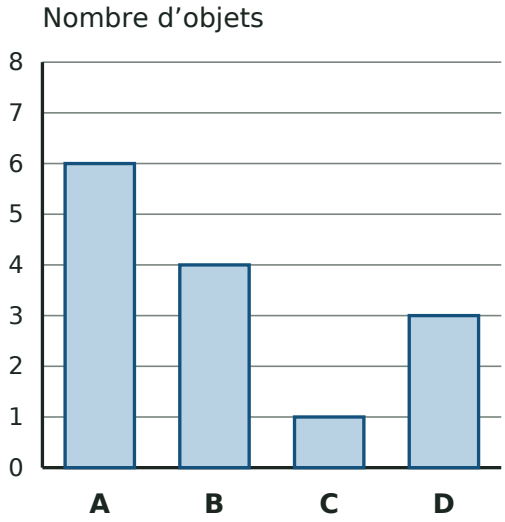

2 **Lis le diagramme.**

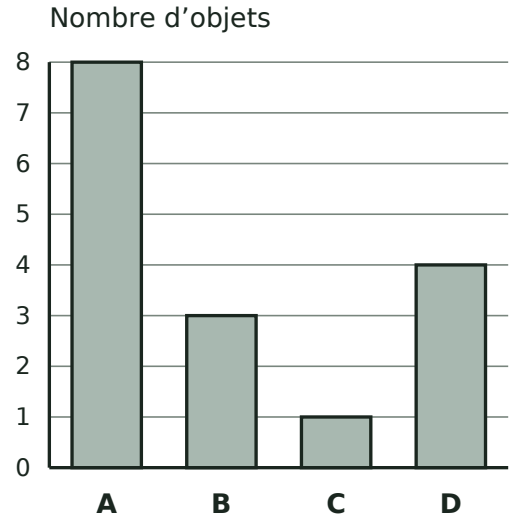

a) Quel groupe a le plus d’objets ? **A**

b) Combien y a-t-il d’objets en tout dans les groupes A et D ? **12**

c) Combien d’objets le groupe A a-t-il de plus que le groupe D ? **4**

Diagrammes en barres avec légende · Cahier

Les lettres sous les barres correspondent aux groupes du tableau. Utilise le diagramme de droite pour répondre.

Prénom: _____ Date: _____

Abri de jardin

1 **Trace les barres avec les données du tableau.**

A Feuille	B Fleur	C Pelle	D Pot
1	8	6	3

2 **Lis le diagramme.**

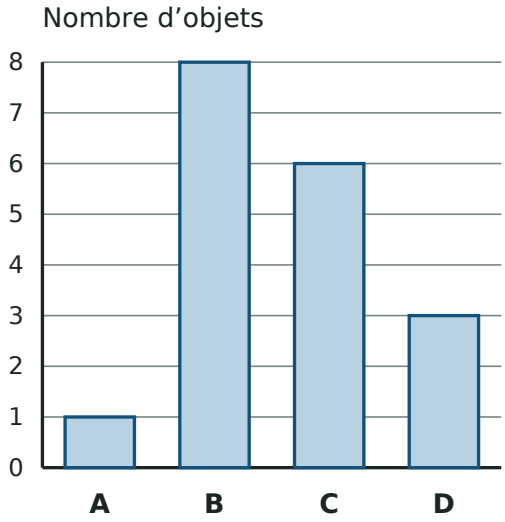

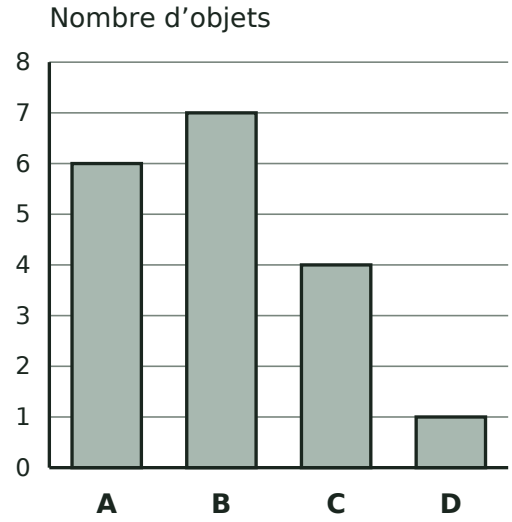

a) Quel groupe a le plus d’objets ? **B**

b) Combien y a-t-il d’objets en tout dans les groupes B et A ? **13**

c) Combien d’objets le groupe B a-t-il de plus que le groupe A ? **1**

Diagrammes en barres avec légende · Cahier

Les lettres sous les barres correspondent aux groupes du tableau. Utilise le diagramme de droite pour répondre.

Prénom: _____ Date: _____

Établi

1 **Trace les barres avec les données du tableau.**

A Scie	B Clé	C Pinceau	D Marteau
6	1	8	4

2 **Lis le diagramme.**

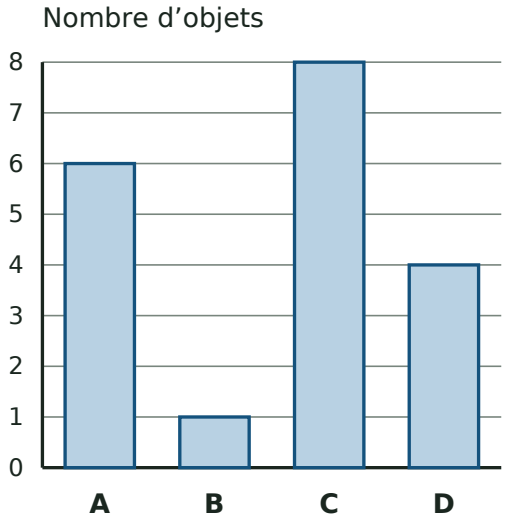

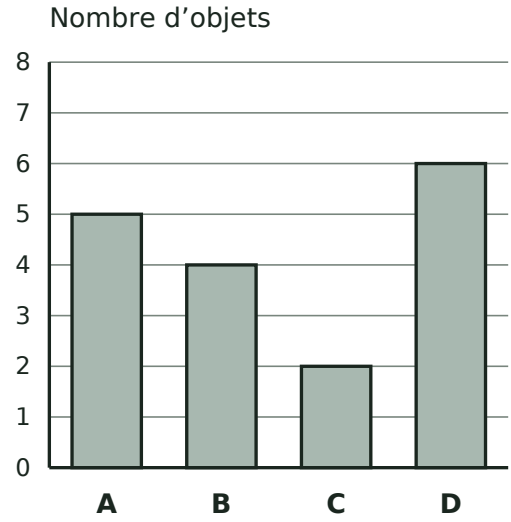

a) Quel groupe a le plus d'objets ? **D**

b) Combien y a-t-il d'objets en tout dans les groupes D et A ? **11**

c) Combien d'objets le groupe D a-t-il de plus que le groupe A ? **1**

Diagrammes en barres avec légende · Cahier

Les lettres sous les barres correspondent aux groupes du tableau. Utilise le diagramme de droite pour répondre.

Prénom: _____ Date: _____

Panier de pique-nique

1 **Trace les barres avec les données du tableau.**

A Sandwich	B Bouteille	C Serviette	D Tasse
5	4	7	1

2 **Lis le diagramme.**

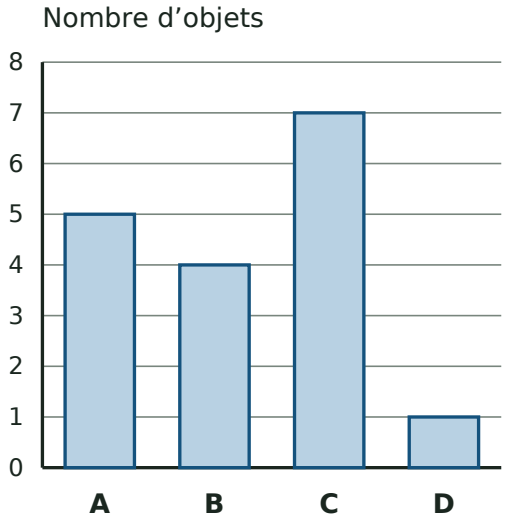

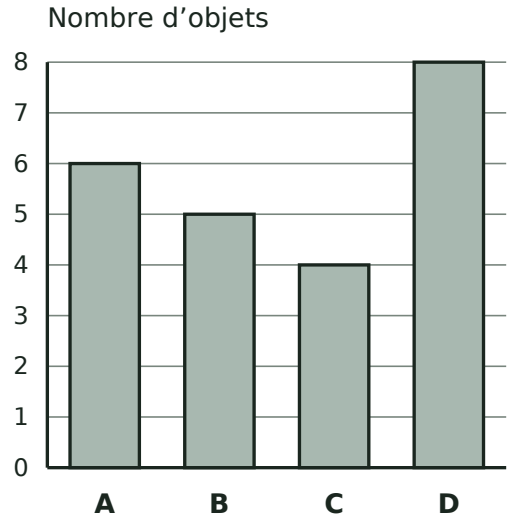

a) Quel groupe a le plus d'objets ? **D**

b) Combien y a-t-il d'objets en tout dans les groupes D et A ? **14**

c) Combien d'objets le groupe D a-t-il de plus que le groupe A ? **2**

Diagrammes en barres avec légende · Cahier

Les lettres sous les barres correspondent aux groupes du tableau. Utilise le diagramme de droite pour répondre.

Prénom: _____ Date: _____

Dans le ciel

1 **Trace les barres avec les données du tableau.**

A Fusée	B Avion	C Cerf-volant	D Étoile
4	7	1	6

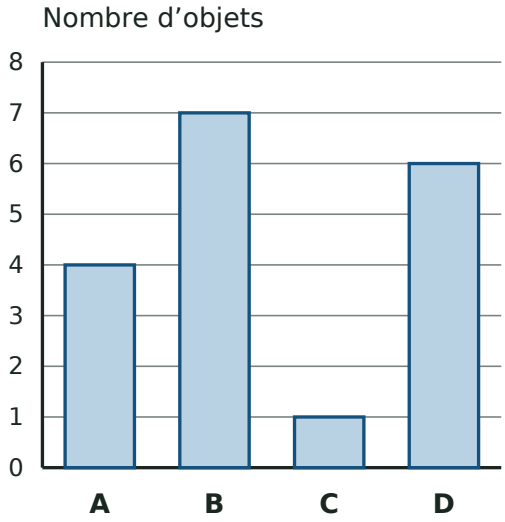

2 **Lis le diagramme.**

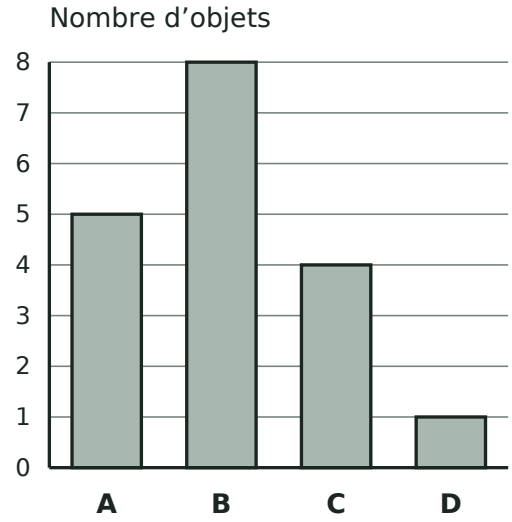

a) Quel groupe a le plus d’objets ? **B**

b) Combien y a-t-il d’objets en tout dans les groupes B et A ? **13**

c) Combien d’objets le groupe B a-t-il de plus que le groupe A ? **3**