Diagrammes en barres avec légende · Cahier

Les lettres sous les barres correspondent aux groupes du tableau. Utilise le diagramme de droite pour répondre.

Prénom: _____ Date: _____

Dépôt de véhicules

1 **Trace les barres avec les données du tableau.**

A Camion	B Bus	C Fourgon	D Train
6	4	1	3



2 **Lis le diagramme.**

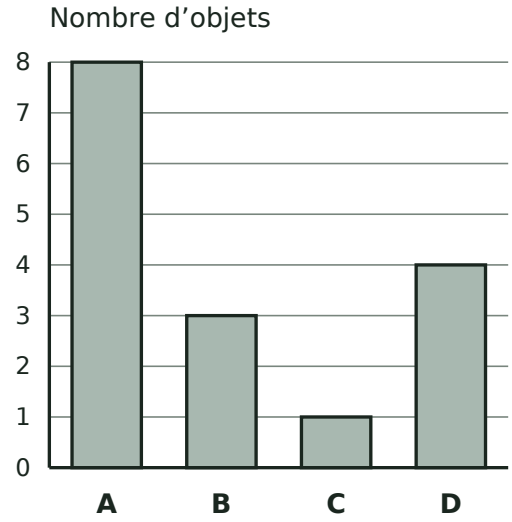

a) Quel groupe a le plus d’objets ? ☐

b) Combien y a-t-il d’objets en tout dans les groupes A et D ? ☐

c) Combien d’objets le groupe A a-t-il de plus que le groupe D ? ☐

Diagrammes en barres avec légende · Cahier

Les lettres sous les barres correspondent aux groupes du tableau. Utilise le diagramme de droite pour répondre.

Prénom: _____ Date: _____

Abri de jardin

1 **Trace les barres avec les données du tableau.**

 **A Feuille**	 **B Fleur**	 **C Pelle**	 **D Pot**
1	8	6	3

2 **Lis le diagramme.**



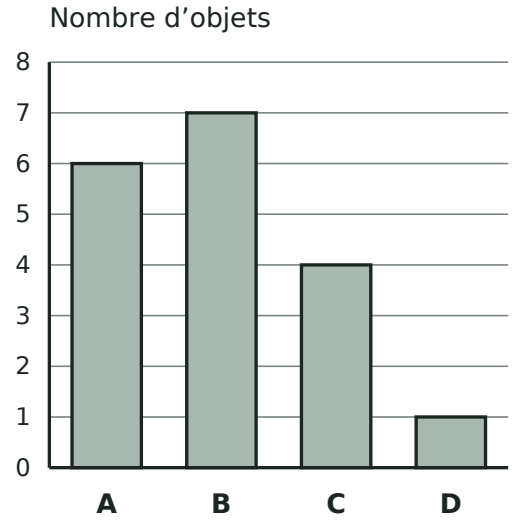

a) Quel groupe a le plus d'objets ? ☐

b) Combien y a-t-il d'objets en tout dans les groupes B et A ? ☐

c) Combien d'objets le groupe B a-t-il de plus que le groupe A ? ☐

Diagrammes en barres avec légende · Cahier

Les lettres sous les barres correspondent aux groupes du tableau. Utilise le diagramme de droite pour répondre.

Prénom: _____ Date: _____

Établi

1 **Trace les barres avec les données du tableau.**

A Scie	B Clé	C Pinceau	D Marteau
6	1	8	4



2 **Lis le diagramme.**

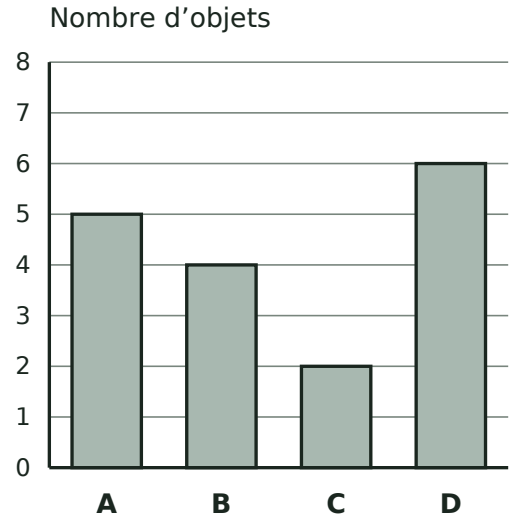

a) Quel groupe a le plus d'objets ? ☐

b) Combien y a-t-il d'objets en tout dans les groupes D et A ? ☐

c) Combien d'objets le groupe D a-t-il de plus que le groupe A ? ☐

Diagrammes en barres avec légende · Cahier

Les lettres sous les barres correspondent aux groupes du tableau. Utilise le diagramme de droite pour répondre.

Prénom: _____ Date: _____

Panier de pique-nique

1 **Trace les barres avec les données du tableau.**

A Sandwich	B Bouteille	C Serviette	D Tasse
5	4	7	1



2 **Lis le diagramme.**

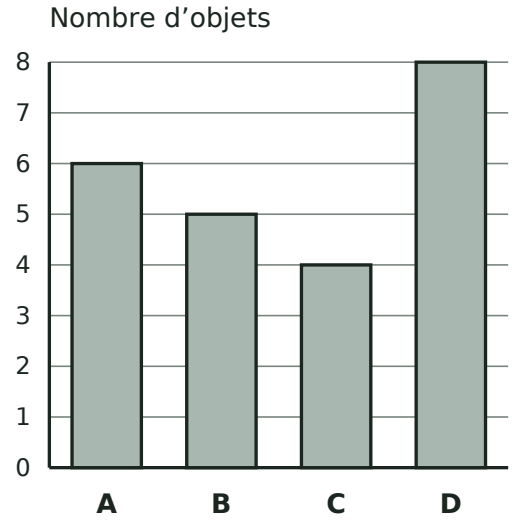

a) Quel groupe a le plus d’objets ? ☐

b) Combien y a-t-il d’objets en tout dans les groupes D et A ? ☐

c) Combien d’objets le groupe D a-t-il de plus que le groupe A ? ☐

Diagrammes en barres avec légende · Cahier

Les lettres sous les barres correspondent aux groupes du tableau. Utilise le diagramme de droite pour répondre.

Prénom: _____ Date: _____

Dans le ciel

1 **Trace les barres avec les données du tableau.**

 **A Fusée**	 **B Avion**	 **C Cerf-volant**	 **D Étoile**
4	7	1	6

2 **Lis le diagramme.**



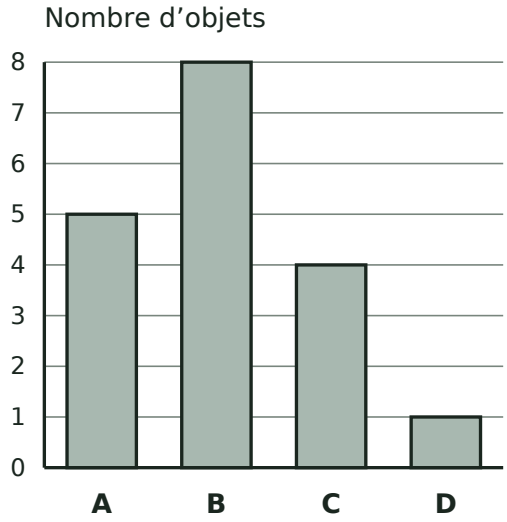

a) Quel groupe a le plus d’objets ? ☐

b) Combien y a-t-il d’objets en tout dans les groupes B et A ? ☐

c) Combien d’objets le groupe B a-t-il de plus que le groupe A ? ☐