Gráficos de barras con etiquetas · Cuaderno

Las letras debajo de las barras corresponden a los grupos de la tabla. Usa el gráfico de la derecha para responder.

Nombre: _____ Fecha: _____

Cochera

1 **Dibuja las barras con los datos de la tabla.**

A Camión	B Autobús	C Furgoneta	D Tren
6	4	1	3

2 **Lee este gráfico de barras.**



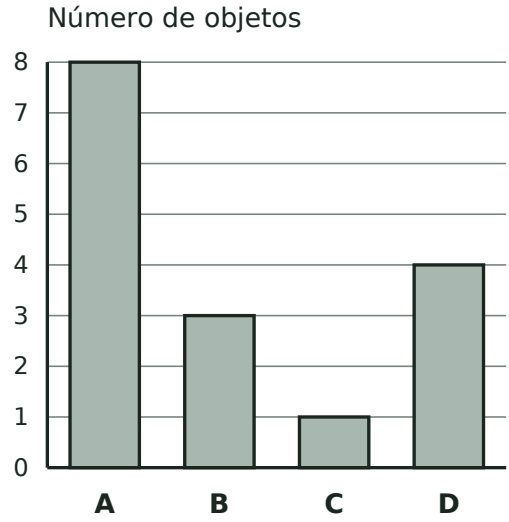

a) ¿Qué grupo tiene más objetos? **A**

b) ¿Cuántos objetos hay entre los grupos A y D? **12**

c) ¿Cuántos objetos más hay en el grupo A que en el D? **4**

Gráficos de barras con etiquetas · Cuaderno

Las letras debajo de las barras corresponden a los grupos de la tabla. Usa el gráfico de la derecha para responder.

Nombre: _____ Fecha: _____

Cobertizo del jardín

1 **Dibuja las barras con los datos de la tabla.**

A Hoja	B Flor	C Pala	D Maceta
1	8	6	3

2 **Lee este gráfico de barras.**



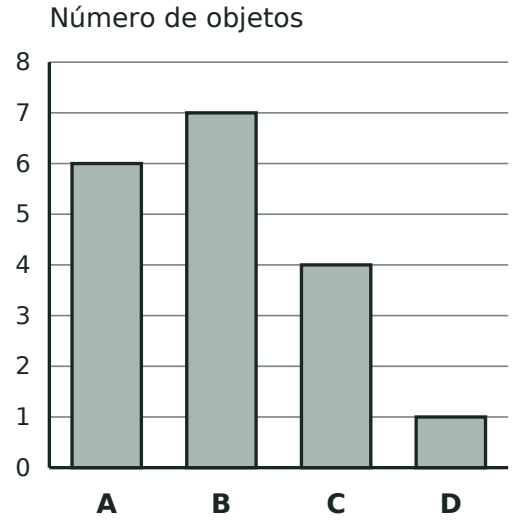

a) ¿Qué grupo tiene más objetos? **B**

b) ¿Cuántos objetos hay entre los grupos B y A? **13**

c) ¿Cuántos objetos más hay en el grupo B que en el A? **1**

Gráficos de barras con etiquetas · Cuaderno

Las letras debajo de las barras corresponden a los grupos de la tabla. Usa el gráfico de la derecha para responder.

Nombre: _____ Fecha: _____

Banco de trabajo

1 **Dibuja las barras con los datos de la tabla.**

A Sierra	B Llave	C Brocha	D Martillo
6	1	8	4

2 **Lee este gráfico de barras.**



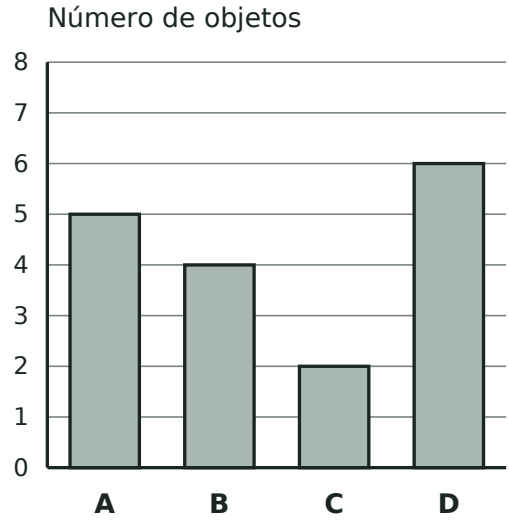

a) ¿Qué grupo tiene más objetos? **D**

b) ¿Cuántos objetos hay entre los grupos D y A? **11**

c) ¿Cuántos objetos más hay en el grupo D que en el A? **1**

Gráficos de barras con etiquetas · Cuaderno

Las letras debajo de las barras corresponden a los grupos de la tabla. Usa el gráfico de la derecha para responder.

Nombre: _____ Fecha: _____

Cesta de picnic

1 **Dibuja las barras con los datos de la tabla.**

A Bocadillo	B Botella	C Servilleta	D Taza
5	4	7	1

2 **Lee este gráfico de barras.**



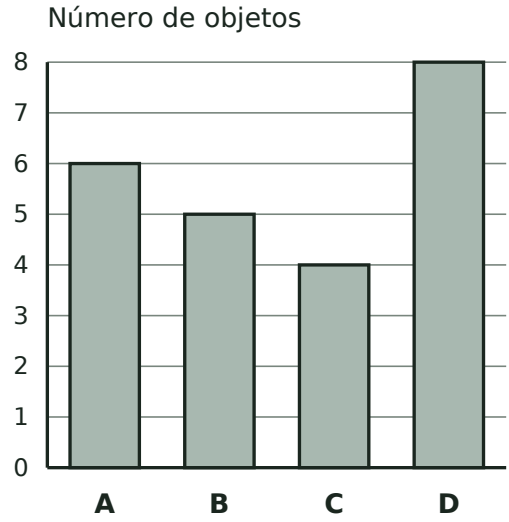

a) ¿Qué grupo tiene más objetos? **D**

b) ¿Cuántos objetos hay entre los grupos D y A? **14**

c) ¿Cuántos objetos más hay en el grupo D que en el A? **2**

Gráficos de barras con etiquetas · Cuaderno

Las letras debajo de las barras corresponden a los grupos de la tabla. Usa el gráfico de la derecha para responder.

Nombre: _____ Fecha: _____

En el cielo

1 **Dibuja las barras con los datos de la tabla.**

			
A Cohete	**B Avión**	**C Cometa**	**D Estrella**
4	7	1	6

2 **Lee este gráfico de barras.**

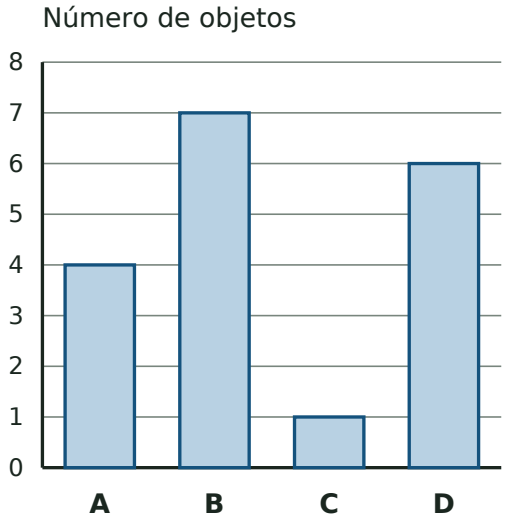

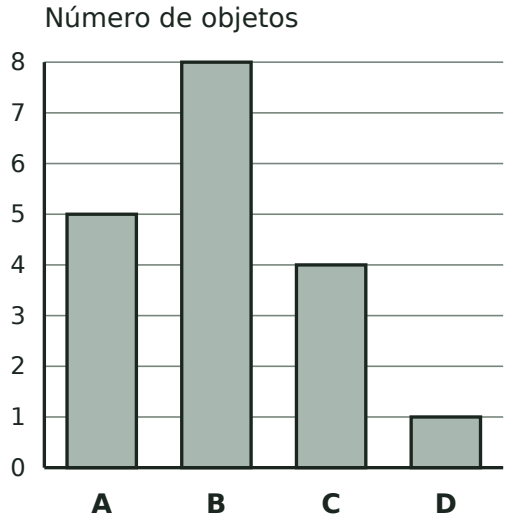

a) ¿Qué grupo tiene más objetos? **B**

b) ¿Cuántos objetos hay entre los grupos B y A? **13**

c) ¿Cuántos objetos más hay en el grupo B que en el A? **3**