Beschriftete Säulendiagramme · Übungsheft

Die Buchstaben unter den Säulen gehören zu den Gruppen in der Tabelle. Nutze das rechte Diagramm für deine Antworten.

Name: _____ Datum: _____

Fahrzeugdepot

1 **Zeichne die Säulen mit den Zahlen aus der Tabelle.**

A Laster	B Bus	C Lieferwagen	D Zug
6	4	1	3

2 **Lies das Säulendiagramm.**

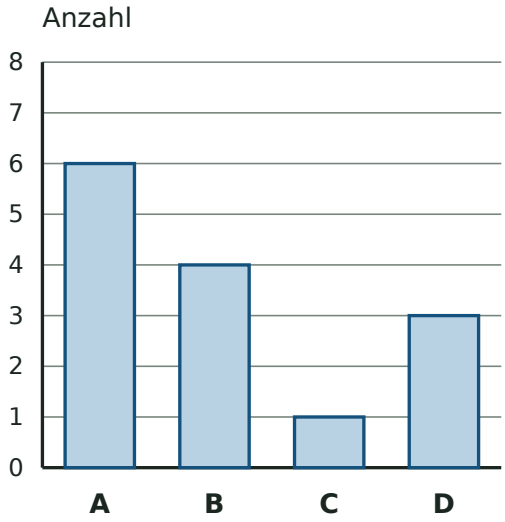

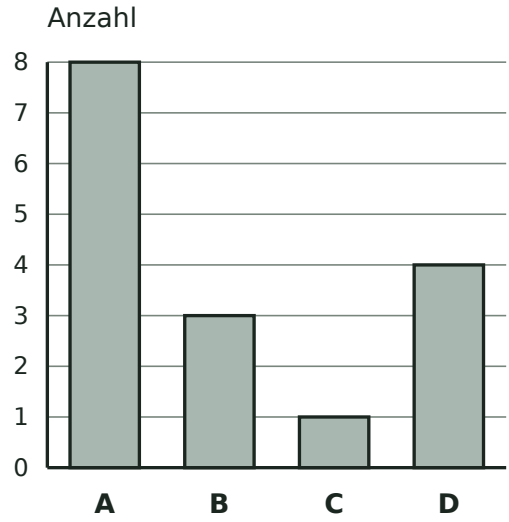

a) In welcher Gruppe sind die meisten Dinge? **A**

b) Wie viele Dinge sind es in Gruppe A und D zusammen? **12**

c) Wie viele Dinge mehr sind in Gruppe A als in Gruppe D? **4**

Beschriftete Säulendiagramme · Übungsheft

Die Buchstaben unter den Säulen gehören zu den Gruppen in der Tabelle. Nutze das rechte Diagramm für deine Antworten.

Name: _____ Datum: _____

Gartenhaus

1 **Zeichne die Säulen mit den Zahlen aus der Tabelle.**

A Blatt	B Blume	C Schaufel	D Topf
1	8	6	3

2 **Lies das Säulendiagramm.**

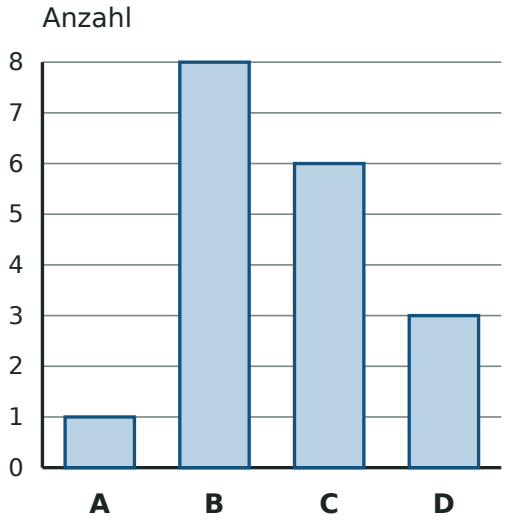

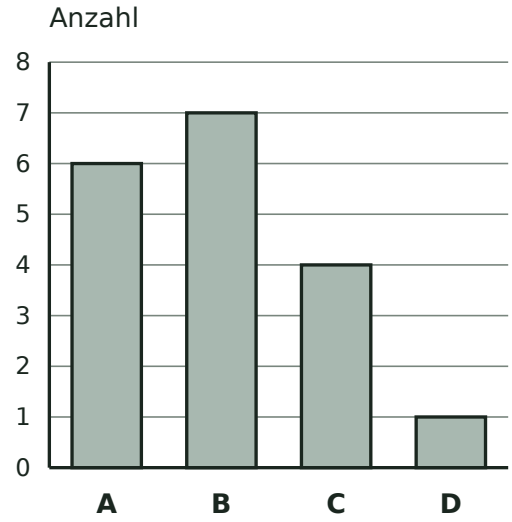

a) In welcher Gruppe sind die meisten Dinge? **B**

b) Wie viele Dinge sind es in Gruppe B und A zusammen? **13**

c) Wie viele Dinge mehr sind in Gruppe B als in Gruppe A? **1**

Beschriftete Säulendiagramme · Übungsheft

Die Buchstaben unter den Säulen gehören zu den Gruppen in der Tabelle. Nutze das rechte Diagramm für deine Antworten.

Name: _____ Datum: _____

Werkbank

1 **Zeichne die Säulen mit den Zahlen aus der Tabelle.**

A Säge	B Schlüssel	C Pinsel	D Hammer
6	1	8	4

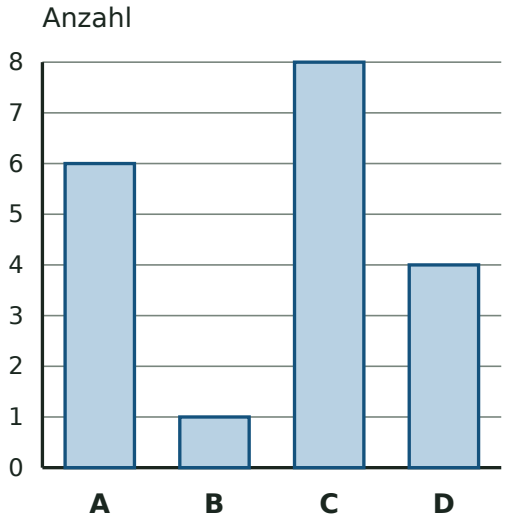

2 **Lies das Säulendiagramm.**

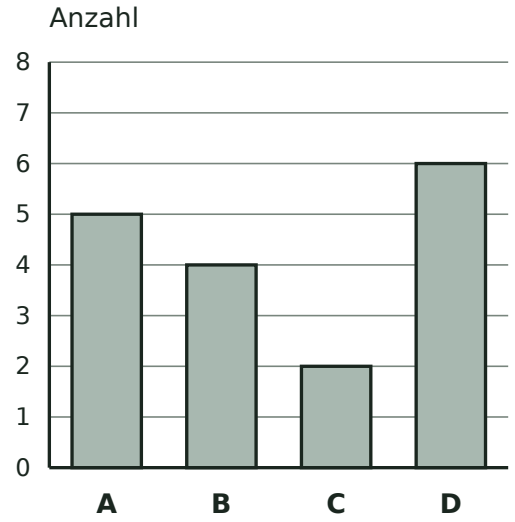

a) In welcher Gruppe sind die meisten Dinge? **D**

b) Wie viele Dinge sind es in Gruppe D und A zusammen? **11**

c) Wie viele Dinge mehr sind in Gruppe D als in Gruppe A? **1**

Beschriftete Säulendiagramme · Übungsheft

Die Buchstaben unter den Säulen gehören zu den Gruppen in der Tabelle. Nutze das rechte Diagramm für deine Antworten.

Name: _____ Datum: _____

Picknickkorb

1 **Zeichne die Säulen mit den Zahlen aus der Tabelle.**

A Sandwich	B Flasche	C Serviette	D Tasse
5	4	7	1

2 **Lies das Säulendiagramm.**

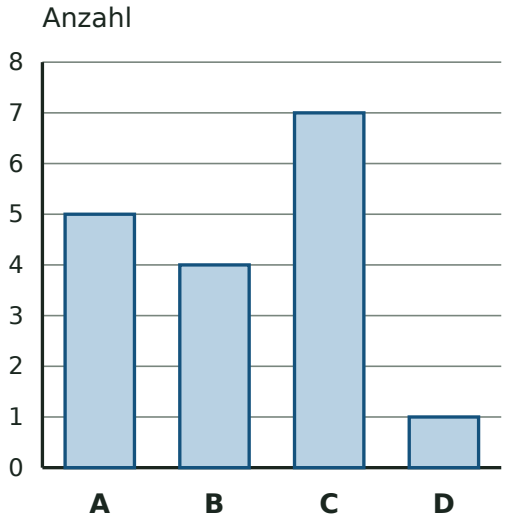

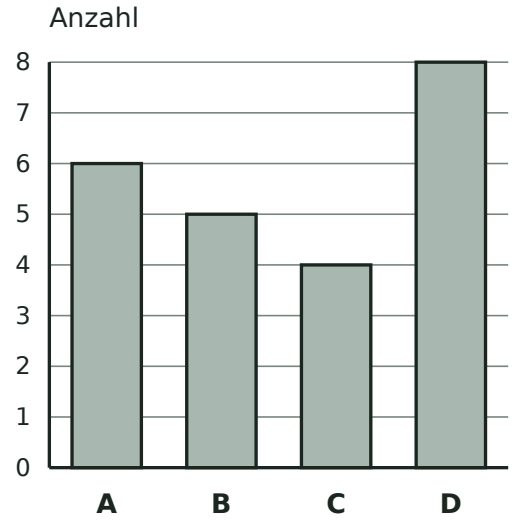

a) In welcher Gruppe sind die meisten Dinge? **D**

b) Wie viele Dinge sind es in Gruppe D und A zusammen? **14**

c) Wie viele Dinge mehr sind in Gruppe D als in Gruppe A? **2**

Beschriftete Säulendiagramme · Übungsheft

Die Buchstaben unter den Säulen gehören zu den Gruppen in der Tabelle. Nutze das rechte Diagramm für deine Antworten.

Name: _____ Datum: _____

Am Himmel

1 **Zeichne die Säulen mit den Zahlen aus der Tabelle.**

A Rakete	B Flugzeug	C Drachen	D Stern
4	7	1	6

2 **Lies das Säulendiagramm.**

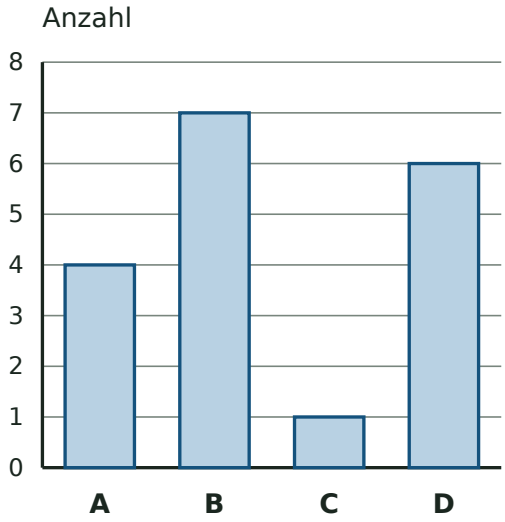

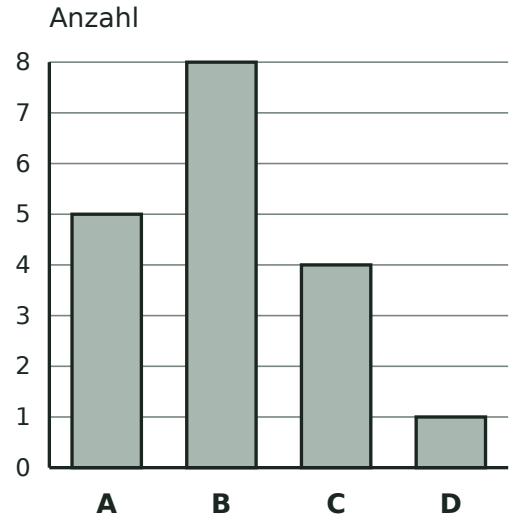

a) In welcher Gruppe sind die meisten Dinge? **B**

b) Wie viele Dinge sind es in Gruppe B und A zusammen? **13**

c) Wie viele Dinge mehr sind in Gruppe B als in Gruppe A? **3**