Beschriftete Säulendiagramme · Übungsheft

Die Buchstaben unter den Säulen gehören zu den Gruppen in der Tabelle. Nutze das rechte Diagramm für deine Antworten.

Name: _____ Datum: _____

Fahrzeugdepot

1 **Zeichne die Säulen mit den Zahlen aus der Tabelle.**

A Laster	B Bus	C Lieferwagen	D Zug
6	4	1	3



2 **Lies das Säulendiagramm.**

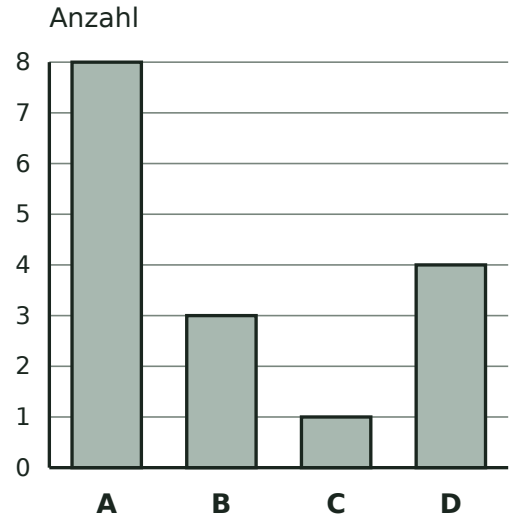

a) In welcher Gruppe sind die meisten Dinge? ☐

b) Wie viele Dinge sind es in Gruppe A und D zusammen? ☐

c) Wie viele Dinge mehr sind in Gruppe A als in Gruppe D? ☐

Beschriftete Säulendiagramme · Übungsheft

Die Buchstaben unter den Säulen gehören zu den Gruppen in der Tabelle. Nutze das rechte Diagramm für deine Antworten.

Name: _____ Datum: _____

Gartenhaus

1 **Zeichne die Säulen mit den Zahlen aus der Tabelle.**

A Blatt	B Blume	C Schaufel	D Topf
1	8	6	3



2 **Lies das Säulendiagramm.**

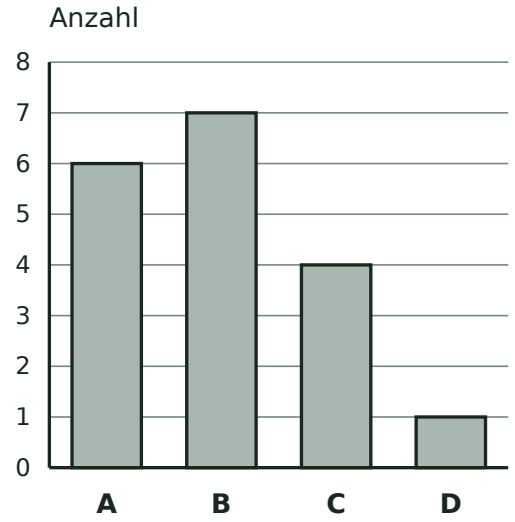

a) In welcher Gruppe sind die meisten Dinge? ☐

b) Wie viele Dinge sind es in Gruppe B und A zusammen? ☐

c) Wie viele Dinge mehr sind in Gruppe B als in Gruppe A? ☐

Beschriftete Säulendiagramme · Übungsheft

Die Buchstaben unter den Säulen gehören zu den Gruppen in der Tabelle. Nutze das rechte Diagramm für deine Antworten.

Name: _____ Datum: _____

Werkbank

1 **Zeichne die Säulen mit den Zahlen aus der Tabelle.**

A Säge	B Schlüssel	C Pinsel	D Hammer
6	1	8	4



2 **Lies das Säulendiagramm.**

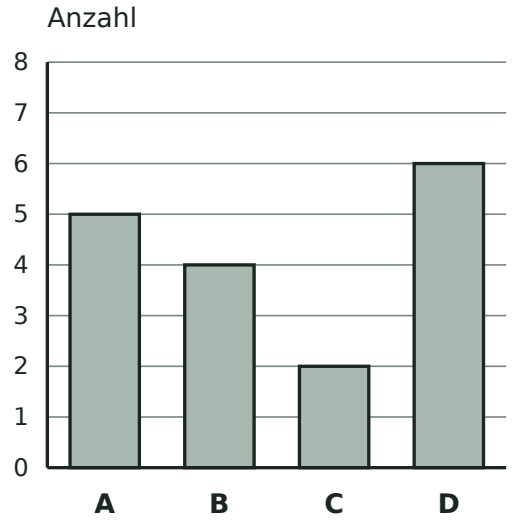

a) In welcher Gruppe sind die meisten Dinge? ☐

b) Wie viele Dinge sind es in Gruppe D und A zusammen? ☐

c) Wie viele Dinge mehr sind in Gruppe D als in Gruppe A? ☐

Beschriftete Säulendiagramme · Übungsheft

Die Buchstaben unter den Säulen gehören zu den Gruppen in der Tabelle. Nutze das rechte Diagramm für deine Antworten.

Name: _____ Datum: _____

Picknickkorb

1 **Zeichne die Säulen mit den Zahlen aus der Tabelle.**

A Sandwich	B Flasche	C Serviette	D Tasse
5	4	7	1



2 **Lies das Säulendiagramm.**

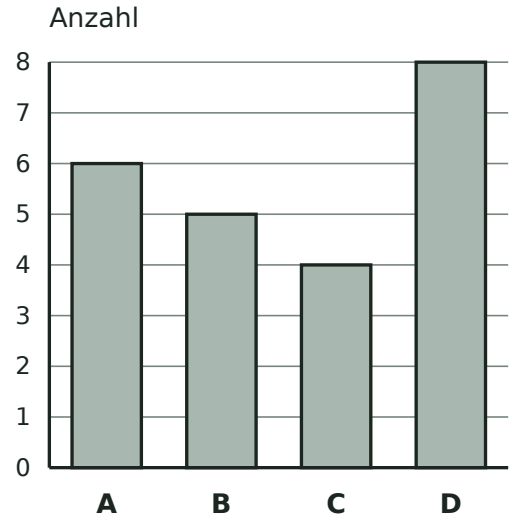

a) In welcher Gruppe sind die meisten Dinge? ☐

b) Wie viele Dinge sind es in Gruppe D und A zusammen? ☐

c) Wie viele Dinge mehr sind in Gruppe D als in Gruppe A? ☐

Beschriftete Säulendiagramme · Übungsheft

Die Buchstaben unter den Säulen gehören zu den Gruppen in der Tabelle. Nutze das rechte Diagramm für deine Antworten.

Name: _____ Datum: _____

Am Himmel

1 **Zeichne die Säulen mit den Zahlen aus der Tabelle.**

 **A Rakete**	 **B Flugzeug**	 **C Drachen**	 **D Stern**
4	7	1	6

2 **Lies das Säulendiagramm.**



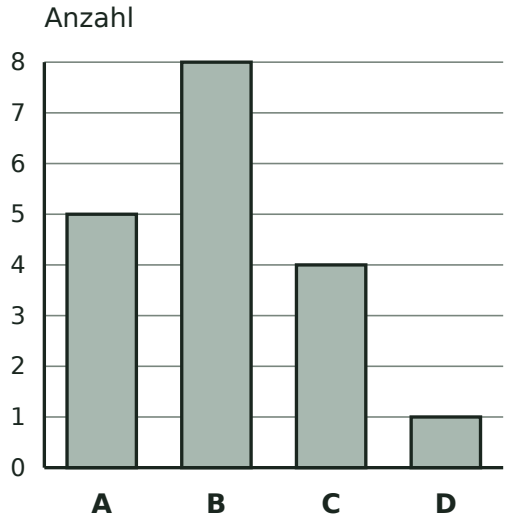

a) In welcher Gruppe sind die meisten Dinge? ☐

b) Wie viele Dinge sind es in Gruppe B und A zusammen? ☐

c) Wie viele Dinge mehr sind in Gruppe B als in Gruppe A? ☐