Bâtons de comptage et barres · Cahier

Trie les images par type. Commence chaque barre à la première case. Puis réponds à l’aide des barres de la partie 2.

Prénom: _____ Date: _____

Dépôt de véhicules

1 **Fais des bâtons de comptage, puis colorie une case par objet.**

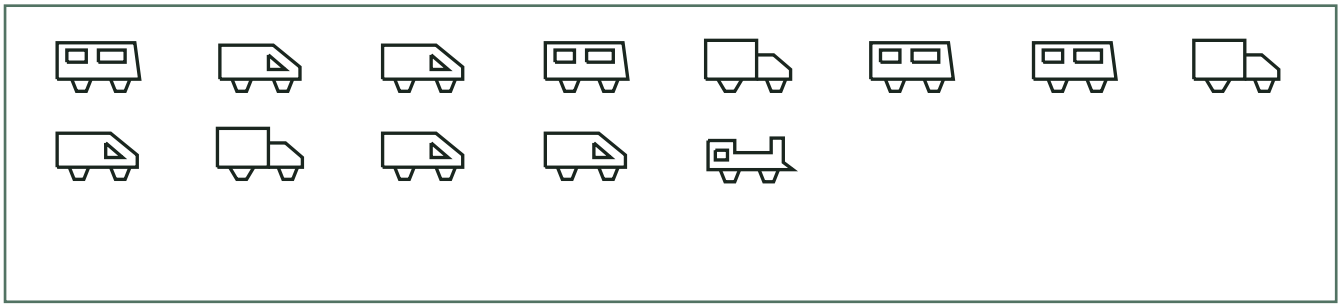

	Comptage	Barres
A		
B		
C		
D		

2 **Lis ces barres.**



a) Quel groupe a le plus d’objets ? **C**

b) Combien d’objets y a-t-il dans le groupe D ? **5**

Bâtons de comptage et barres · Cahier

Trie les images par type. Commence chaque barre à la première case. Puis réponds à l’aide des barres de la partie 2.

Prénom: _____ Date: _____

Abri de jardin

1 **Fais des bâtons de comptage, puis colorie une case par objet.**

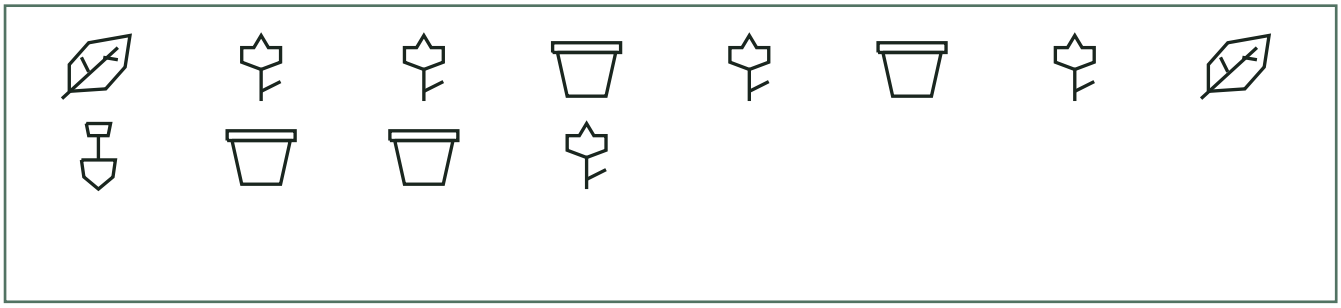

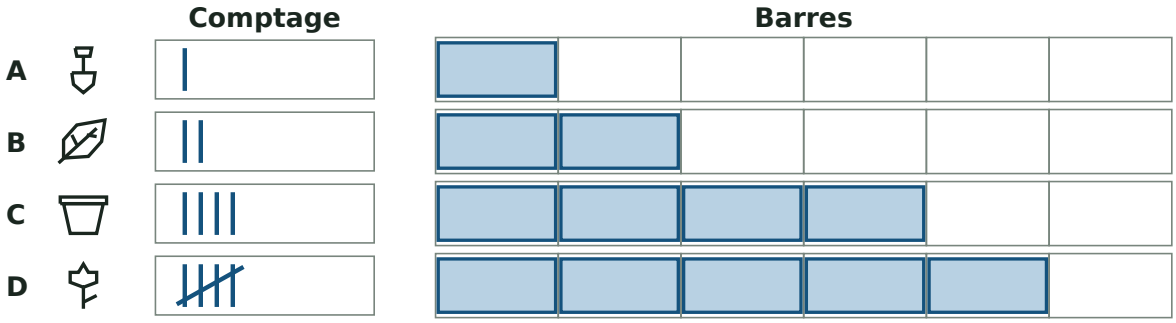

2 **Lis ces barres.**



a) Quel groupe a le plus d’objets ? **B**

b) Combien d’objets y a-t-il dans le groupe C ? **3**

Bâtons de comptage et barres · Cahier

Trie les images par type. Commence chaque barre à la première case. Puis réponds à l’aide des barres de la partie 2.

Prénom: _____ Date: _____

Établi

1 **Fais des bâtons de comptage, puis colorie une case par objet.**

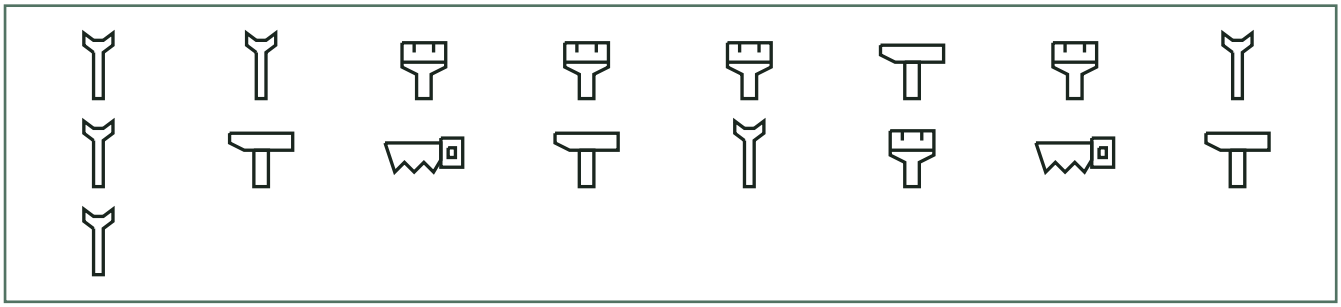

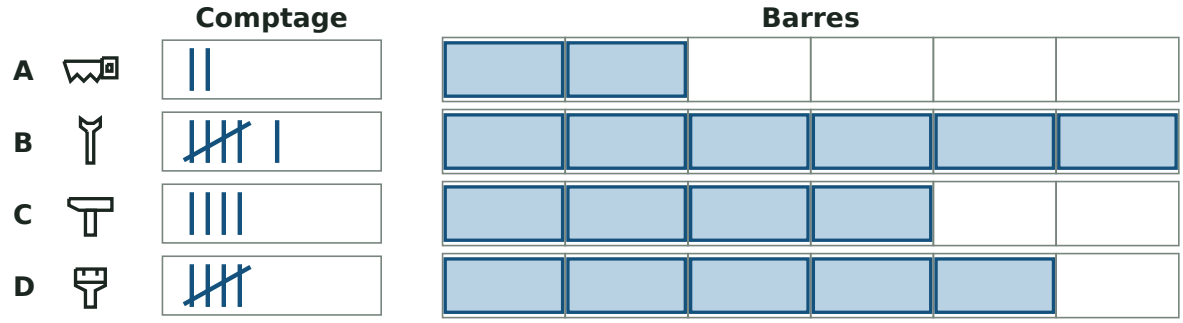

2 **Lis ces barres.**



a) Quel groupe a le plus d’objets ? **D**

b) Combien d’objets y a-t-il dans le groupe A ? **4**

Bâtons de comptage et barres · Cahier

Trie les images par type. Commence chaque barre à la première case. Puis réponds à l’aide des barres de la partie 2.

Prénom: _____ Date: _____

Panier de pique-nique

1 **Fais des bâtons de comptage, puis colorie une case par objet.**

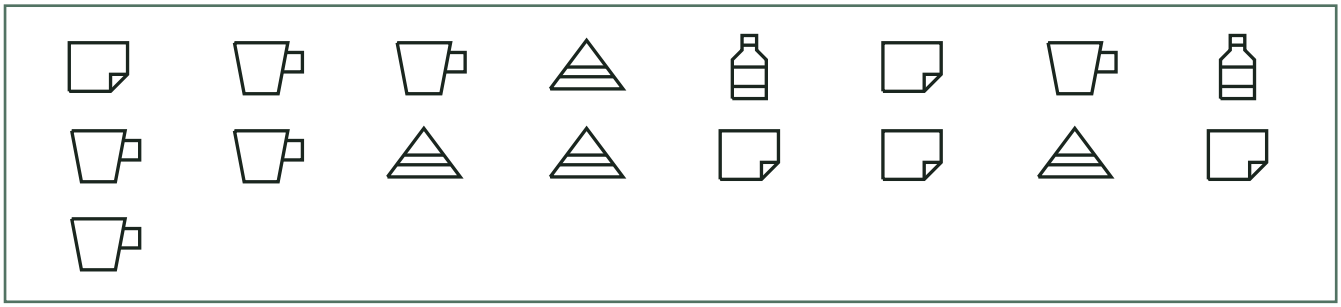

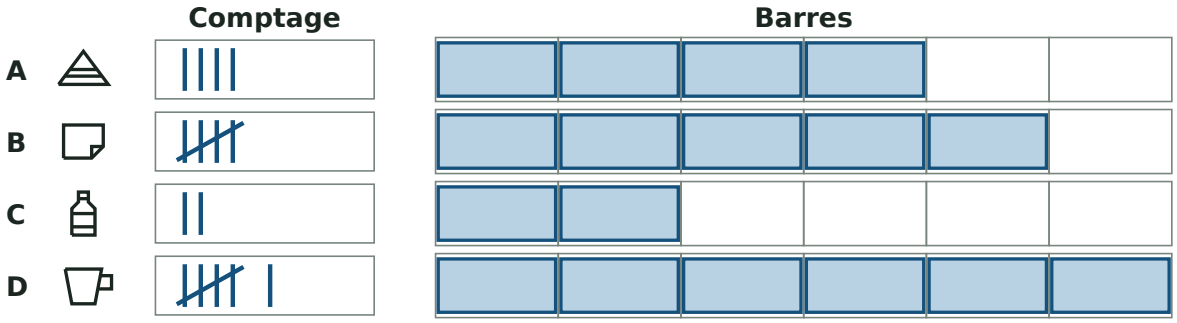

2 **Lis ces barres.**



a) Quel groupe a le plus d’objets ? **B**

b) Combien d’objets y a-t-il dans le groupe A ? **5**

Bâtons de comptage et barres · Cahier

Trie les images par type. Commence chaque barre à la première case. Puis réponds à l’aide des barres de la partie 2.

Prénom: _____ Date: _____

Dans le ciel

1 **Fais des bâtons de comptage, puis colorie une case par objet.**

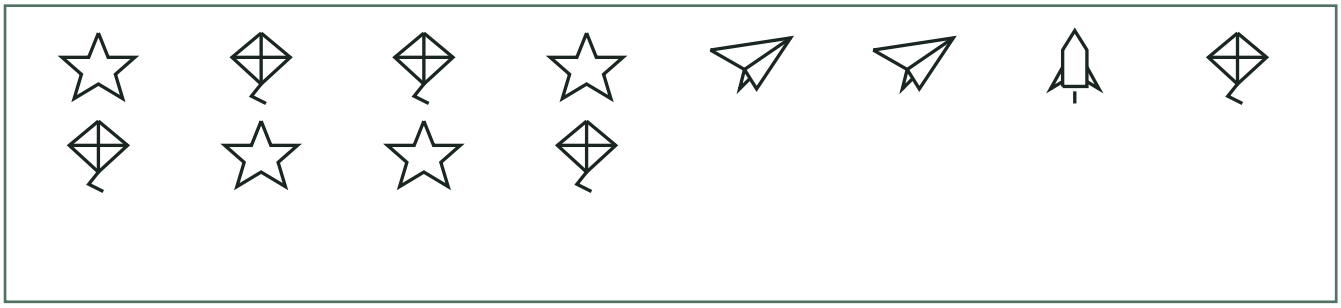

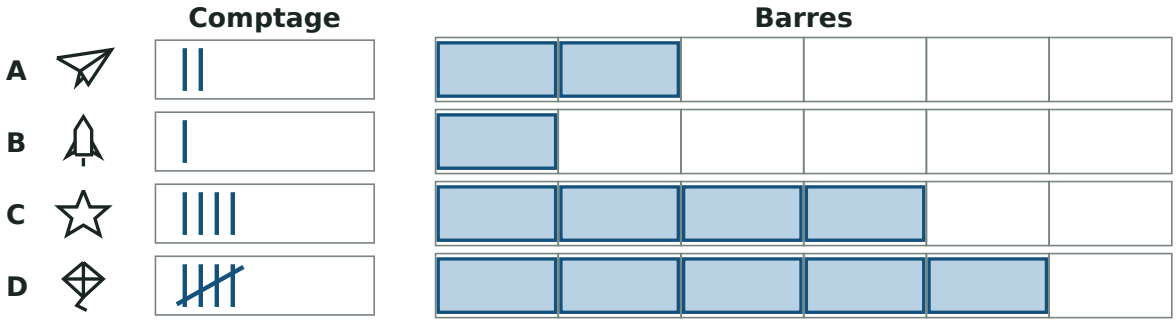

2 **Lis ces barres.**

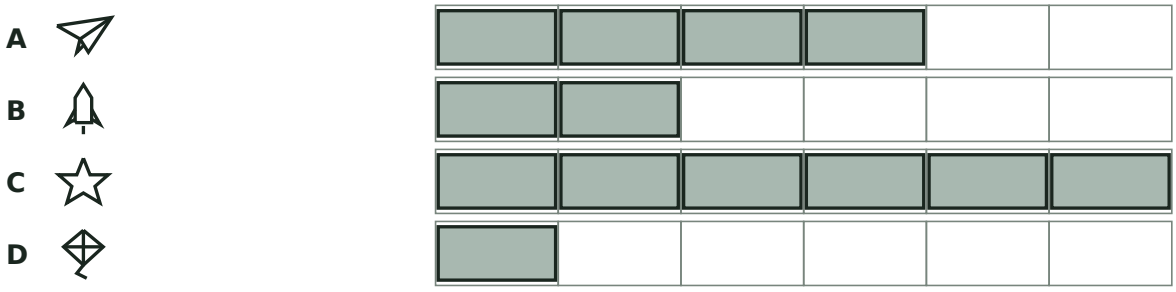

a) Quel groupe a le plus d’objets ? **C**

b) Combien d’objets y a-t-il dans le groupe A ? **4**