Marcas de recuento y barras · Cuaderno

Clasifica los dibujos. Empieza cada barra en su primera casilla. Luego responde con las barras de la parte 2.

Nombre: _____ Fecha: _____

Cochera

1 **Haz marcas de recuento y colorea una casilla por objeto.**

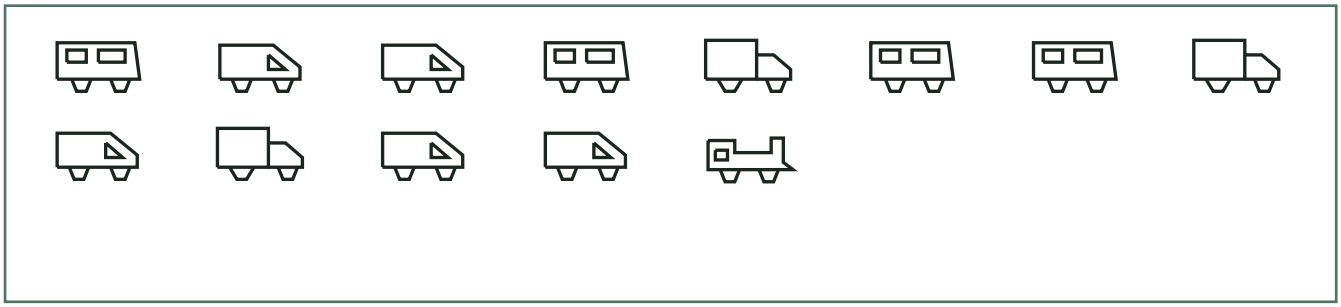

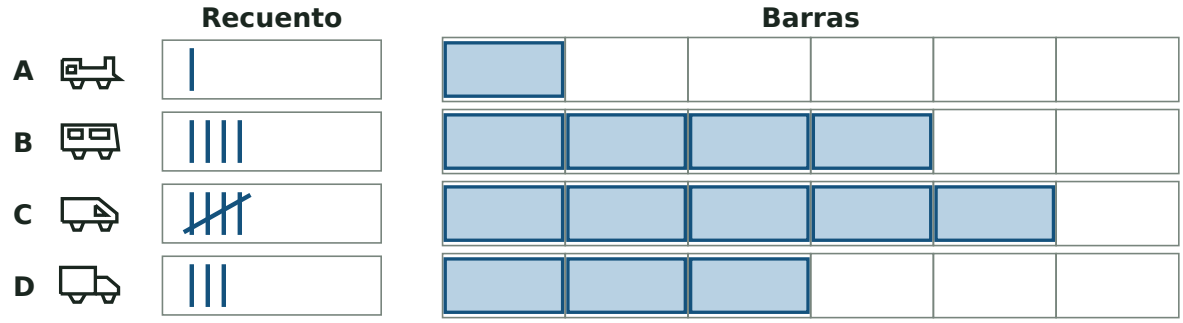

2 **Lee estas barras.**



a) ¿Qué grupo tiene más objetos? **C**

b) ¿Cuántos objetos hay en el grupo D? **5**

Marcas de recuento y barras · Cuaderno

Clasifica los dibujos. Empieza cada barra en su primera casilla. Luego responde con las barras de la parte 2.

Nombre: _____ Fecha: _____

Cobertizo del jardín

1 **Haz marcas de recuento y colorea una casilla por objeto.**

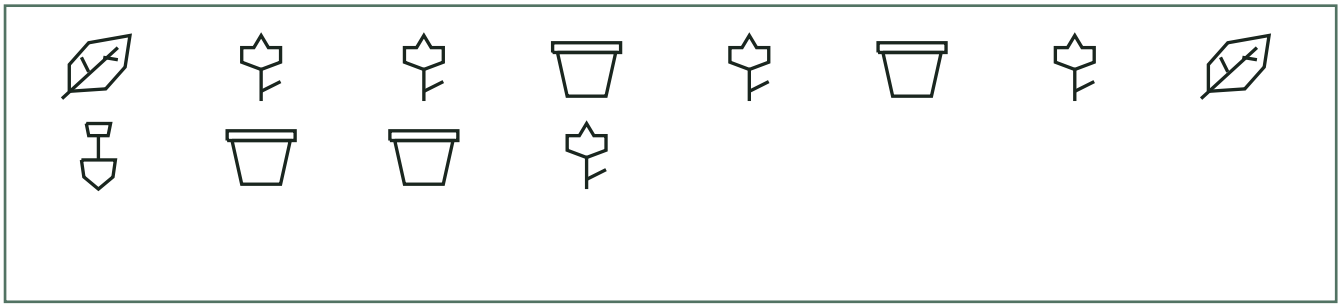

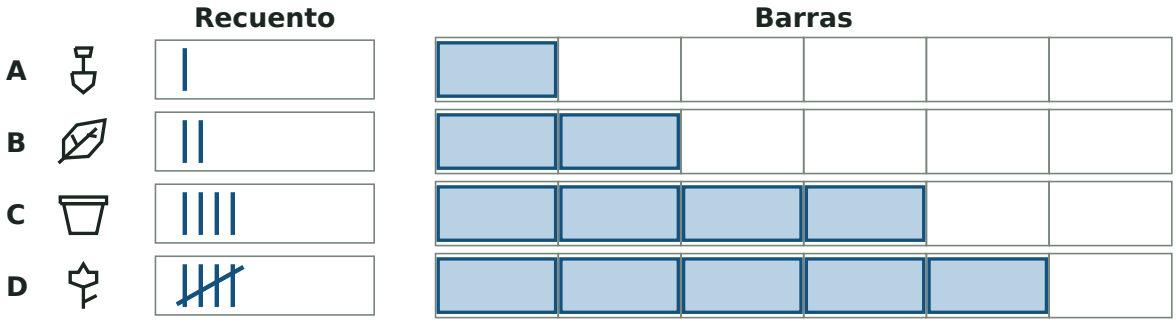

2 **Lee estas barras.**



a) ¿Qué grupo tiene más objetos? **B**

b) ¿Cuántos objetos hay en el grupo C? **3**

Marcas de recuento y barras · Cuaderno

Clasifica los dibujos. Empieza cada barra en su primera casilla. Luego responde con las barras de la parte 2.

Nombre: _____ Fecha: _____

Banco de trabajo

1 **Haz marcas de recuento y colorea una casilla por objeto.**

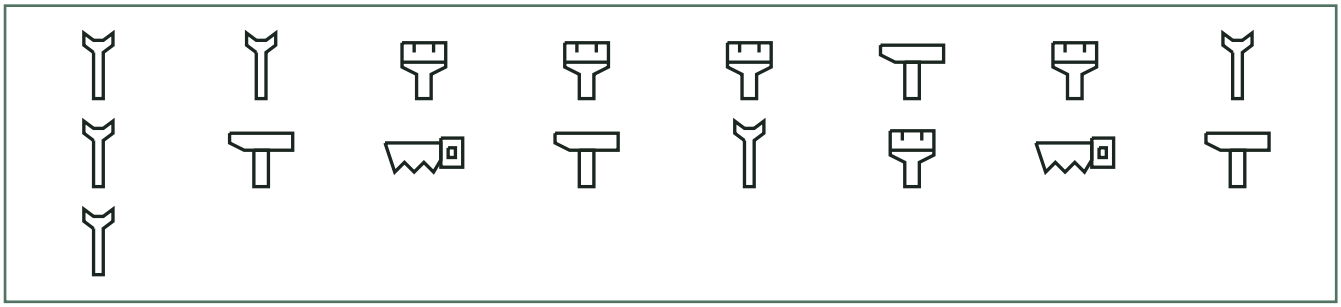

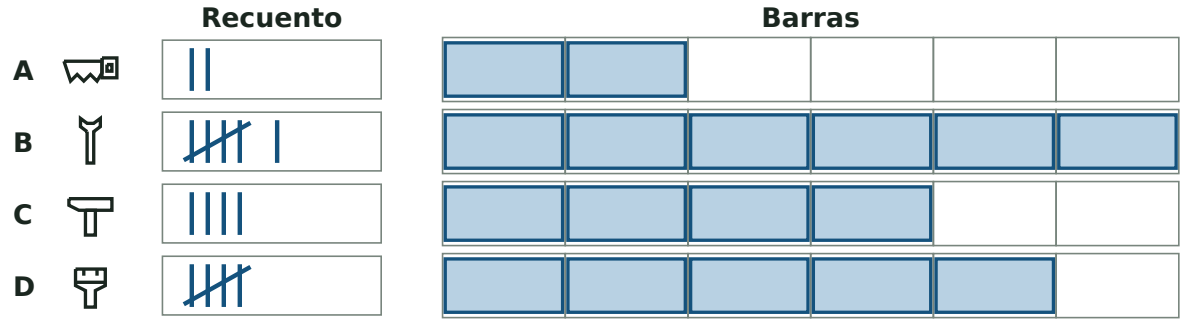

2 **Lee estas barras.**



a) ¿Qué grupo tiene más objetos? **D**

b) ¿Cuántos objetos hay en el grupo A? **4**

Marcas de recuento y barras · Cuaderno

Clasifica los dibujos. Empieza cada barra en su primera casilla. Luego responde con las barras de la parte 2.

Nombre: _____ Fecha: _____

Cesta de picnic

1 **Haz marcas de recuento y colorea una casilla por objeto.**

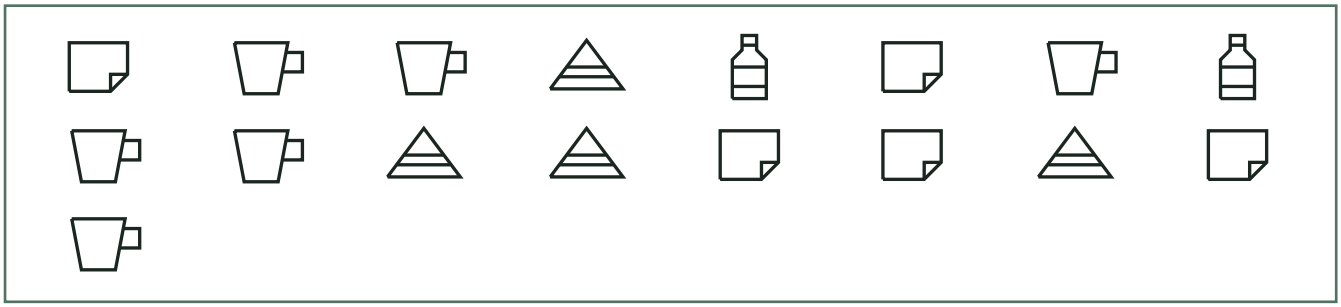

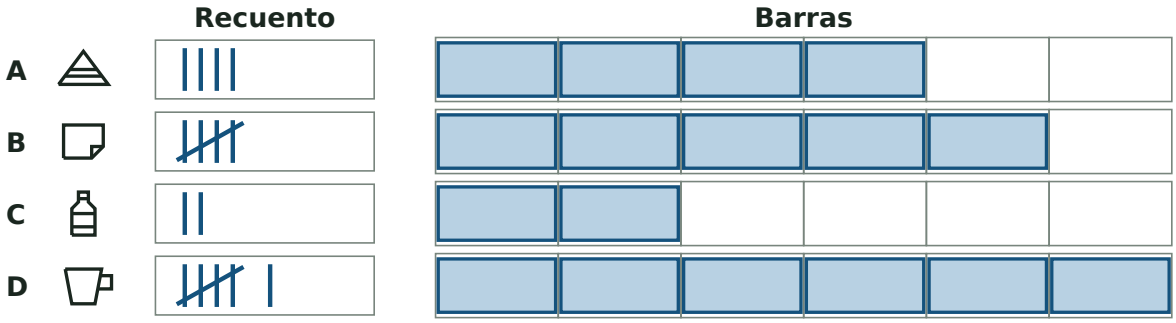

2 **Lee estas barras.**



a) ¿Qué grupo tiene más objetos? **B**

b) ¿Cuántos objetos hay en el grupo A? **5**

Marcas de recuento y barras · Cuaderno

Clasifica los dibujos. Empieza cada barra en su primera casilla. Luego responde con las barras de la parte 2.

Nombre: _____ Fecha: _____

En el cielo

1 **Haz marcas de recuento y colorea una casilla por objeto.**

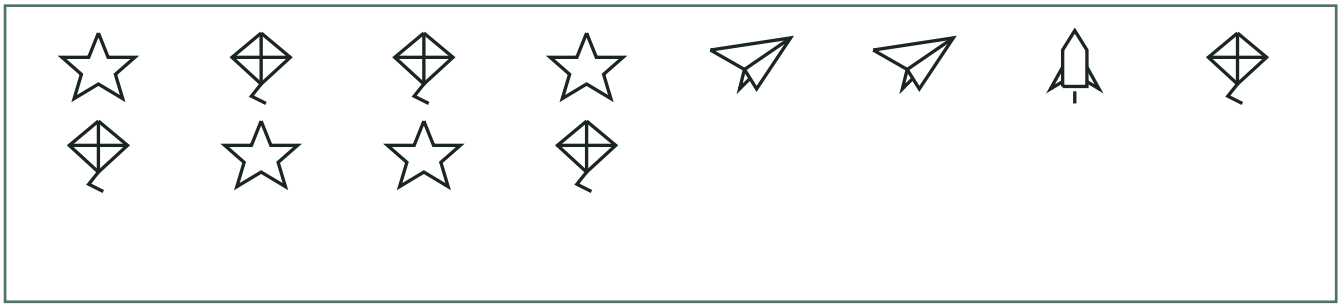

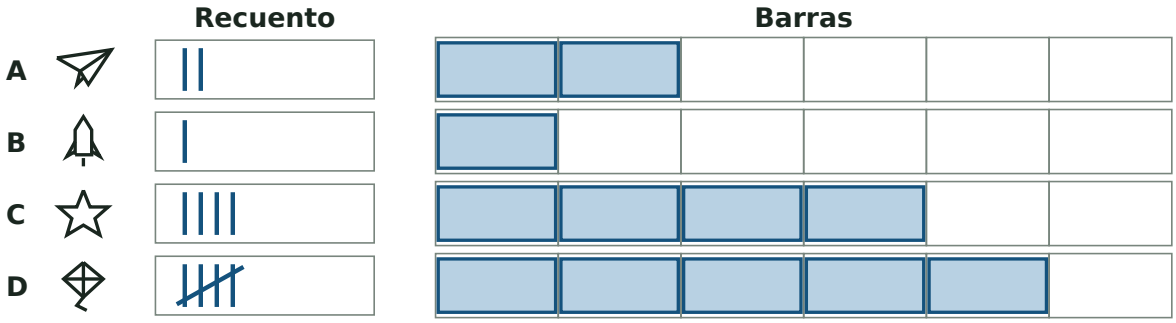

2 **Lee estas barras.**



a) ¿Qué grupo tiene más objetos? **C**

b) ¿Cuántos objetos hay en el grupo A? **4**