Strichlisten und Balken · Übungsheft

Sortiere die Bilder. Beginne jeden Balken beim ersten Kästchen. Nutze die Balken in Teil 2 für deine Antworten.

Name: _____ Datum: _____

Fahrzeugdepot

1 **Führe eine Strichliste und male je Objekt ein Kästchen aus.**

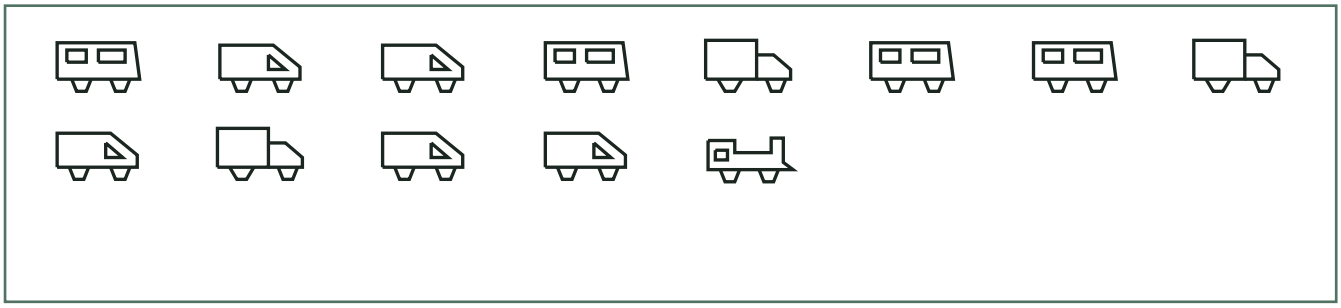

	Strichliste	Balken
A	|	
B	||||	
C	|||| |	
D	|||	

2 **Lies die Balken.**



a) In welcher Gruppe sind die meisten Dinge? **C**

b) Wie viele Dinge sind in Gruppe D? **5**

Strichlisten und Balken · Übungsheft

Sortiere die Bilder. Beginne jeden Balken beim ersten Kästchen. Nutze die Balken in Teil 2 für deine Antworten.

Name: _____ Datum: _____

Gartenhaus

1 **Führe eine Strichliste und male je Objekt ein Kästchen aus.**

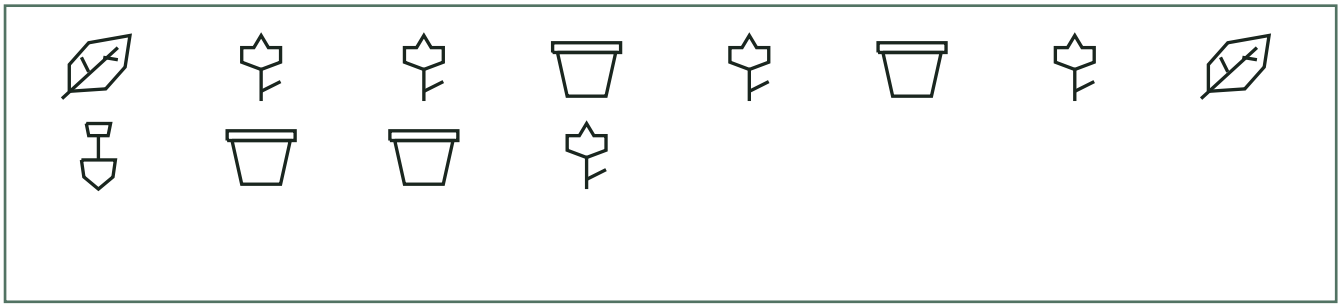

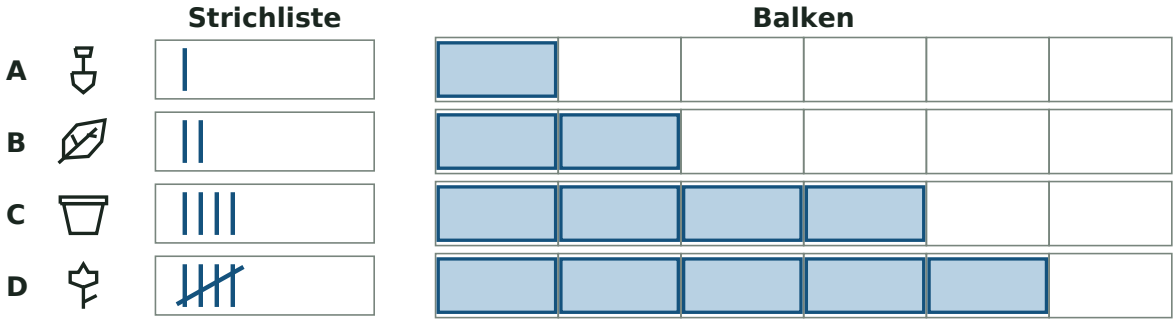

2 **Lies die Balken.**



a) In welcher Gruppe sind die meisten Dinge? **B**

b) Wie viele Dinge sind in Gruppe C? **3**

Strichlisten und Balken · Übungsheft

Sortiere die Bilder. Beginne jeden Balken beim ersten Kästchen. Nutze die Balken in Teil 2 für deine Antworten.

Name: _____ Datum: _____

Werkbank

1 **Führe eine Strichliste und male je Objekt ein Kästchen aus.**

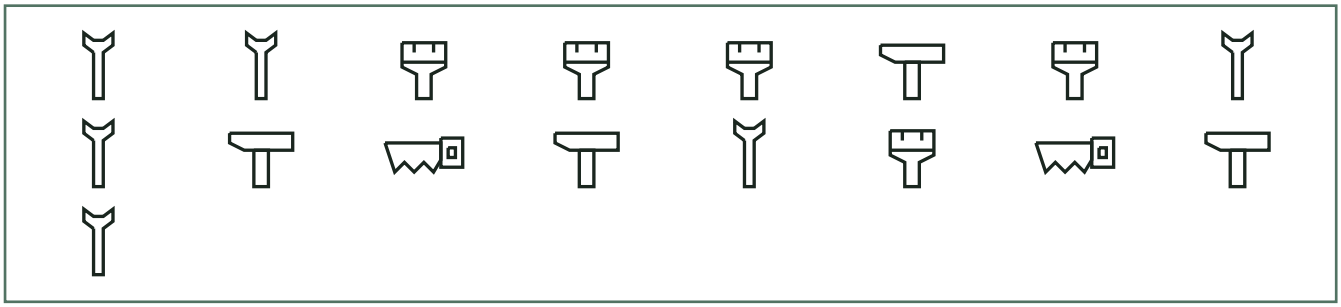

	Strichliste	Balken
A	II	
B	𝍸 I	
C	𝍸	
D	𝍸	

2 **Lies die Balken.**



a) In welcher Gruppe sind die meisten Dinge? **D**

b) Wie viele Dinge sind in Gruppe A? **4**

Strichlisten und Balken · Übungsheft

Sortiere die Bilder. Beginne jeden Balken beim ersten Kästchen. Nutze die Balken in Teil 2 für deine Antworten.

Name: _____ Datum: _____

Picknickkorb

1 **Führe eine Strichliste und male je Objekt ein Kästchen aus.**

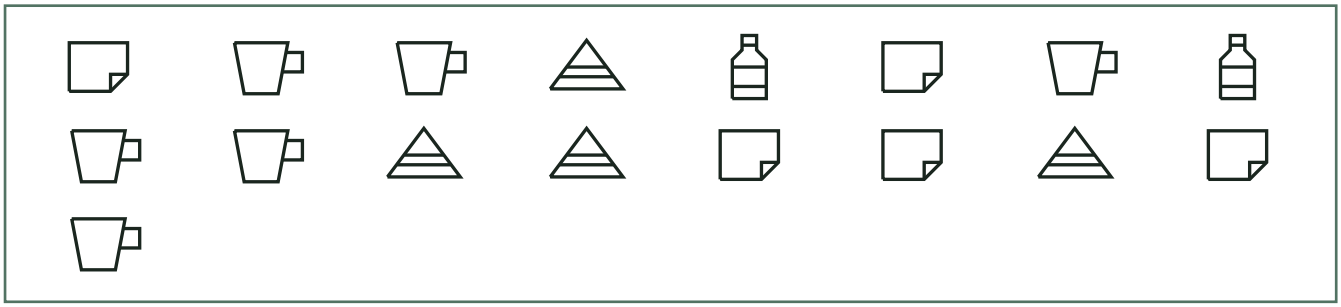

		Strichliste	Balken
A		4	4
B		5	5
C		2	2
D		6	6

2 **Lies die Balken.**

A		5
B		6
C		1
D		4

a) In welcher Gruppe sind die meisten Dinge? **B**

b) Wie viele Dinge sind in Gruppe A? **5**

Strichlisten und Balken · Übungsheft

Sortiere die Bilder. Beginne jeden Balken beim ersten Kästchen. Nutze die Balken in Teil 2 für deine Antworten.

Name: _____ Datum: _____

Am Himmel

1 **Führe eine Strichliste und male je Objekt ein Kästchen aus.**

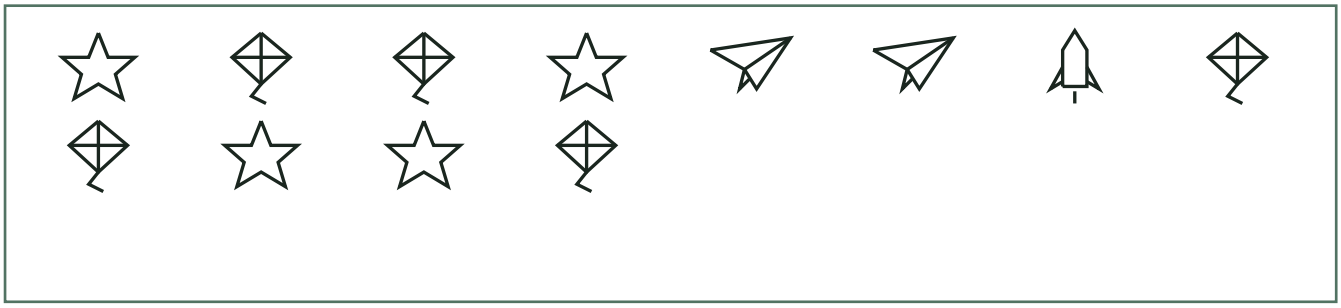

		Strichliste	Balken
A		II	
B		I	
C		IIII	
D		~~IIII~~	

2 **Lies die Balken.**

A	
B	
C	
D	

a) In welcher Gruppe sind die meisten Dinge? **C**

b) Wie viele Dinge sind in Gruppe A? **4**