Strichlisten und Balken · Übungsheft

Sortiere die Bilder. Beginne jeden Balken beim ersten Kästchen. Nutze die Balken in Teil 2 für deine Antworten.

Name: _____ Datum: _____

Fahrzeugdepot

1 **Führe eine Strichliste und male je Objekt ein Kästchen aus.**

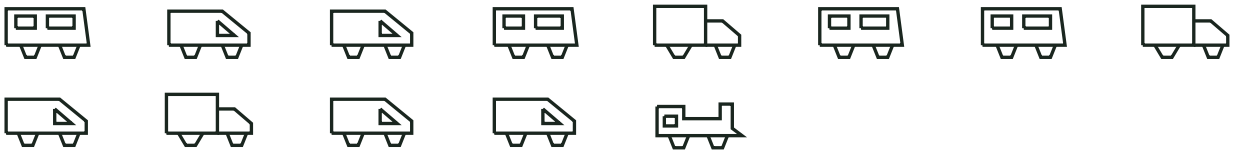

	Strichliste	Balken
A		
B		
C		
D		

2 **Lies die Balken.**

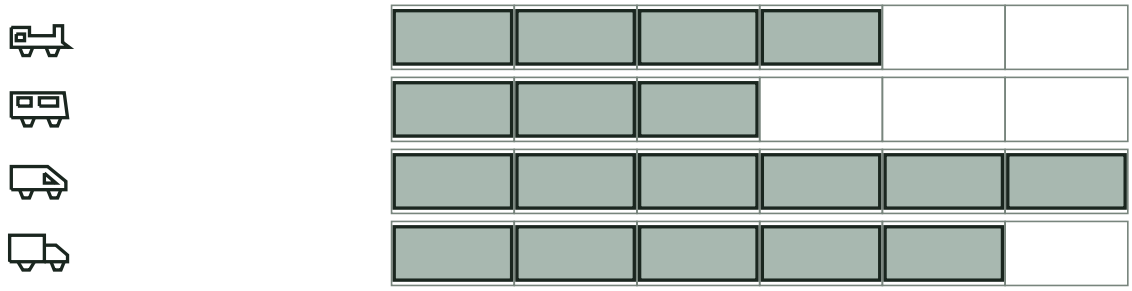

a) In welcher Gruppe sind die meisten Dinge? _____

b) Wie viele Dinge sind in Gruppe D? _____

Strichlisten und Balken · Übungsheft

Sortiere die Bilder. Beginne jeden Balken beim ersten Kästchen. Nutze die Balken in Teil 2 für deine Antworten.

Name: _____ Datum: _____

Gartenhaus

1 **Führe eine Strichliste und male je Objekt ein Kästchen aus.**

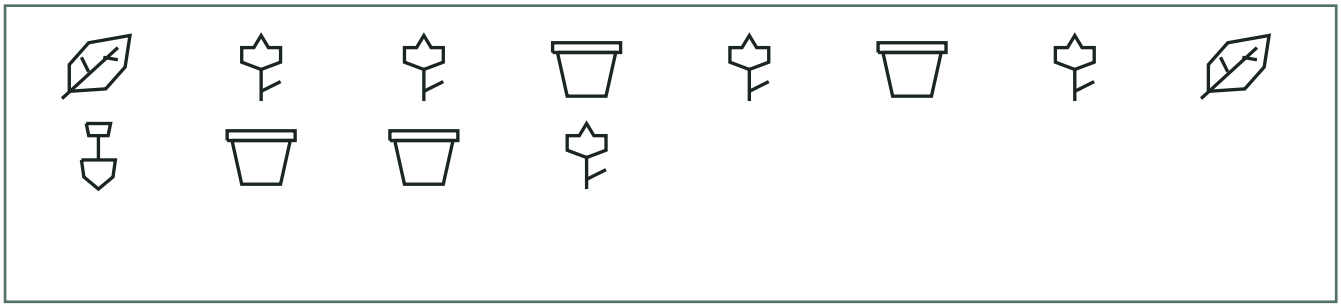

	Strichliste	Balken
A		
B		
C		
D		

2 **Lies die Balken.**



a) In welcher Gruppe sind die meisten Dinge? _____

b) Wie viele Dinge sind in Gruppe C? _____

Strichlisten und Balken · Übungsheft

Sortiere die Bilder. Beginne jeden Balken beim ersten Kästchen. Nutze die Balken in Teil 2 für deine Antworten.

Name: _____ Datum: _____

Werkbank

1 Führe eine Strichliste und male je Objekt ein Kästchen aus.

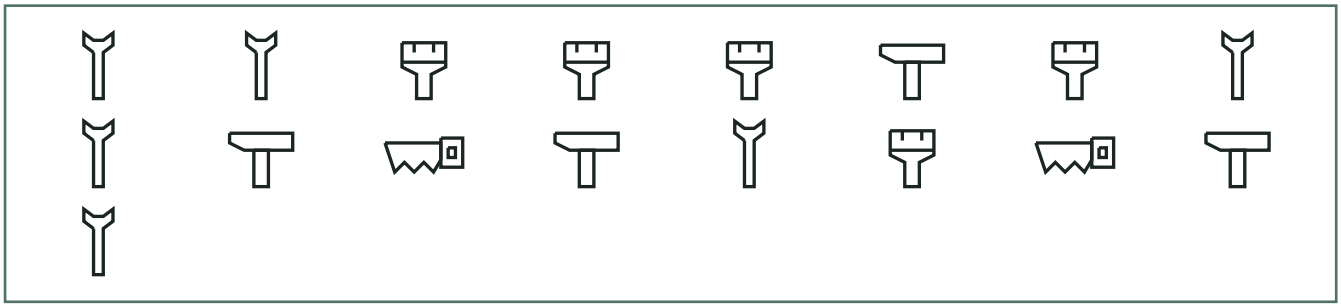

	Strichliste	Balken
A		
B		
C		
D		

2 Lies die Balken.



a) In welcher Gruppe sind die meisten Dinge? _____

b) Wie viele Dinge sind in Gruppe A? _____

Strichlisten und Balken · Übungsheft

Sortiere die Bilder. Beginne jeden Balken beim ersten Kästchen. Nutze die Balken in Teil 2 für deine Antworten.

Name: _____ Datum: _____

Picknickkorb

1 **Führe eine Strichliste und male je Objekt ein Kästchen aus.**

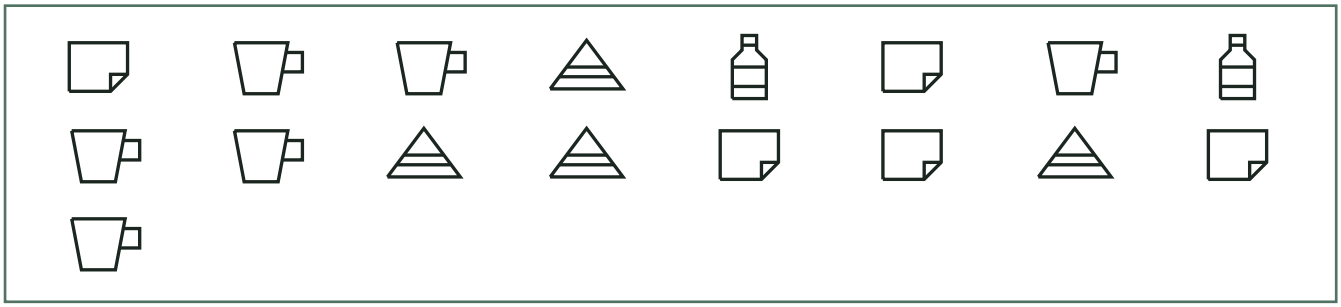

	Strichliste	Balken
A		
B		
C		
D		

2 **Lies die Balken.**



a) In welcher Gruppe sind die meisten Dinge? _____

b) Wie viele Dinge sind in Gruppe A? _____

Strichlisten und Balken · Übungsheft

Sortiere die Bilder. Beginne jeden Balken beim ersten Kästchen. Nutze die Balken in Teil 2 für deine Antworten.

Name: _____ Datum: _____

Am Himmel

1 **Führe eine Strichliste und male je Objekt ein Kästchen aus.**

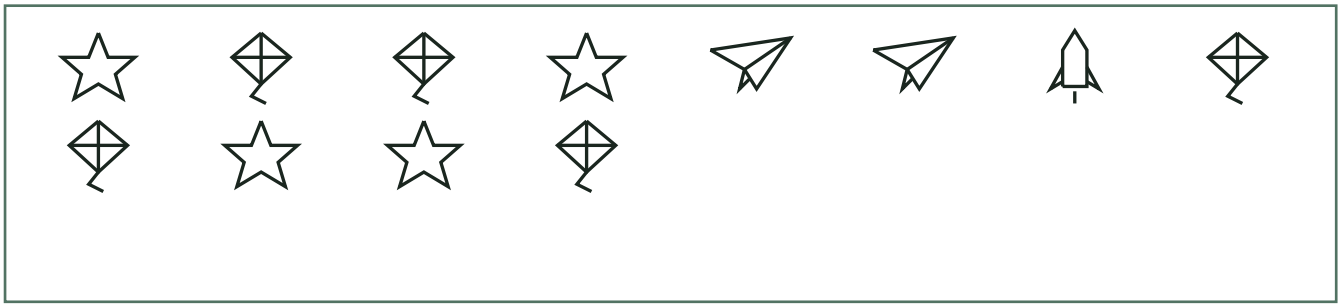

	Strichliste	Balken
A		
B		
C		
D		

2 **Lies die Balken.**



a) In welcher Gruppe sind die meisten Dinge?

b) Wie viele Dinge sind in Gruppe A?