Tourne les figures et compte leurs sommets · Cahier

Suis les consignes de chaque page et observe les figures. Un adulte peut lire les consignes à voix haute.

Prénom: _____ Date: _____

Inspection des pièces

Entoure la pièce qui correspond à l’indice. Certaines pièces sont tournées.

Quand on tourne une figure, ses côtés et ses sommets ne changent pas.

1 Triangle



A



B



C

2 4 côtés droits



A



B



C

3 5 côtés droits

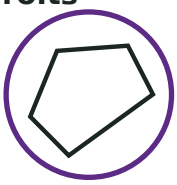

A



B



C

4 Carré



A



B



C

Tourne les figures et compte leurs sommets · Cahier

Suis les consignes de chaque page et observe les figures. Un adulte peut lire les consignes à voix haute.

Prénom: _____ Date: _____

Les pièces du robot

Compte les côtés droits. Coche une case par ligne.

Quand on tourne une figure, ses côtés et ses sommets ne changent pas.

		3 côtés droits	4 ou 5 côtés droits
1		☑	☐
2		☐	☑
3		☑	☐
4		☐	☑
5		☑	☐
6	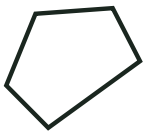	☐	☑

Tourne les figures et compte leurs sommets · Cahier

Suis les consignes de chaque page et observe les figures. Un adulte peut lire les consignes à voix haute.

Prénom: _____

Date: _____

Carnet des figures

Compte les côtés droits et les sommets. Écris les deux nombres.

Quand on tourne une figure, ses côtés et ses sommets ne changent pas.

		Côtés droits	Sommets
1		4	4
2		3	3
3		5	5
4		4	4