Gira figuras y cuenta sus vértices · Cuaderno

Lee las instrucciones de cada página y observa las figuras. Un adulto puede leerlas en voz alta.

Nombre: _____ Fecha: _____

Inspector de fichas

Rodea la ficha que cumple la pista. Algunas fichas están giradas.

Al girar una figura, sus lados y vértices siguen siendo los mismos.

1 Triángulo



A



B



C

2 4 lados rectos



A



B



C

3 5 lados rectos



A



B



C

4 Cuadrado



A



B



C

Gira figuras y cuenta sus vértices · Cuaderno

Lee las instrucciones de cada página y observa las figuras. Un adulto puede leerlas en voz alta.

Nombre: _____ Fecha: _____

Piezas del robot

Cuenta los lados rectos. Marca una casilla en cada fila.

Al girar una figura, sus lados y vértices siguen siendo los mismos.

		3 lados rectos	4 o 5 lados rectos
1		☐	☐
2		☐	☐
3		☐	☐
4		☐	☐
5		☐	☐
6	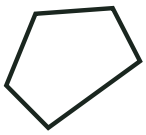	☐	☐

Gira figuras y cuenta sus vértices · Cuaderno

Lee las instrucciones de cada página y observa las figuras. Un adulto puede leerlas en voz alta.

Nombre: _____ Fecha: _____

Cuaderno de figuras

Cuenta los lados rectos y los vértices. Escribe los dos números.

Al girar una figura, sus lados y vértices siguen siendo los mismos.

		Lados rectos	Vértices
1			
2			
3			
4			