Figuren drehen und Ecken zählen · Übungsheft

Lies die Aufgaben und schau dir die Figuren an. Ein Erwachsener kann dir die Aufgaben vorlesen.

Name: _____ Datum: _____

Formenprüfung

Kreise das passende Teil ein. Manche Teile sind gedreht.

Beim Drehen bleiben Seiten und Ecken gleich.

1 Dreieck



A



B



C

---

2 4 gerade Seiten



A



B



C

---

3 5 gerade Seiten

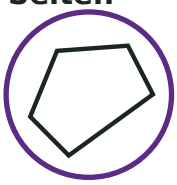

A



B



C

---

4 Quadrat



A



B



C

Figuren drehen und Ecken zählen · Übungsheft

Lies die Aufgaben und schau dir die Figuren an. Ein Erwachsener kann dir die Aufgaben vorlesen.

Name: _____ Datum: _____

Teile für den Roboter

Zähle die geraden Seiten. Kreuze pro Zeile ein Kästchen an.

Beim Drehen bleiben Seiten und Ecken gleich.

		3 gerade Seiten	4 oder 5 gerade Seiten
1		☑	☐
2		☐	☑
3		☑	☐
4		☐	☑
5		☑	☐
6	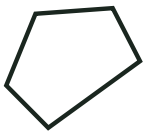	☐	☑

Figuren drehen und Ecken zählen · Übungsheft

Lies die Aufgaben und schau dir die Figuren an. Ein Erwachsener kann dir die Aufgaben vorlesen.

Name: _____ Datum: _____

Formenheft

Zähle die geraden Seiten und die Ecken. Schreibe beide Zahlen auf.

Beim Drehen bleiben Seiten und Ecken gleich.

		Gerade Seiten	Ecken
1		4	4
2		3	3
3		5	5
4		4	4