Classe les rectangles et les carrés · Cahier

Suis les consignes de chaque page et observe les figures. Un adulte peut lire les consignes à voix haute.

Prénom: _____ Date: _____

Inspection des pièces

Entoure la pièce qui correspond à tout l’indice.

Un rectangle est un quadrilatère à quatre angles droits.
Un carré est un rectangle à quatre côtés égaux.
Un quadrilatère est un polygone à quatre côtés.

1 Rectangle à 4 côtés égaux



A



B



C

2 Rectangle à 2 longueurs de côté



A



B



C

3 4 côtés égaux et aucun angle droit



A



B



C

4 4 côtés, aucun angle droit



A

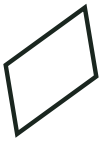

B



C

Classe les rectangles et les carrés · Cahier

Suis les consignes de chaque page et observe les figures. Un adulte peut lire les consignes à voix haute.

Prénom: _____ Date: _____

Les pièces du robot

Coche chaque case qui convient. Deux cases, une seule ou aucune peuvent convenir.

Un rectangle est un quadrilatère à quatre angles droits.
Un carré est un rectangle à quatre côtés égaux.
Un quadrilatère est un polygone à quatre côtés.

		Rectangle	4 côtés égaux
1		☐	☐
2		☐	☐
3		☐	☐
4		☐	☐
5		☐	☐
6		☐	☐

Classe les rectangles et les carrés · Cahier

Suis les consignes de chaque page et observe les figures. Un adulte peut lire les consignes à voix haute.

Prénom: _____ Date: _____

Vérifie les étiquettes

L’étiquette convient-elle à la pièce ? Coche Oui ou Non.

Un rectangle est un quadrilatère à quatre angles droits.
Un carré est un rectangle à quatre côtés égaux.
Un quadrilatère est un polygone à quatre côtés.

		Oui	Non
1	 Rectangle	☐	☐
2	 Carré	☐	☐
3	 Quadrilatère	☐	☐
4	 Triangle	☐	☐