Clasifica rectángulos y cuadrados · Cuaderno

Lee las instrucciones de cada página y observa las figuras. Un adulto puede leerlas en voz alta.

Nombre: _____ Fecha: _____

Inspector de fichas

Rodea la ficha que cumple toda la pista.

Un rectángulo es un cuadrilátero con cuatro ángulos rectos.
Un cuadrado es un rectángulo con cuatro lados iguales.
Un cuadrilátero es un polígono de cuatro lados rectos.

1 Rectángulo con 4 lados iguales



A



B



C

2 Rectángulo con 2 longitudes de lado



A



B



C

3 4 lados iguales y ningún ángulo recto



A



B



C

4 4 lados, sin ángulos rectos



A

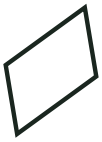

B



C

Clasifica rectángulos y cuadrados · Cuaderno

Lee las instrucciones de cada página y observa las figuras. Un adulto puede leerlas en voz alta.

Nombre: _____ Fecha: _____

Piezas del robot

Marca todas las casillas que correspondan: pueden ser dos, una o ninguna.

Un rectángulo es un cuadrilátero con cuatro ángulos rectos.
Un cuadrado es un rectángulo con cuatro lados iguales.
Un cuadrilátero es un polígono de cuatro lados rectos.

		Rectángulo	4 lados iguales
1		☐	☐
2		☐	☐
3		☐	☐
4		☐	☐
5		☐	☐
6		☐	☐

Clasifica rectángulos y cuadrados · Cuaderno

Lee las instrucciones de cada página y observa las figuras. Un adulto puede leerlas en voz alta.

Nombre: _____ Fecha: _____

Revisión de etiquetas

¿Es correcta la etiqueta de cada ficha? Marca Sí o No.

Un rectángulo es un cuadrilátero con cuatro ángulos rectos.
Un cuadrado es un rectángulo con cuatro lados iguales.
Un cuadrilátero es un polígono de cuatro lados rectos.

			Sí	No
1		Rectángulo	☐	☐
2		Cuadrado	☐	☐
3		Cuadrilátero	☐	☐
4		Triángulo	☐	☐