Rechtecke und Quadrate einordnen · Übungsheft

Lies die Aufgaben und schau dir die Figuren an. Ein Erwachsener kann dir die Aufgaben vorlesen.

Name: _____ Datum: _____

Formenprüfung

Kreise das Teil ein, auf das der ganze Hinweis zutrifft.

Ein Rechteck ist ein Viereck mit vier rechten Winkeln.
Ein Quadrat ist ein Rechteck mit vier gleich langen Seiten.
Ein Viereck ist ein Vieleck mit vier geraden Seiten.

1 Rechteck mit 4 gleich langen Seiten



A



B



C

2 Rechteck mit 2 Seitenlängen



A



B



C

3 4 gleich lange Seiten und kein rechter Winkel



A



B



C

4 4 Seiten, kein rechter Winkel



A

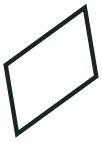

B



C

Rechtecke und Quadrate einordnen · Übungsheft

Lies die Aufgaben und schau dir die Figuren an. Ein Erwachsener kann dir die Aufgaben vorlesen.

Name: _____ Datum: _____

Teile für den Roboter

Kreuze alle passenden Felder an. Es können beide, eins oder keines passen.

Ein Rechteck ist ein Viereck mit vier rechten Winkeln.
Ein Quadrat ist ein Rechteck mit vier gleich langen Seiten.
Ein Viereck ist ein Vieleck mit vier geraden Seiten.

		Rechteck	4 gleich lange Seiten
1		☐	☐
2		☐	☐
3		☐	☐
4		☐	☐
5		☐	☐
6		☐	☐

Rechtecke und Quadrate einordnen · Übungsheft

Lies die Aufgaben und schau dir die Figuren an. Ein Erwachsener kann dir die Aufgaben vorlesen.

Name: _____ Datum: _____

Etiketten prüfen

Passt das Etikett zur Figur? Kreuze Ja oder Nein an.

Ein Rechteck ist ein Viereck mit vier rechten Winkeln.
Ein Quadrat ist ein Rechteck mit vier gleich langen Seiten.
Ein Viereck ist ein Vieleck mit vier geraden Seiten.

			Ja	Nein
1		Rechteck	☐	☐
2		Quadrat	☐	☐
3		Viereck	☐	☐
4		Dreieck	☐	☐