Lis les marques d’égalité et d’angle droit · Cahier

Suis les consignes de chaque page et observe les figures. Un adulte peut lire les consignes à voix haute.

Prénom: _____ Date: _____

Inspection des pièces

Entoure la pièce qui correspond aux deux parties de l’indice.

Les mêmes traits indiquent des longueurs égales. Un petit carré marque un angle droit.

1 3 côtés et 1 angle droit

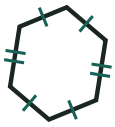

A

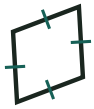

B



C

2 4 côtés et aucun angle droit



A

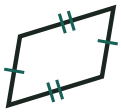

B



C

3 4 côtés égaux et aucun angle droit

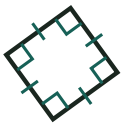

A

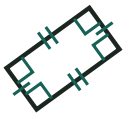

B



C

4 4 angles droits et 2 longueurs de côté

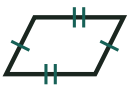

A

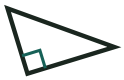

B

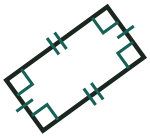

C

Lis les marques d’égalité et d’angle droit · Cahier

Suis les consignes de chaque page et observe les figures. Un adulte peut lire les consignes à voix haute.

Prénom: _____ Date: _____

Les pièces du robot

Repère le plus grand groupe de côtés égaux. Coche une case par ligne.

Les mêmes traits indiquent des longueurs égales. Un petit carré marque un angle droit.

		4 côtés égaux	Plus grand groupe : 1 à 3
1	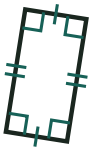	☐	☐
2	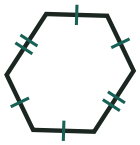	☐	☐
3	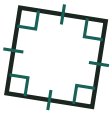	☐	☐
4		☐	☐
5	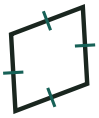	☐	☐
6		☐	☐

Lis les marques d’égalité et d’angle droit · Cahier

Suis les consignes de chaque page et observe les figures. Un adulte peut lire les consignes à voix haute.

Prénom: _____ Date: _____

Carnet des figures

Compte les angles droits. Combien de côtés compte le plus grand groupe de côtés égaux ?

Les mêmes traits indiquent des longueurs égales. Un petit carré marque un angle droit.
Si aucun côté n’a la même longueur qu’un autre, écris 1.

		Angles droits	Plus grand groupe égal
1	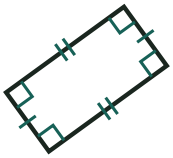		
2	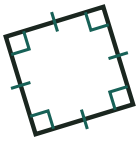		
3			
4	