Lee marcas de lados iguales y ángulos rectos · Cuaderno

Lee las instrucciones de cada página y observa las figuras. Un adulto puede leerlas en voz alta.

Nombre: _____ Fecha: _____

Inspector de fichas

Rodea la ficha que cumple las dos partes de la pista.

Las marcas iguales indican lados iguales. El cuadradito indica un ángulo recto.

1 **3 lados y 1 ángulo recto**

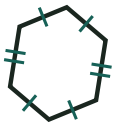

A

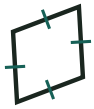

B



C

2 **4 lados y ningún ángulo recto**



A

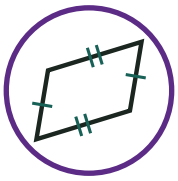

B



C

3 **4 lados iguales y ningún ángulo recto**

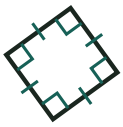

A

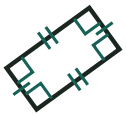

B

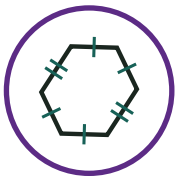

C

4 **4 ángulos rectos y 2 longitudes de lado**

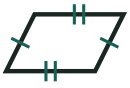

A

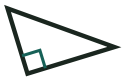

B

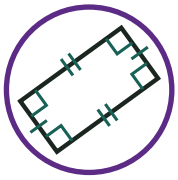

C

Lee marcas de lados iguales y ángulos rectos · Cuaderno

Lee las instrucciones de cada página y observa las figuras. Un adulto puede leerlas en voz alta.

Nombre: _____

Fecha: _____

Piezas del robot

Busca el mayor grupo de lados iguales. Marca una casilla por fila.

Las marcas iguales indican lados iguales. El cuadradito indica un ángulo recto.

		4 lados iguales	Mayor grupo: 1 a 3
1	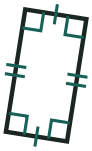	☐	☑
2	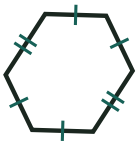	☑	☐
3	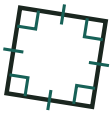	☑	☐
4		☐	☑
5	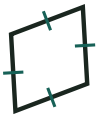	☑	☐
6		☐	☑

Lee marcas de lados iguales y ángulos rectos · Cuaderno

Lee las instrucciones de cada página y observa las figuras. Un adulto puede leerlas en voz alta.

Nombre: _____ Fecha: _____

Cuaderno de figuras

Cuenta los ángulos rectos. ¿Cuántos lados tiene el mayor grupo de lados iguales?

Las marcas iguales indican lados iguales. El cuadradito indica un ángulo recto.
Si no hay lados de la misma longitud, escribe 1.

		Ángulos rectos	Mayor grupo igual
1	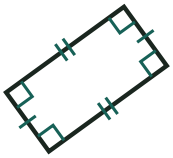	4	2
2	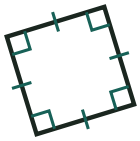	4	4
3		1	1
4	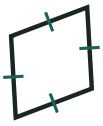	0	4