Gleich lange Seiten und rechte Winkel ablesen · Übungsheft

Lies die Aufgaben und schau dir die Figuren an. Ein Erwachsener kann dir die Aufgaben vorlesen.

Name: _____ Datum: _____

Formenprüfung

Kreise das Teil ein, auf das beide Hinweise zutreffen.

Gleiche Striche zeigen gleiche Längen. Ein kleines Quadrat markiert einen rechten Winkel.

1 3 Seiten und 1 rechter Winkel

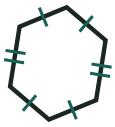

A

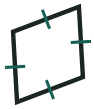

B



C

2 4 Seiten und kein rechter Winkel



A

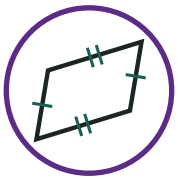

B



C

3 4 gleich lange Seiten und kein rechter Winkel

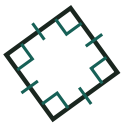

A

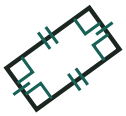

B

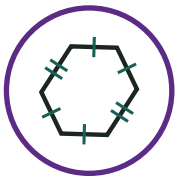

C

4 4 rechte Winkel und 2 Seitenlängen

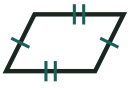

A

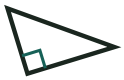

B

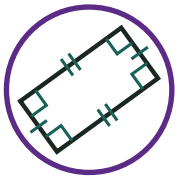

C

Gleich lange Seiten und rechte Winkel ablesen · Übungsheft

Lies die Aufgaben und schau dir die Figuren an. Ein Erwachsener kann dir die Aufgaben vorlesen.

Name: _____ Datum: _____

Teile für den Roboter

Suche die größte Gruppe gleich langer Seiten. Kreuze pro Zeile ein Feld an.

Gleiche Striche zeigen gleiche Längen. Ein kleines Quadrat markiert einen rechten Winkel.

		4 gleich lange Seiten	Größte Gruppe: 1 bis 3
1	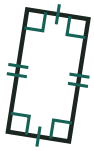	☐	☑
2	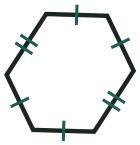	☑	☐
3	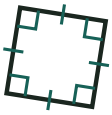	☑	☐
4		☐	☑
5	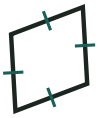	☑	☐
6		☐	☑

Gleich lange Seiten und rechte Winkel ablesen · Übungsheft

Lies die Aufgaben und schau dir die Figuren an. Ein Erwachsener kann dir die Aufgaben vorlesen.

Name: _____ Datum: _____

Formenheft

Zähle die rechten Winkel. Wie viele Seiten hat die größte Gruppe gleich langer Seiten?

Gleiche Striche zeigen gleiche Längen. Ein kleines Quadrat markiert einen rechten Winkel.
Sind alle Seiten verschieden lang, schreibe 1.

		Rechte Winkel	Größte gleich lange Gruppe
1	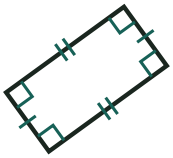	4	2
2	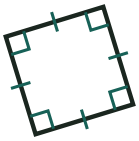	4	4
3		1	1
4	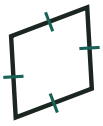	0	4