Trie les figures selon leurs angles droits · Cahier

Suis les consignes de chaque page et observe les figures. Un adulte peut lire les consignes à voix haute.

Prénom: _____ Date: _____

Inspection des pièces

Entoure la pièce qui correspond à l’indice. Utilise le modèle d’angle droit.

Un angle droit a la forme du modèle. Imagine que tu tournes le modèle.



1 Exactement 1 angle droit



A



B



C

2 4 côtés droits



A



B



C

3 4 angles droits



A



B



C

4 Aucun angle droit



A

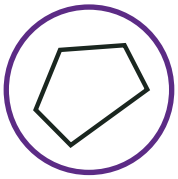

B



C

Trie les figures selon leurs angles droits · Cahier

Suis les consignes de chaque page et observe les figures. Un adulte peut lire les consignes à voix haute.

Prénom: _____ Date: _____

Les pièces du robot

Utilise le modèle d’angle droit. Coche une case par ligne.

Un angle droit a la forme du modèle. Imagine que tu tournes le modèle.



		Aucun angle droit	Au moins 1 angle droit
1		☑	☐
2		☑	☐
3		☐	☑
4		☑	☐
5	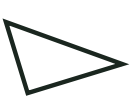	☐	☑
6		☐	☑

Trie les figures selon leurs angles droits · Cahier

Suis les consignes de chaque page et observe les figures. Un adulte peut lire les consignes à voix haute.

Prénom: _____ Date: _____

Carnet des figures

Compte les côtés droits et les angles droits. Écris les deux nombres.

Un angle droit a la forme du modèle. Imagine que tu tournes le modèle.



		Côtés droits	Angles droits
1		3	0
2		3	1
3	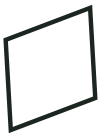	4	0
4		4	4