Clasifica figuras por sus ángulos rectos · Cuaderno

Lee las instrucciones de cada página y observa las figuras. Un adulto puede leerlas en voz alta.

Nombre: _____ Fecha: _____

Inspector de fichas

Rodea la ficha que cumple la pista. Usa el modelo de ángulo recto.

Un ángulo recto tiene la forma del modelo. Imagina que giras el modelo.



1 Exactamente 1 ángulo recto



A



B



C

2 4 lados rectos



A



B



C

3 4 ángulos rectos

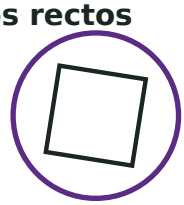

A



B



C

4 Sin ángulos rectos



A

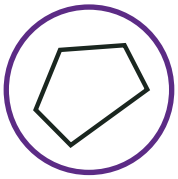

B



C

Clasifica figuras por sus ángulos rectos · Cuaderno

Lee las instrucciones de cada página y observa las figuras. Un adulto puede leerlas en voz alta.

Nombre: _____

Fecha: _____

Piezas del robot

Usa el modelo de ángulo recto. Marca una casilla en cada fila.

Un ángulo recto tiene la forma del modelo. Imagina que giras el modelo.



		Sin ángulos rectos	Al menos 1 ángulo recto
1		☑	☐
2		☑	☐
3		☐	☑
4		☑	☐
5	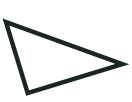	☐	☑
6		☐	☑

Clasifica figuras por sus ángulos rectos · Cuaderno

Lee las instrucciones de cada página y observa las figuras. Un adulto puede leerlas en voz alta.

Nombre: _____

Fecha: _____

Cuaderno de figuras

Cuenta los lados rectos y los ángulos rectos. Escribe los dos números.

Un ángulo recto tiene la forma del modelo. Imagina que giras el modelo.



		Lados rectos	Ángulos rectos
1		3	0
2		3	1
3	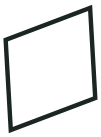	4	0
4		4	4