Figuren nach rechten Winkeln sortieren · Übungsheft

Lies die Aufgaben und schau dir die Figuren an. Ein Erwachsener kann dir die Aufgaben vorlesen.

Name: _____ Datum: _____

Formenprüfung

Kreise das passende Teil ein. Nutze die Winkelvorlage.

So sieht ein rechter Winkel aus. Stell dir vor, du drehst die Vorlage.



1 Genau 1 rechter Winkel



A



B



C

2 4 gerade Seiten



A



B



C

3 4 rechte Winkel



A



B



C

4 Kein rechter Winkel



A

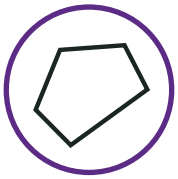

B



C

Figuren nach rechten Winkeln sortieren · Übungsheft

Lies die Aufgaben und schau dir die Figuren an. Ein Erwachsener kann dir die Aufgaben vorlesen.

Name: _____ Datum: _____

Teile für den Roboter

Nutze die Winkelvorlage. Kreuze pro Zeile ein Kästchen an.

So sieht ein rechter Winkel aus. Stell dir vor, du drehst die Vorlage.



		Kein rechter Winkel	Mindestens 1 rechter Winkel
1		☑	☐
2		☑	☐
3		☐	☑
4		☑	☐
5	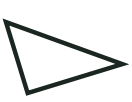	☐	☑
6		☐	☑

Figuren nach rechten Winkeln sortieren · Übungsheft

Lies die Aufgaben und schau dir die Figuren an. Ein Erwachsener kann dir die Aufgaben vorlesen.

Name: _____ Datum: _____

Formenheft

Zähle die geraden Seiten und die rechten Winkel. Schreibe beide Zahlen auf.

So sieht ein rechter Winkel aus. Stell dir vor, du drehst die Vorlage.



		Gerade Seiten	Rechte Winkel
1		3	0
2		3	1
3	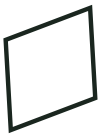	4	0
4		4	4