Valeur de position · Grande section · Cahier 01

Le cadre plein contient 10 points. Compte les points isolés ou dessine ceux qui manquent.

Prénom: _____ Date: _____

1. Compte tous les points. Dis ou écris le total.

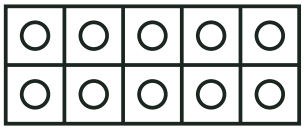 ○ ○ ○ ○ ○ ○ ○ 17

2. Dessine des points isolés pour en avoir 18 en tout.

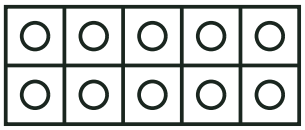 ○ ○ ○ ○ ○ ○ ○ ○

3. Compte tous les points. Dis ou écris le total.

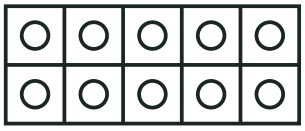 ○ ○ 12

4. Dessine des points isolés pour en avoir 11 en tout.

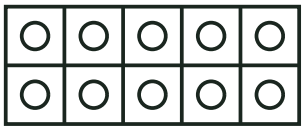 ○

5. Compte tous les points. Dis ou écris le total.

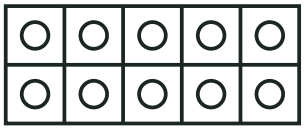 ○ ○ ○ ○ ○ 15

Valeur de position · Grande section · Cahier 01

Le cadre plein contient 10 points. Compte les points isolés ou dessine ceux qui manquent.

Prénom: _____ Date: _____

1. Compte tous les points. Dis ou écris le total.

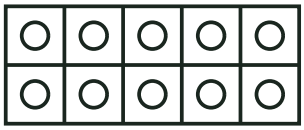 ○ ○ ○ ○ ○ ○ ○ ○ ○ 19

2. Dessine des points isolés pour en avoir 11 en tout.

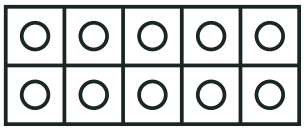 ○

3. Compte tous les points. Dis ou écris le total.

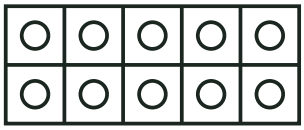 ○ ○ ○ ○ ○ ○ 16

4. Dessine des points isolés pour en avoir 15 en tout.

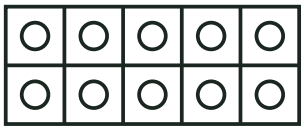 ○ ○ ○ ○ ○

5. Compte tous les points. Dis ou écris le total.

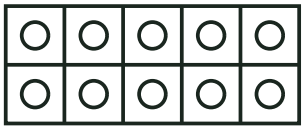 ○ ○ ○ ○ ○ ○ ○ 17