Valor posicional · Infantil · 5 años · Cuaderno 01

El cuadro lleno tiene 10 puntos. Cuenta los puntos sueltos o dibuja los que falten.

Nombre: _____ Fecha: _____

1. Cuenta todos los puntos. Di o escribe el total.



17

2. Dibuja puntos sueltos hasta tener 18 en total.



3. Cuenta todos los puntos. Di o escribe el total.

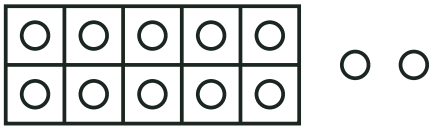

12

4. Dibuja puntos sueltos hasta tener 11 en total.

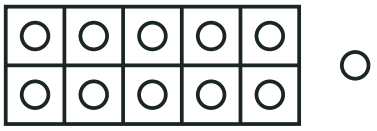

5. Cuenta todos los puntos. Di o escribe el total.

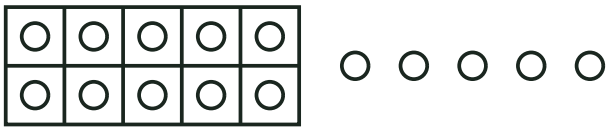

15

Valor posicional · Infantil · 5 años · Cuaderno 01

El cuadro lleno tiene 10 puntos. Cuenta los puntos sueltos o dibuja los que falten.

Nombre: _____ Fecha: _____

1. Cuenta todos los puntos. Di o escribe el total.

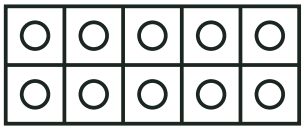

○ ○ ○ ○ ○ ○ ○ ○ ○ 19

2. Dibuja puntos sueltos hasta tener 11 en total.

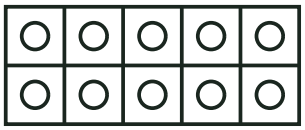

○

3. Cuenta todos los puntos. Di o escribe el total.

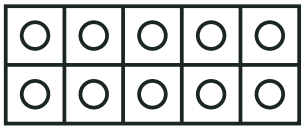

○ ○ ○ ○ ○ ○ 16

4. Dibuja puntos sueltos hasta tener 15 en total.

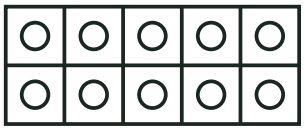

○ ○ ○ ○ ○

5. Cuenta todos los puntos. Di o escribe el total.

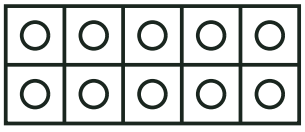

○ ○ ○ ○ ○ ○ ○ 17