Stellenwert · Letztes Kita-Jahr · Übungsheft 01

Das volle Zehnerfeld enthält 10 Punkte. Zähle die einzelnen Punkte oder zeichne die fehlenden.

Name: _____ Datum: _____

1. Zähle alle Punkte. Sage oder schreibe die Gesamtzahl.

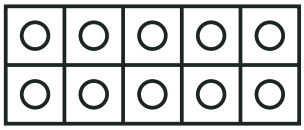

○ ○ ○ ○ ○ ○ ○ 17

2. Zeichne einzelne Punkte, bis es insgesamt 18 sind.

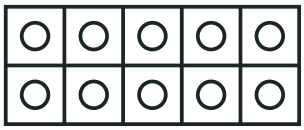

○ ○ ○ ○ ○ ○ ○ ○

3. Zähle alle Punkte. Sage oder schreibe die Gesamtzahl.

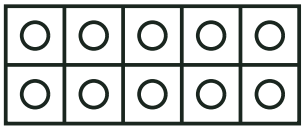

○ ○ 12

4. Zeichne einzelne Punkte, bis es insgesamt 11 sind.

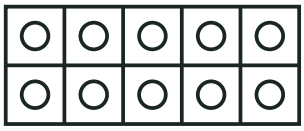

○

5. Zähle alle Punkte. Sage oder schreibe die Gesamtzahl.

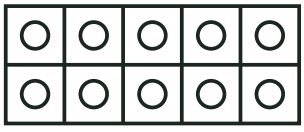

○ ○ ○ ○ ○ 15

Stellenwert · Letztes Kita-Jahr · Übungsheft 01

Das volle Zehnerfeld enthält 10 Punkte. Zähle die einzelnen Punkte oder zeichne die fehlenden.

Name: _____ Datum: _____

1. Zähle alle Punkte. Sage oder schreibe die Gesamtzahl.

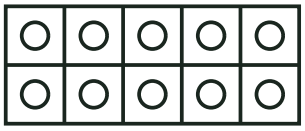

○ ○ ○ ○ ○ ○ ○ ○ ○ 19

2. Zeichne einzelne Punkte, bis es insgesamt 11 sind.

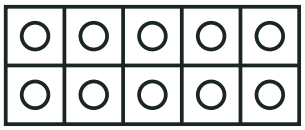

○

3. Zähle alle Punkte. Sage oder schreibe die Gesamtzahl.

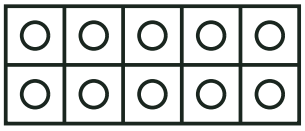

○ ○ ○ ○ ○ ○ 16

4. Zeichne einzelne Punkte, bis es insgesamt 15 sind.

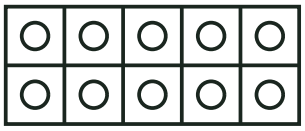

○ ○ ○ ○ ○

5. Zähle alle Punkte. Sage oder schreibe die Gesamtzahl.

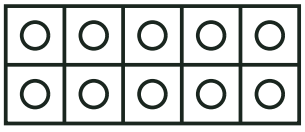

○ ○ ○ ○ ○ ○ ○ 17