Valeur de position · Grande section · Pour s’entraîner

Le cadre plein contient 10 points. Compte les points isolés ou dessine ceux qui manquent.

Prénom: _____

Date: _____

1. Compte tous les points. Dis ou écris le total.

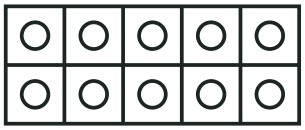

2. Dessine des points isolés pour en avoir 12 en tout.

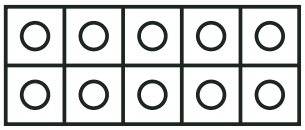

3. Compte tous les points. Dis ou écris le total.

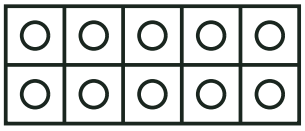

4. Dessine des points isolés pour en avoir 18 en tout.

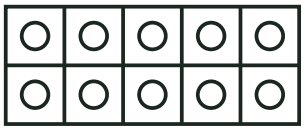

5. Compte tous les points. Dis ou écris le total.

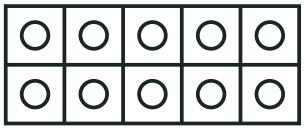

Valeur de position · Grande section · Pour s’entraîner

Le cadre plein contient 10 points. Compte les points isolés ou dessine ceux qui manquent.

Prénom: _____ Date: _____

1. Compte tous les points. Dis ou écris le total.

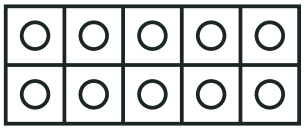

2. Dessine des points isolés pour en avoir 19 en tout.

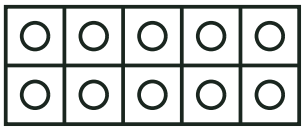

3. Compte tous les points. Dis ou écris le total.

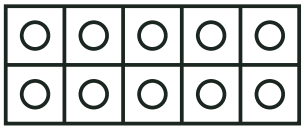

4. Dessine des points isolés pour en avoir 12 en tout.

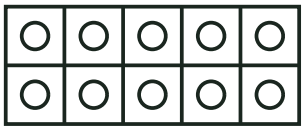

5. Compte tous les points. Dis ou écris le total.

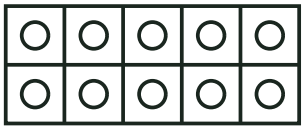

Valeur de position · Grande section · Pour s’entraîner

Le cadre plein contient 10 points. Compte les points isolés ou dessine ceux qui manquent.

Prénom: _____ Date: _____

1. Compte tous les points. Dis ou écris le total.



2. Dessine des points isolés pour en avoir 18 en tout.



3. Compte tous les points. Dis ou écris le total.



4. Dessine des points isolés pour en avoir 12 en tout.



5. Compte tous les points. Dis ou écris le total.

