Valor posicional · Infantil · 5 años · Práctica adicional

El cuadro lleno tiene 10 puntos. Cuenta los puntos sueltos o dibuja los que falten.

Nombre: _____ Fecha: _____

1. Cuenta todos los puntos. Di o escribe el total.

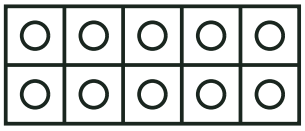

○ ○ ○ ○ ○ ○ 16

2. Dibuja puntos sueltos hasta tener 12 en total.

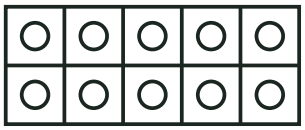

○ ○

3. Cuenta todos los puntos. Di o escribe el total.

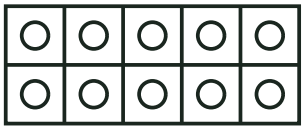

○ 11

4. Dibuja puntos sueltos hasta tener 18 en total.

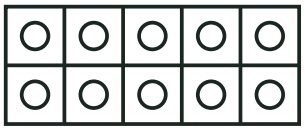

○ ○ ○ ○ ○ ○ ○ ○

5. Cuenta todos los puntos. Di o escribe el total.

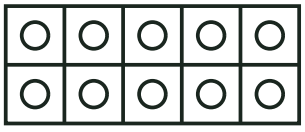

○ ○ ○ 13

Valor posicional · Infantil · 5 años · Práctica adicional

El cuadro lleno tiene 10 puntos. Cuenta los puntos sueltos o dibuja los que falten.

Nombre: _____ Fecha: _____

1. Cuenta todos los puntos. Di o escribe el total.

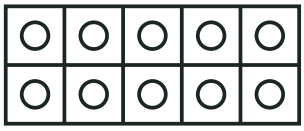

○ ○ ○

13

2. Dibuja puntos sueltos hasta tener 19 en total.

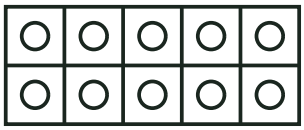

○ ○ ○ ○ ○ ○ ○ ○ ○

3. Cuenta todos los puntos. Di o escribe el total.

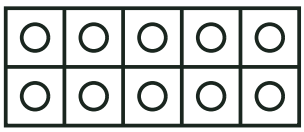

○ ○ ○ ○ ○

15

4. Dibuja puntos sueltos hasta tener 12 en total.

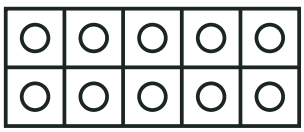

○ ○

5. Cuenta todos los puntos. Di o escribe el total.

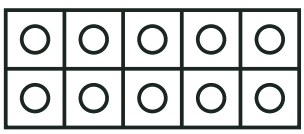

○ ○ ○ ○ ○ ○ ○ ○

18

Valor posicional · Infantil · 5 años · Práctica adicional

El cuadro lleno tiene 10 puntos. Cuenta los puntos sueltos o dibuja los que falten.

Nombre: _____ Fecha: _____

1. Cuenta todos los puntos. Di o escribe el total.



17

2. Dibuja puntos sueltos hasta tener 18 en total.



3. Cuenta todos los puntos. Di o escribe el total.

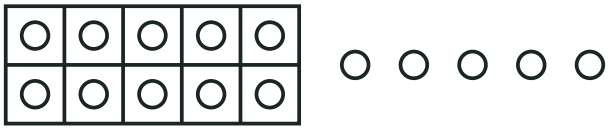

15

4. Dibuja puntos sueltos hasta tener 12 en total.

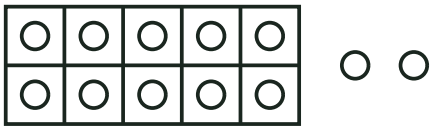

5. Cuenta todos los puntos. Di o escribe el total.

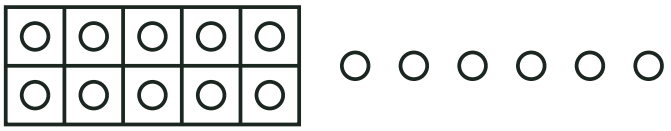

16