Valor posicional · Infantil · 5 años · Práctica adicional

El cuadro lleno tiene 10 puntos. Cuenta los puntos sueltos o dibuja los que falten.

Nombre: _____ Fecha: _____

1. Cuenta todos los puntos. Di o escribe el total.

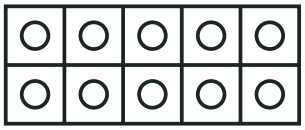

2. Dibuja puntos sueltos hasta tener 12 en total.

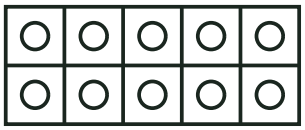

3. Cuenta todos los puntos. Di o escribe el total.

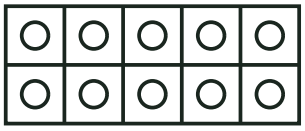

4. Dibuja puntos sueltos hasta tener 18 en total.

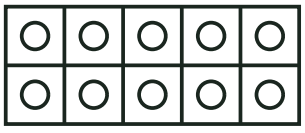

5. Cuenta todos los puntos. Di o escribe el total.

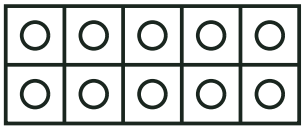

Valor posicional · Infantil · 5 años · Práctica adicional

El cuadro lleno tiene 10 puntos. Cuenta los puntos sueltos o dibuja los que falten.

Nombre: _____ Fecha: _____

1. Cuenta todos los puntos. Di o escribe el total.

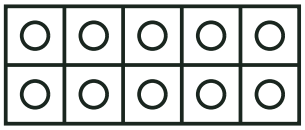

2. Dibuja puntos sueltos hasta tener 19 en total.

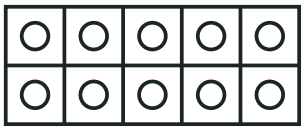

3. Cuenta todos los puntos. Di o escribe el total.

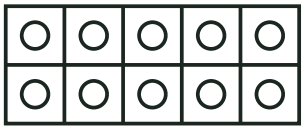

4. Dibuja puntos sueltos hasta tener 12 en total.

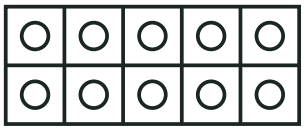

5. Cuenta todos los puntos. Di o escribe el total.

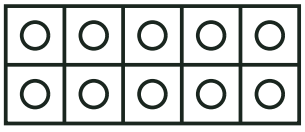

Valor posicional · Infantil · 5 años · Práctica adicional

El cuadro lleno tiene 10 puntos. Cuenta los puntos sueltos o dibuja los que falten.

Nombre: _____ Fecha: _____

1. Cuenta todos los puntos. Di o escribe el total.



2. Dibuja puntos sueltos hasta tener 18 en total.



3. Cuenta todos los puntos. Di o escribe el total.

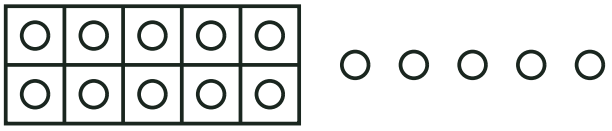

4. Dibuja puntos sueltos hasta tener 12 en total.



5. Cuenta todos los puntos. Di o escribe el total.

