Stellenwert · Letztes Kita-Jahr · Zusätzliche Übungen

Das volle Zehnerfeld enthält 10 Punkte. Zähle die einzelnen Punkte oder zeichne die fehlenden.

Name: _____ Datum: _____

1. Zähle alle Punkte. Sage oder schreibe die Gesamtzahl.

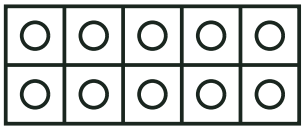

○ ○ ○ ○ ○ ○ 16

2. Zeichne einzelne Punkte, bis es insgesamt 12 sind.

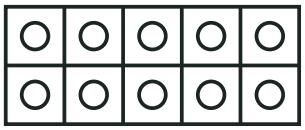

○ ○

3. Zähle alle Punkte. Sage oder schreibe die Gesamtzahl.

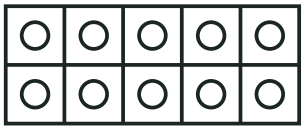

○ 11

4. Zeichne einzelne Punkte, bis es insgesamt 18 sind.

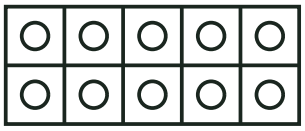

○ ○ ○ ○ ○ ○ ○ ○

5. Zähle alle Punkte. Sage oder schreibe die Gesamtzahl.

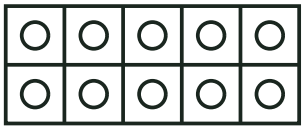

○ ○ ○ 13

Stellenwert · Letztes Kita-Jahr · Zusätzliche Übungen

Das volle Zehnerfeld enthält 10 Punkte. Zähle die einzelnen Punkte oder zeichne die fehlenden.

Name: _____ Datum: _____

1. Zähle alle Punkte. Sage oder schreibe die Gesamtzahl.

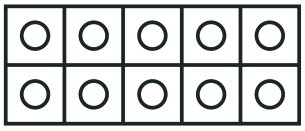

○ ○ ○ 13

2. Zeichne einzelne Punkte, bis es insgesamt 19 sind.

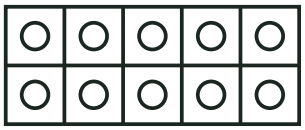

○ ○ ○ ○ ○ ○ ○ ○ ○

3. Zähle alle Punkte. Sage oder schreibe die Gesamtzahl.

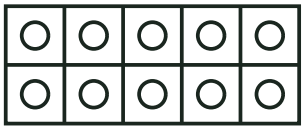

○ ○ ○ ○ ○ 15

4. Zeichne einzelne Punkte, bis es insgesamt 12 sind.

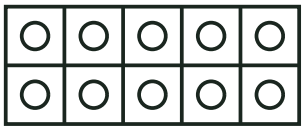

○ ○

5. Zähle alle Punkte. Sage oder schreibe die Gesamtzahl.

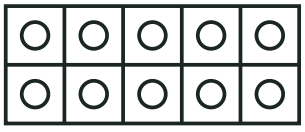

○ ○ ○ ○ ○ ○ ○ ○ 18

Stellenwert · Letztes Kita-Jahr · Zusätzliche Übungen

Das volle Zehnerfeld enthält 10 Punkte. Zähle die einzelnen Punkte oder zeichne die fehlenden.

Name: _____ Datum: _____

1. Zähle alle Punkte. Sage oder schreibe die Gesamtzahl.

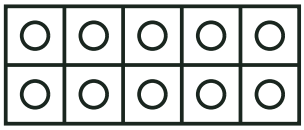

○ ○ ○ ○ ○ ○ ○ 17

2. Zeichne einzelne Punkte, bis es insgesamt 18 sind.

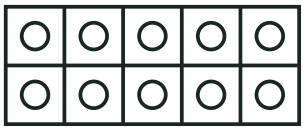

○ ○ ○ ○ ○ ○ ○ ○

3. Zähle alle Punkte. Sage oder schreibe die Gesamtzahl.

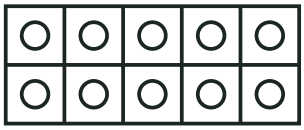

○ ○ ○ ○ ○ 15

4. Zeichne einzelne Punkte, bis es insgesamt 12 sind.

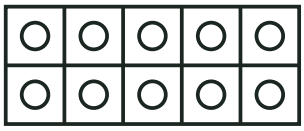

○ ○

5. Zähle alle Punkte. Sage oder schreibe die Gesamtzahl.

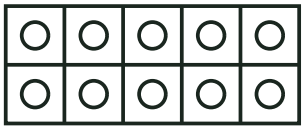

○ ○ ○ ○ ○ ○ 16