Rangées et additions répétées · Cahier 01

Chaque rangée contient autant de carrés. Compte-les et complète l'addition répétée dans la case.

Prénom: _____

Date: _____

4 + 4 = 8



2 + 2 + 2 = 6



2 + 2 = 4



4 + 4 + 4 + 4 = 16



3 + 3 = 6



5 + 5 + 5 + 5 + 5 = 25



Rangées et additions répétées · Cahier 01

Chaque rangée contient autant de carrés. Compte-les et complète l'addition répétée dans la case.

Prénom: _____

Date: _____

4 = 4

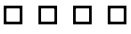

1 + 1 + 1 + 1 = 4



2 + 2 = 4



3 = 3



3 + 3 = 6



5 + 5 = 10



Rangées et additions répétées · Cahier 01

Chaque rangée contient autant de carrés. Compte-les et complète l'addition répétée dans la case.

Prénom: _____

Date: _____

3 + 3 + 3 + 3 + 3 = 15



5 + 5 + 5 = 15



1 = 1



4 + 4 + 4 + 4 = 16



3 = 3



5 + 5 + 5 + 5 + 5 = 25



Rangées et additions répétées · Cahier 01

Chaque rangée contient autant de carrés. Compte-les et complète l'addition répétée dans la case.

Prénom: _____

Date: _____

3 + 3 + 3 + 3 + 3 = 15



5 + 5 + 5 + 5 + 5 = 25



3 + 3 + 3 = 9



5 = 5



2 + 2 = 4



4 + 4 + 4 + 4 + 4 = 20



Rangées et additions répétées · Cahier 01

Chaque rangée contient autant de carrés. Compte-les et complète l'addition répétée dans la case.

Prénom: _____

Date: _____

5 + 5 + 5 + 5 + 5 = 25



4 + 4 = 8



3 + 3 + 3 + 3 + 3 = 15



3 + 3 + 3 = 9



2 + 2 = 4



4 + 4 + 4 + 4 + 4 = 20

