Rangées et additions répétées · Cahier 01

Chaque rangée contient autant de carrés. Compte-les et complète l'addition répétée dans la case.

Prénom: _____ Date: _____

4 + 4 = ☐



2 + 2 + 2 = ☐



2 + 2 = ☐



4 + 4 + 4 + 4 = ☐



3 + 3 = ☐



5 + 5 + 5 + 5 + 5 = ☐



Rangées et additions répétées · Cahier 01

Chaque rangée contient autant de carrés. Compte-les et complète l'addition répétée dans la case.

Prénom: _____ Date: _____

4 = ☐

□ □ □ □

1 + 1 + 1 + 1 = ☐

□
□
□
□

2 + 2 = ☐

□ □
□ □

3 = ☐

□ □ □

3 + 3 = ☐

□ □ □
□ □ □

5 + 5 = ☐

□ □ □ □ □
□ □ □ □ □

Rangées et additions répétées · Cahier 01

Chaque rangée contient autant de carrés. Compte-les et complète l'addition répétée dans la case.

Prénom: _____ Date: _____

3 + 3 + 3 + 3 + 3 = ☐



5 + 5 + 5 = ☐



1 = ☐



4 + 4 + 4 + 4 = ☐



3 = ☐



5 + 5 + 5 + 5 + 5 = ☐



Rangées et additions répétées · Cahier 01

Chaque rangée contient autant de carrés. Compte-les et complète l'addition répétée dans la case.

Prénom: _____ Date: _____

3 + 3 + 3 + 3 + 3 = ☐



5 + 5 + 5 + 5 + 5 = ☐



3 + 3 + 3 = ☐



5 = ☐



2 + 2 = ☐



4 + 4 + 4 + 4 + 4 = ☐



Rangées et additions répétées · Cahier 01

Chaque rangée contient autant de carrés. Compte-les et complète l'addition répétée dans la case.

Prénom: _____ Date: _____

5 + 5 + 5 + 5 + 5 = ☐



4 + 4 = ☐



3 + 3 + 3 + 3 + 3 = ☐



3 + 3 + 3 = ☐



2 + 2 = ☐



4 + 4 + 4 + 4 + 4 = ☐

