Filas iguales y sumas repetidas · Cuaderno 01

Cada fila es un grupo con la misma cantidad. Cuenta los cuadrados y completa la suma repetida en el recuadro.

Nombre: _____ Fecha: _____

4 + 4 = 8



2 + 2 + 2 = 6



2 + 2 = 4



4 + 4 + 4 + 4 = 16



3 + 3 = 6



5 + 5 + 5 + 5 + 5 = 25



Filas iguales y sumas repetidas · Cuaderno 01

Cada fila es un grupo con la misma cantidad. Cuenta los cuadrados y completa la suma repetida en el recuadro.

Nombre: _____ Fecha: _____

4 = 4

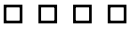

1 + 1 + 1 + 1 = 4



2 + 2 = 4



3 = 3



3 + 3 = 6



5 + 5 = 10



Filas iguales y sumas repetidas · Cuaderno 01

Cada fila es un grupo con la misma cantidad. Cuenta los cuadrados y completa la suma repetida en el recuadro.

Nombre: _____

Fecha: _____

3 + 3 + 3 + 3 + 3 = 15



5 + 5 + 5 = 15



1 = 1



4 + 4 + 4 + 4 = 16



3 = 3



5 + 5 + 5 + 5 + 5 = 25



Filas iguales y sumas repetidas · Cuaderno 01

Cada fila es un grupo con la misma cantidad. Cuenta los cuadrados y completa la suma repetida en el recuadro.

Nombre: _____

Fecha: _____

3 + 3 + 3 + 3 + 3 = 15



5 + 5 + 5 + 5 + 5 = 25



3 + 3 + 3 = 9



5 = 5



2 + 2 = 4



4 + 4 + 4 + 4 + 4 = 20



Filas iguales y sumas repetidas · Cuaderno 01

Cada fila es un grupo con la misma cantidad. Cuenta los cuadrados y completa la suma repetida en el recuadro.

Nombre: _____ Fecha: _____

5 + 5 + 5 + 5 + 5 = 25



4 + 4 = 8



3 + 3 + 3 + 3 + 3 = 15



3 + 3 + 3 = 9



2 + 2 = 4



4 + 4 + 4 + 4 + 4 = 20

