Filas iguales y sumas repetidas · Cuaderno 01

Cada fila es un grupo con la misma cantidad. Cuenta los cuadrados y completa la suma repetida en el recuadro.

Nombre: _____ Fecha: _____

4 + 4 = ☐



2 + 2 + 2 = ☐



2 + 2 = ☐



4 + 4 + 4 + 4 = ☐



3 + 3 = ☐



5 + 5 + 5 + 5 + 5 = ☐



Filas iguales y sumas repetidas · Cuaderno 01

Cada fila es un grupo con la misma cantidad. Cuenta los cuadrados y completa la suma repetida en el recuadro.

Nombre: _____ Fecha: _____

4 = ☐

□ □ □ □

1 + 1 + 1 + 1 = ☐

□
□
□
□

2 + 2 = ☐

□ □
□ □

3 = ☐

□ □ □

3 + 3 = ☐

□ □ □
□ □ □

5 + 5 = ☐

□ □ □ □ □
□ □ □ □ □

Filas iguales y sumas repetidas · Cuaderno 01

Cada fila es un grupo con la misma cantidad. Cuenta los cuadrados y completa la suma repetida en el recuadro.

Nombre: _____ Fecha: _____

3 + 3 + 3 + 3 + 3 = ☐



5 + 5 + 5 = ☐



1 = ☐



4 + 4 + 4 + 4 = ☐



3 = ☐



5 + 5 + 5 + 5 + 5 = ☐



Filas iguales y sumas repetidas · Cuaderno 01

Cada fila es un grupo con la misma cantidad. Cuenta los cuadrados y completa la suma repetida en el recuadro.

Nombre: _____ Fecha: _____

3 + 3 + 3 + 3 + 3 = ☐



5 + 5 + 5 + 5 + 5 = ☐



3 + 3 + 3 = ☐



5 = ☐



2 + 2 = ☐



4 + 4 + 4 + 4 + 4 = ☐



Filas iguales y sumas repetidas · Cuaderno 01

Cada fila es un grupo con la misma cantidad. Cuenta los cuadrados y completa la suma repetida en el recuadro.

Nombre: _____ Fecha: _____

5 + 5 + 5 + 5 + 5 = ☐



4 + 4 = ☐



3 + 3 + 3 + 3 + 3 = ☐



3 + 3 + 3 = ☐



2 + 2 = ☐



4 + 4 + 4 + 4 + 4 = ☐

