Gleiche Reihen und wiederholtes Addieren · Übungsheft 01

Jede Reihe enthält gleich viele Kästchen. Zähle sie und ergänze das Ergebnis der Plusaufgabe im Antwortfeld.

Name: _____ Datum: _____

4 + 4 = 8



2 + 2 + 2 = 6



2 + 2 = 4



4 + 4 + 4 + 4 = 16



3 + 3 = 6



5 + 5 + 5 + 5 + 5 = 25



Gleiche Reihen und wiederholtes Addieren · Übungsheft 01

Jede Reihe enthält gleich viele Kästchen. Zähle sie und ergänze das Ergebnis der Plusaufgabe im Antwortfeld.

Name: _____ Datum: _____

4 = 4

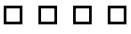

1 + 1 + 1 + 1 = 4



2 + 2 = 4



3 = 3



3 + 3 = 6



5 + 5 = 10



Gleiche Reihen und wiederholtes Addieren · Übungsheft 01

Jede Reihe enthält gleich viele Kästchen. Zähle sie und ergänze das Ergebnis der Plusaufgabe im Antwortfeld.

Name: _____

Datum: _____

3 + 3 + 3 + 3 + 3 = 15



5 + 5 + 5 = 15



1 = 1



4 + 4 + 4 + 4 = 16



3 = 3



5 + 5 + 5 + 5 + 5 = 25



Gleiche Reihen und wiederholtes Addieren · Übungsheft 01

Jede Reihe enthält gleich viele Kästchen. Zähle sie und ergänze das Ergebnis der Plusaufgabe im Antwortfeld.

Name: _____

Datum: _____

3 + 3 + 3 + 3 + 3 = 15



5 + 5 + 5 + 5 + 5 = 25



3 + 3 + 3 = 9



5 = 5



2 + 2 = 4



4 + 4 + 4 + 4 + 4 = 20



Gleiche Reihen und wiederholtes Addieren · Übungsheft 01

Jede Reihe enthält gleich viele Kästchen. Zähle sie und ergänze das Ergebnis der Plusaufgabe im Antwortfeld.

Name: _____

Datum: _____

5 + 5 + 5 + 5 + 5 = 25



4 + 4 = 8



3 + 3 + 3 + 3 + 3 = 15



3 + 3 + 3 = 9



2 + 2 = 4



4 + 4 + 4 + 4 + 4 = 20

