Gleiche Reihen und wiederholtes Addieren · Übungsheft 01

Jede Reihe enthält gleich viele Kästchen. Zähle sie und ergänze das Ergebnis der Plusaufgabe im Antwortfeld.

Name: _____ Datum: _____

4 + 4 = ☐



2 + 2 + 2 = ☐



2 + 2 = ☐



4 + 4 + 4 + 4 = ☐



3 + 3 = ☐



5 + 5 + 5 + 5 + 5 = ☐



Gleiche Reihen und wiederholtes Addieren · Übungsheft 01

Jede Reihe enthält gleich viele Kästchen. Zähle sie und ergänze das Ergebnis der Plusaufgabe im Antwortfeld.

Name: _____ Datum: _____

4 = ☐

1 + 1 + 1 + 1 = ☐



2 + 2 = ☐



3 = ☐



3 + 3 = ☐



5 + 5 = ☐



Gleiche Reihen und wiederholtes Addieren · Übungsheft 01

Jede Reihe enthält gleich viele Kästchen. Zähle sie und ergänze das Ergebnis der Plusaufgabe im Antwortfeld.

Name: _____ Datum: _____

3 + 3 + 3 + 3 + 3 = ☐



5 + 5 + 5 = ☐



1 = ☐



4 + 4 + 4 + 4 = ☐



3 = ☐



5 + 5 + 5 + 5 + 5 = ☐



Gleiche Reihen und wiederholtes Addieren · Übungsheft 01

Jede Reihe enthält gleich viele Kästchen. Zähle sie und ergänze das Ergebnis der Plusaufgabe im Antwortfeld.

Name: _____

Datum: _____

3 + 3 + 3 + 3 + 3 = ☐



5 + 5 + 5 + 5 + 5 = ☐



3 + 3 + 3 = ☐



5 = ☐



2 + 2 = ☐



4 + 4 + 4 + 4 + 4 = ☐



Gleiche Reihen und wiederholtes Addieren · Übungsheft 01

Jede Reihe enthält gleich viele Kästchen. Zähle sie und ergänze das Ergebnis der Plusaufgabe im Antwortfeld.

Name: _____ Datum: _____

5 + 5 + 5 + 5 + 5 = ☐



4 + 4 = ☐



3 + 3 + 3 + 3 + 3 = ☐



3 + 3 + 3 = ☐



2 + 2 = ☐



4 + 4 + 4 + 4 + 4 = ☐

