Compare les centimètres et les millimètres · Cahier

Utilise les dessins de la feuille. Un adulte peut lire les consignes à voix haute.

Prénom: _____ Date: _____

Les rubans du pont

Écris la lettre du ruban le plus long. 1 cm = 10 mm.

1

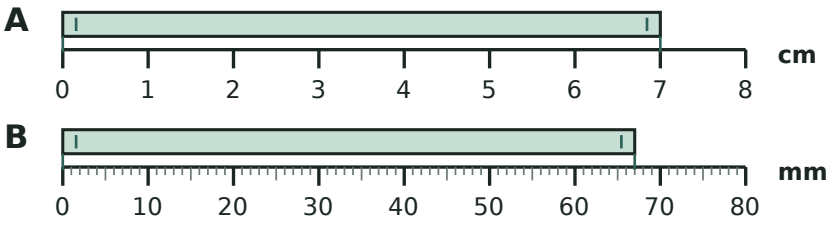

2

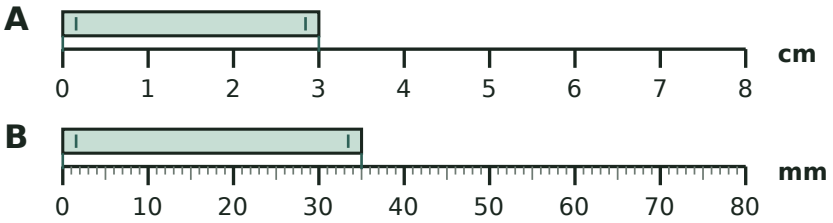

3

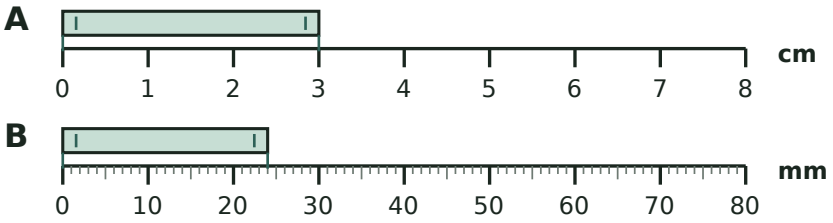

4

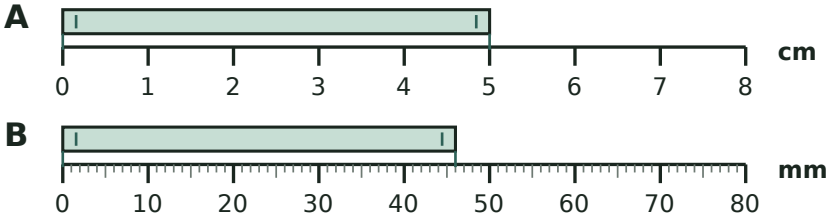

Compare les centimètres et les millimètres · Cahier

Utilise les dessins de la feuille. Un adulte peut lire les consignes à voix haute.

Prénom: _____ Date: _____

Construis un chemin

Écris les lettres des deux pièces qui conviennent. 1 cm = 10 mm.

1



A 3 cm

B 38 mm

C 21 mm

D 27 mm

2



A 38 mm

B 27 mm

C 21 mm

D 3 cm

3



A 21 mm

B 3 cm

C 38 mm

D 27 mm

4



A 16 mm

B 2 cm

C 33 mm

D 22 mm