Compara centímetros y milímetros · Cuaderno

Usa los dibujos de la hoja. Un adulto puede leer las instrucciones en voz alta.

Nombre: _____ Fecha: _____

Cintas del puente

Escribe la letra de la cinta más larga. 1 cm = 10 mm.

1

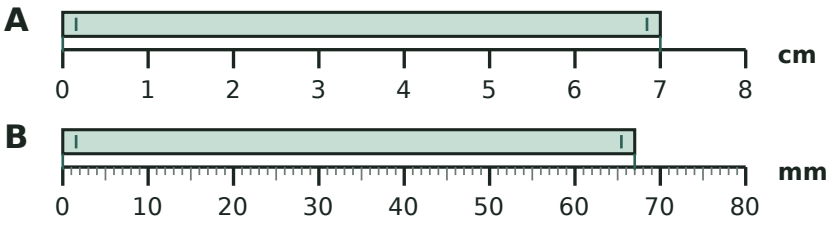

A

2

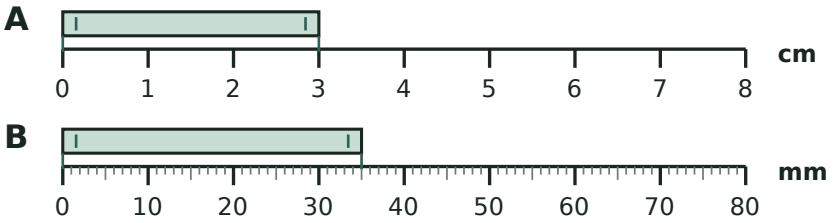

B

3

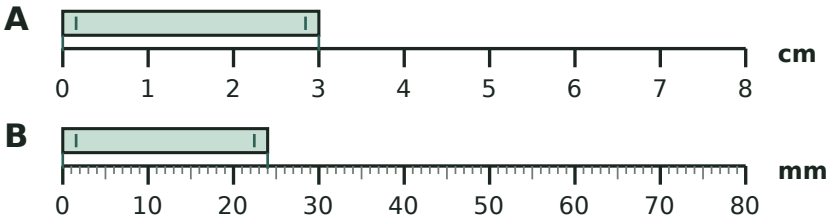

A

4

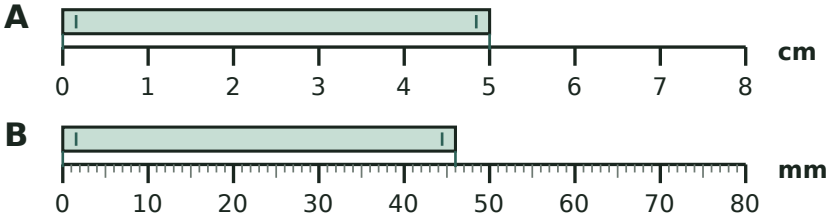

A

Compara centímetros y milímetros · Cuaderno

Usa los dibujos de la hoja. Un adulto puede leer las instrucciones en voz alta.

Nombre: _____ Fecha: _____

Construye un camino

Escribe las letras de las dos piezas que encajan. 1 cm = 10 mm.

1



A 3 cm

B 38 mm

C 21 mm

D 27 mm

A B

2



A 38 mm

B 27 mm

C 21 mm

D 3 cm

B D

3



A 21 mm

B 3 cm

C 38 mm

D 27 mm

A B

4



A 16 mm

B 2 cm

C 33 mm

D 22 mm

B D
