Zentimeter und Millimeter vergleichen · Übungsheft

Nutze die Bilder auf dem Blatt. Ein Erwachsener kann die Anweisungen vorlesen.

Name: _____ Datum: _____

Bänder für die Brücke

Schreibe den Buchstaben des längeren Bands. 1 cm = 10 mm.

1

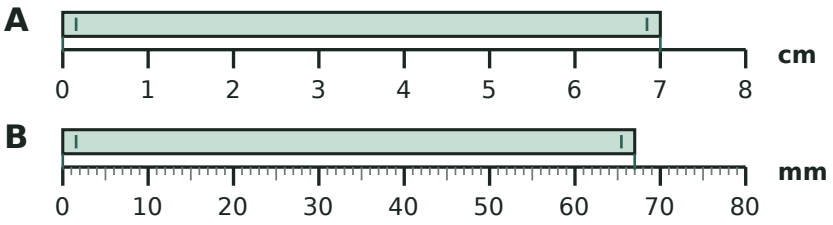

2

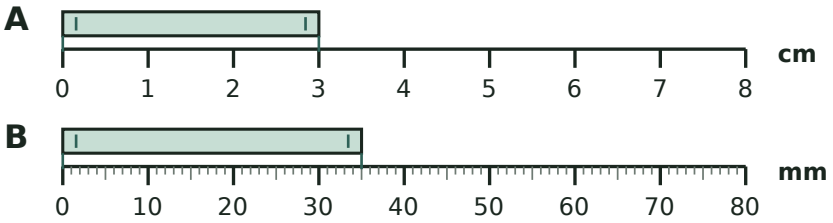

3

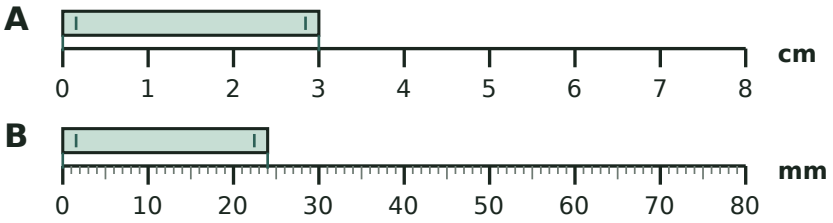

4

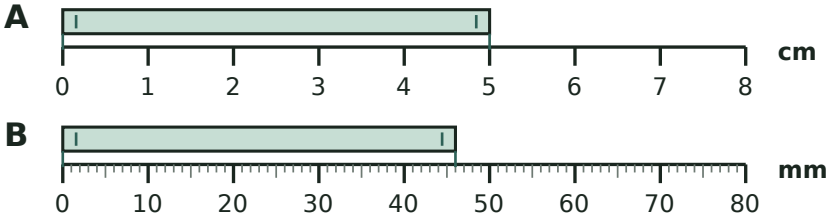

Zentimeter und Millimeter vergleichen · Übungsheft

Nutze die Bilder auf dem Blatt. Ein Erwachsener kann die Anweisungen vorlesen.

Name: _____ Datum: _____

Baue einen Gartenweg

Schreibe die Buchstaben der zwei passenden Teile. 1 cm = 10 mm.

1



A 3 cm

B 38 mm

C 21 mm

D 27 mm

2



A 38 mm

B 27 mm

C 21 mm

D 3 cm

3



A 21 mm

B 3 cm

C 38 mm

D 27 mm

4



A 16 mm

B 2 cm

C 33 mm

D 22 mm