Mesure en partant d’une autre graduation · Cahier

Utilise les dessins de la feuille. Un adulte peut lire les consignes à voix haute.

Prénom: _____

Date: _____

Les rubans du pont

Lis les deux extrémités. Quelle est la longueur du ruban ?

1



9 cm

2



6 cm

3



7 cm

4



8 cm

Mesure en partant d’une autre graduation · Cahier

Utilise les dessins de la feuille. Un adulte peut lire les consignes à voix haute.

Prénom: _____

Date: _____

Construis un chemin

Quelle est la longueur de la pièce manquante ?

1



3 cm

2



2 cm

3



6 cm

4



8 cm
