Mesure en partant d’une autre graduation · Cahier

Utilise les dessins de la feuille. Un adulte peut lire les consignes à voix haute.

Prénom: _____ Date: _____

Les rubans du pont

Lis les deux extrémités. Quelle est la longueur du ruban ?

1



cm

2



cm

3



cm

4

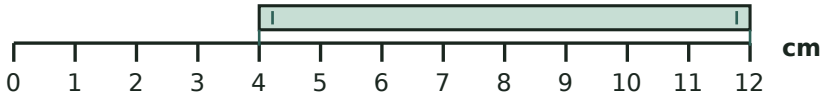

cm

Mesure en partant d’une autre graduation · Cahier

Utilise les dessins de la feuille. Un adulte peut lire les consignes à voix haute.

Prénom: _____ Date: _____

Construis un chemin

Quelle est la longueur de la pièce manquante ?

1



[ ] cm

2



[ ] cm

3



[ ] cm

4



[ ] cm
