Nombra las partes iguales · Cuaderno 01

Cada barra es un entero. Cuenta y nombra las partes grises: por ejemplo, 2 tercios. Usa medios, tercios o cuartos.

Nombre: _____ Fecha: _____

1.

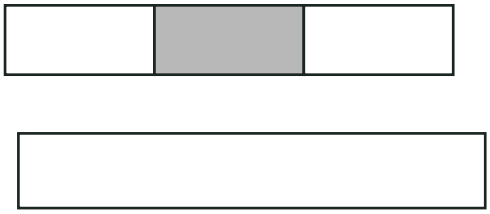

2.

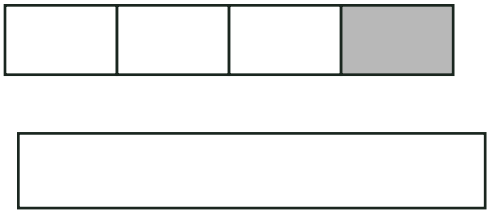

3.

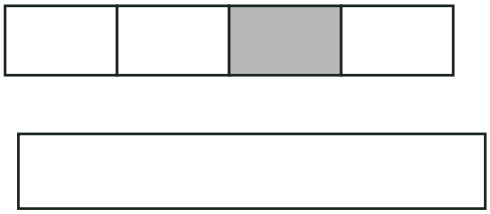

4.

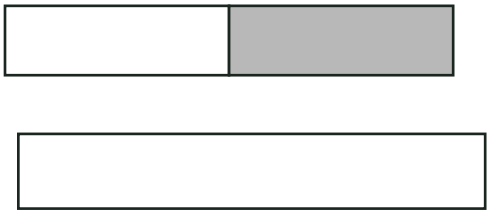

5.

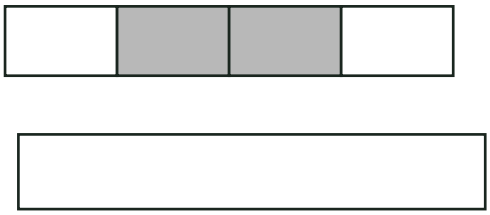

6.

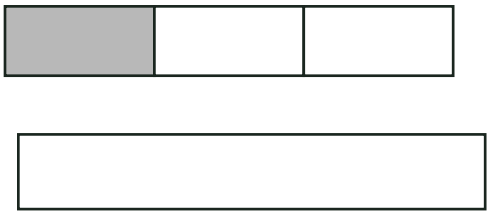

Nombra las partes iguales · Cuaderno 01

Cada barra es un entero. Cuenta y nombra las partes grises: por ejemplo, 2 tercios. Usa medios, tercios o cuartos.

Nombre: _____ Fecha: _____

1.



2.



3.



4.



5.



6.



Nombra las partes iguales · Cuaderno 01

Cada barra es un entero. Cuenta y nombra las partes grises: por ejemplo, 2 tercios. Usa medios, tercios o cuartos.

Nombre: _____ Fecha: _____

1.



2.



3.



4.



5.



6.



Nombra las partes iguales · Cuaderno 01

Cada barra es un entero. Cuenta y nombra las partes grises: por ejemplo, 2 tercios. Usa medios, tercios o cuartos.

Nombre: _____ Fecha: _____

1.



2.



3.



4.



5.



6.



Nombra las partes iguales · Cuaderno 01

Cada barra es un entero. Cuenta y nombra las partes grises: por ejemplo, 2 tercios. Usa medios, tercios o cuartos.

Nombre: _____ Fecha: _____

1.



2.



3.



4.



5.



6.

